BERIKUT ADALAH BEBERAPA SOAL UM UTUL UGM DALAM BEBERAPA TAHUN

(VERSI SINGKAT dan ada tanda tulisan kampungsoal.com di BACKGROUND).

UNTUK SOAL PEMBAHASAN LEBIH LENGKAP dan tanpa ada tanda tulisan, KAMU TERLEBIH DAHULU HARUS MENJADI MEMBER ”Kampung Soal”

Kampungsoal.com

Atau
Hubungi kami di :

KAMPUNG SOAL
Peluang 98% Menuju Kampus Favorit
Shopee tokopedia BukaLapak
ID Toko : KAMPUNG SOAL
0822-8888-7628
www.kampungsoal.com
kampungsoal

Kata kakak kelas di "UGM" nih …

"Belajar 1 bulan aja bisa tembus fakultas Pertanian, gimana kalau belajar lebih awal."
Mia
Fakultas Pertanian UGM

"Buku terbaik untuk belajar, khususnya nembus Utul UGM. The best lah."
Anshari
Fakultas Teknik UGM

"Bukunya enak dipelajari, serasa ngerjain ujian beneran. Karena bukunya dibuat per paket soal per tahun."
Marissa
Fakultas Kedokteran UGM

"Belajar buat UN sembari Utul UGM, dengan buku ini jadi tambah mudah. Terimakasih Bang Arkha."
Juniar
Fakultas EkoBis UGM

"Anak saya diterima di Fakultas Kedokteran UGM berkat usaha dan doa serta materi dari buku ini."
Echi
Fakultas Kedokteran UGM

"100% rekomend buat junior ku. Aku lulus di pilihan pertama."
Kria
Fakultas ISIPOL UGM

"Metode 4KU yang ada di buku ini benar-benar mengubah teknik belajar ku. Baru faham."
Cici
Fakultas Hukum UGM

"Bang Arkha, aku cuma bisa ngasi 4 jempol buat buku dan karyanya. Sukses terus yaaa."
Ucil
Fakultas Farmasi UGM

"Gak nyangka banget, soal TPA nya banyak yang keluar lagi di tahun ini."
Jonathan
Fakultas Peternakan UGM

"Tiap tahun, aku siap jadi resellernya bang. Lumayan masuk dompet."
Dovi
Fakultas EkoBis UGM

"Pilihan kedua pun tidak masalah, karena rangking di sekolah emang agak menyedihkan (^_^)."
Rian
Fakultas MIPA UGM

"Buku ini sangat luar biasa. Bahkan pembahasannya dibuat dengan sangat lengkap."
Lesmana
Fakultas EkoBis UGM

"Buku ini murni didedikasikan untuk para perjuang Ujian Masuk melalui Utul UGM.

Sedikit cerita:

Saya adalah salah satu pejuang Utul UGM, sama seperti kalian saat ini. Dulunya saya juga kebingungan untuk memilih buku panduan dan buku latihan soal. Di luar sana ada sangat banyak pilihan yang menggiurkan. Setelah melakukan perbandingan, akhirnya saya memutuskan untuk memiliki buku dari Kampung Soal. Alasannya sederhana, karena buku ini buku yang super bagus, soalnya yang dibahas per tahun, informasi terkait yang lengkap, dan informasi tambahan melalui grup khusus member yang pastinya tidak akan kamu dapatkan di buku lain.

Intinya, buku ini tidak hanya tentang membahas soal, tetapi juga menuntun kamu dengan cara terbaik bagaimana LULUS di JURUSAN yang KAMU INGINKAN. Selamat berjuang guys, buku ini tentunya akan jadi panduan terbaikmu. Sampai ketemu di Universitas Gadjah Mada."
Kirana
Fakultas Kedokteran UGM

kampungsoal.com

Kata kakak kelas di "UNDIP" nih …

"Aku mau berterimakasih sekali sama bukunya karena sangat membantu banget. Alhamdulillah, akhirnya aku keterima di pilihan pertama."
Asyar
Fakultas Kedokteran UNDIP

"Alhamdulillah kak banyak soal yang mirip plek tinggal bunderin doang. Akhirnya aku bisa kuliah di UNDIP berkat bantuan buku kakak."
Bayu
Fakultas SainsMatem UNDIP

"Walaupun belinya mepet tapi alhamdulillah pembahasan di buku ini mudah dipelajari. Aku keterima FEB UNDIP min, makasih banyak ya Kampung Soal."
Diana
Fakultas EkoBis UNDIP

"Alhamdulillah berkat buku kakak aku bisa masuk undip kak. Terharu di dalamnya banyak banget soal yang kembar-kembar. Terimakasih banyak kak."
Zaskia
Fakultas Isipol UNDIP

"Terimakasih banget bukunya sangat membantu saya ngerjain soal dan banyak soal yang keluar dari buku ini. Pokoknya the best Kampung Soal."
Rudi
Fakultas Teknik UNDIP

"Waktu ngerjain soal aku senyum-senyum sendiri karena ternyata banyak banget yang mirip dengan buku ini. Makasih kak sudah membantu aku."
Rizkya
Fakultas KesMas UNDIP

"Thanks ya kak soalnya banyak yang hampir mirip dan ada juga yang sama. Seketika yakin sama jawaban-jawabannya, dan puji Tuhan aku keterima."
Fiona
Fakultas Hukum UNDIP

"Buku ini lengkap banget gak cuma bahas soal tapi juga ngarahin kita untuk tau tips trick ngerjain soal dan milih jurusan. Makasih kak aku keterima nih."
Lita
Fakultas Kedokteran UNDIP

"Big thanks to Kampung Soal. Berkat buku ini saya bisa kuliah di jurusan yang saya impikan. Sukses terus Kampung Soal."
Teddy
Fakultas Teknik UNDIP

"Kenalkan, namaku Nathan. Aku tamatan tahun sebelumnya yang ingin sekali kuliah di Kedokteran UNDIP, karena kebetulan rumahku di kota Semarang.

Aku pernah mengikuti UM UNDIP pada tahun sebelumnya dan hanya lolos pada pilihan ke-3. Sebenarnya buku yang sudah aku pelajari sangat banyak, tetapi masih saja belum mendapatkan hasil yang maksimal. Mulai dari buku SBMPTN hingga buku UNDIP yang lain.

Lalu aku mencoba pada tahun berikutnya dengan belajar lebih giat dan memastikan mencari buku yang lebih baik untuk dipelajari. Awal ceritanya ada teman yang menawarkan untuk membuka website kampungsoal.com. Lalu ia meminta aku untuk mempelajari buku tersebut. Singkat cerita, setelah aku mendapatkan bukunya, aku pelajari dan ternyata sangat menyenangkan. Bukan hanya ada soal dan pembahasan. Tapi banyak teknik belajar dan informasi lainnya yang sangat berguna di dalam buku ini. Seluruhnya aku praktekkan halaman demi halaman. Pada saat ujian, aku kaget, ada banyak soal yang sama dan keluar lagi. Sehingga menjawab soal jadi gampang. Dan syukur akhirnya aku diterima di Fakultas Kodekteran. TERIMA KASIH KAMPUNG SOAL (^_^)."
Nathan
Fakultas Kedokteran UNDIP

kampungsoal.com

KAMPUNG SOAL | UGM UNDIP UI

Ujian Masuk **UM**
Ujian Tulis **Utul**
Universitas Gadjah Mada **UGM**

SOAL PEMBAHASAN LENGKAP
+ TEKNIK JITU 98% LOLOS

+ SOAL ASLI TKDU 2009-2019
+ Disusun Urut per Paket SOAL ASLI
+ PAKET PREDIKSI SOAL 2020
+ Daftar PASSING GRADE Ekslusif
+ TEKNIK HITUNG Passing Grade
+ Strategi SUKSES Memilih Jurusan
+ TEKNIK JITU Jawab Soal Psikotes
+ Informasi BEASISWA Terbaru
+ Skema KISI-KISI Soal

BONUS++ :

+ Link Soal Pembahasan 2005-2008
+ Teknik Belajar Efektif 4KU
+ Daftar Program Studi dan Prospek Masa Depan
+ Update Informasi melalui Grup WA & Instagram
+ Peta Kampus
+ Contoh Lembaran (LJK) UGM
+ Pengetahuan tentang Utul UGM

PAKET SOSHUM 2020 **NEW

- Sejarah
- Ekonomi
- Geografi
- Sosiologi

DAFTAR ISI

Halaman Sampul 1
Hak Cipta Buku 2
Daftar Isi 3
Tim Penulis 4
Layanan Purna Jual 5
Skema Kisi-Kisi Materi Soal 6
SOSHUM 2009 : Soal 11
: Pembahasan 20
SOSHUM 2010 : Soal 26
: Pembahasan 34
SOSHUM 2013 : Soal 41
: Pembahasan 49
SOSHUM 2014 : Soal 54
: Pembahasan 62
SOSHUM 2015 : Soal 68
: Pembahasan 77
SOSHUM 2016 : Soal 82
: Pembahasan 91
SOSHUM 2017 : Soal 97
: Pembahasan 108
SOSHUM 2018 : Soal 114
: Pembahasan 122
SOSHUM 2019 : Soal 130
: Pembahasan 138
Prediksi SOSHUM 2020 : Soal 145
: Pembahasan 153

kampungsoal.com

TIM PENULIS

Ardhi Khairi, S.E., M.B.A.
S1- Akuntansi
(Universitas Riau)
S2 - Master of Business Administration
(Universitas Gadjah Mada)

Renny Wijayanti, S.Gz., M.B.A.
S1 - Ilmu Gizi
(Universitas Diponegoro)
S2 - Master of Business Administration
(Universitas Gadjah Mada)

Failur Rahman, S.Pd., M.Sc.
S1 - Pendidikan Ekonomi
(Universitas Negeri Malang)
S2 - Master of Science in Economics
(Universitas Gadjah Mada)

Resi Sadewa, S.Pd., M.Sc.
S1 - Pendidikan Geografi
(Universitas Negeri Yogyakarta)
S2 - Magister Manajemen Bencana
(Universitas Gadjah Mada)

Sari Wahyu, S.Psi., M.B.A.
S1 - Psikologi
(Universitas Gadjah Mada)
S2 - Master of Business Administration
(Universitas Gadjah Mada)

Emma Aulia Dewi, S.Si., M..Sc.
S1 - Statistika
(Universitas Islam Indonesia)
S2 - Matematika
(Universitas Gadjah Mada)

Lis Dani Zunafiah, S.S.
S1 - Bahasa, Sastra Indonesia, dan Daerah
(Universitas Bengkulu)

Nanda Azzanina, S.Pd., M.Sc.
S1 - Pendidikan Matematika
(Universitas Negeri Medan)
S2 - Matematika
(Universitas Gadjah Mada)

Dikki Miswanda, S.Pd., M.Sc.
S1 - Prodi Pendidikan Kimia
(Universitas Negeri Medan)
S2 - Prodi Magister Kimia
(Universitas Gadjah Mada)

Wahyu Mega Wulandari, S.Pd., M.Sc.
S1 - Pendidikan Matematika
(Universitas Muhammadaiyah Malang)
S2 - Matematika
(Universitas Gadjah Mada)

Moh Sajadi, S.Si
S1 - Fisika
(Universitas Negeri Yogyakarta)

Luh Putu Yeni Martini, S.E., M.Acc.
S1 - Akuntansi
(Universitas Pendidikan Ganesha)
S2 - Akuntansi
(Universitas Gadjah Mada)

Mahfi Yusuf, S.Pd., M.P.H.
S1 - Pendidikan Bahasa Inggris
(Universitas Negeri Yogyakarta)
S2 - Public Health in Occupational
Safety and Health/ K3
(Universitas Gadjah Mada)

Ahmad Reski Awaluddin, S.T.
S1 - Teknik Geologi
(UPN Veteran Yogyakarta)
S2 - Manajemen Bencana
(Universitas Gadjah Mada)

I Made Saka Wijaya, S.Si., M.Si.
S1 - Prodi Biologi
(Universitas Gadjah Mada)
S2 - Prodi Biologi
(Universitas Gadjah Mada)

Wajib Baca...!!!
LAYANAN PURNA JUAL

Hai adik-adik. Apa kabar kalian.?
Semoga tetap dalam lindungan Tuhan Yang Maha Kuasa dan selalu diberi kelimpahan rezeki dan kemudahan dalam proses pembelajaran. Baik itu untuk menghadapi Ujian Nasional, SNMPTN, SBMPTN, ujian mandiri Perguruan Tinggi manapun, terutama Ujian Tulis Universitas Gadjah Mada yang di tahun 2019 lalu mendapatkan predikat kampus terbaik nomor 1 di Indonesia. Luar biasa, bukan..?? ☺

Perkenalkan, saya Ardhi Khairi, boleh kamu panggil Bang Arkha, dan Tim Kampung Soal telah menyelesaikan sebuah buku terbaik tentang bagaimana cara sukses untuk masuk dan kuliah di Universitas GADJAH MADA dengan cara dan trik yang sudah dibuktikan oleh ratusan member kami sebelumnya. Di buku ini tersedia materi-materi full praktek tentang tips dan trik yang harus kamu kerjakan, sehingga peluang kamu lolos ujian bisa meningkat hingga 98%.

Di buku ini juga terdapat total 10 paket soal UM Utul UGM, yang terdiri dari paket soal 2009-2019 (tanpa 2011 dan 2012, karena memang tidak diselenggarakan) dan plus 1 paket soal prediksi yang akan menambah pengetahuan dan kepercayaan diri kamu menghadapi ujian nanti.

Bagaimanapun juga, pendidikan dan informasi tentunya akan terus berkembang sesuai waktu. Sehingga perlu kami rasakan diadakan layanan purna jual, yaitu pelayanan untuk memberikan informasi tambahan sesuai kebutuhan.

Jika kamu nantinya ada pertanyaan serta kritikan yang perlu disampaikan, mohon tidak sungkan untuk menghubungi kami baik melalui SMS, Whatsapp, LINE, maupun media sosial lainnya.

Selanjutnya kirim ke nomor : 0822 8888 7628

Semoga siapapun yang memiliki dan mempelajari buku ini, akan sukses dunia akhirat dan terutama bisa tembus PTN terfavorit dan terbaik di Indonesia.

Saya minta sedikit waktunya untuk kita berdoa saat membaca tulisan ini. Dengan ucapan "Semoga KITA, seluruh member buku ini sukses menempuh ujian Utul UGM sesuai dengan minat pada jurusan yang diinginkan". INGAT!!!, jangan gunakan kata SAYA, tetapi KITA. Karena doa oleh orang banyak biasanya lebih cepat pula untuk dikabulkan… AMIN…

Akhir kata, buku ini tidak terlepas dari beberapa kesalahan, baik itu kesalahan materi maupun pengetikan. Sehingga perlu adanya masukan dari member untuk menjadikan buku ini menjadi buku terbaik untuk dikemudian hari bisa meningkatkan mutu pendidikan masa depan.

Terimakasih.
Salam Sukses

Bang Arkha

Kampungsoal.com

SKEMA KISI-KISI MATERI SOAL

Sejarah

No	Materi	2009	2010	2013	2014	2015	2016	2017	2018	2019	Total
1	Orde Baru dan Reformasi	2	?	?	?	?	?	?	?	?	?
2	Kerajaan Hindu-Buddha	5	?	?	?	?	?	?	?	?	?
3	Kerajaan Islam	3	?	?	?	?	?	?	?	?	?
4	Demokrasi Terpimpin	0	?	?	?	?	?	?	?	?	?
5	Politik Etis dan Perg. Nasional	2	?	?	?	?	?	?	?	?	?
6	Kependudukan Belanda - VOC	2	?	?	?	?	?	?	?	?	?
7	Revolusi Kemerdekaan Indonesia	1	?	?	?	?	?	?	?	?	?
8	Prasejarah	0	?	?	?	?	?	?	?	?	?
9	Metode dan Ilmu Sejarah	0	?	?	?	?	?	?	?	?	?
10	Peradaban Kuno	1	?	?	?	?	?	?	?	?	?
11	Kependudukan Jepang	1	?	?	?	?	?	?	?	?	?
12	Organisasi Internasional	1	?	?	?	?	?	?	?	?	?
13	Renaisans dan Revolusi	0	?	?	?	?	?	?	?	?	?
14	Perdagangan Bangsa Barat	0	?	?	?	?	?	?	?	?	?
15	Perang Dingin	1	?	?	?	?	?	?	?	?	?
16	PD I dan II	3	?	?	?	?	?	?	?	?	?
17	Pemberontakan Pasca Kemerdekaan	2	?	?	?	?	?	?	?	?	?
18	Politik Dunia 1970 - 1999	0	?	?	?	?	?	?	?	?	?
19	Kependudukan Belanda - Hindia Belanda	1	?	?	?	?	?	?	?	?	?
20	Demokrasi Liberal	0	?	?	?	?	?	?	?	?	?

Geografi

No	Materi	2009	2010	2013	2014	2015	2016	2017	2018	2019	Total
1	Hidrosfer	7	?	?	?	?	?	?	?	?	?
2	Wilayah & Perwilayahan	4	?	?	?	?	?	?	?	?	?
3	Litosfer	2	?	?	?	?	?	?	?	?	?
4	Peta	0	?	?	?	?	?	?	?	?	?
5	Industri	1	?	?	?	?	?	?	?	?	?
6	Atmosfer	1	?	?	?	?	?	?	?	?	?
7	Biosfer	0	?	?	?	?	?	?	?	?	?
8	Kependudukan	2	?	?	?	?	?	?	?	?	?
9	Lingkungan Hidup	1	?	?	?	?	?	?	?	?	?
10	Pembangunan Berkelanjutan	1	?	?	?	?	?	?	?	?	?
11	SDA	3	?	?	?	?	?	?	?	?	?
12	Interaksi Desa-Kota	0	?	?	?	?	?	?	?	?	?
13	Penginderaan Jauh	0	?	?	?	?	?	?	?	?	?
14	SIG	1	?	?	?	?	?	?	?	?	?
15	Negara Maju & Berkembang	1	?	?	?	?	?	?	?	?	?
16	Hakekat Geografi	0	?	?	?	?	?	?	?	?	?
17	Poros Maritim Dunia	0	?	?	?	?	?	?	?	?	?
18	Lingkungan Hidup	1	?	?	?	?	?	?	?	?	?

Kampungsoal.com

Ekonomi

No	Materi	2009	2010	2013	2014	2015	2016	2017	2018	2019	Total
1	Dasar-dasar Akuntansi	3	?	?	?	?	?	?	?	?	?
2	Permintaan dan Penawaran	3	?	?	?	?	?	?	?	?	?
3	Manajemen & Kewirausahaan	3	?	?	?	?	?	?	?	?	?
4	Konsep Pasar dalam Perekonomian	3	?	?	?	?	?	?	?	?	?
5	Pelaku Ekonomi dalam Sistem Ekonomi	1	?	?	?	?	?	?	?	?	?
6	Akuntansi Perusahaan Dagang	1	?	?	?	?	?	?	?	?	?
7	Ilmu Ekonomi dan Permasalahannya	2	?	?	?	?	?	?	?	?	?
8	Kebijakan Moneter dan Kebijakan Fiskal	3	?	?	?	?	?	?	?	?	?
9	Indeks Harga dan Inflasi	2	?	?	?	?	?	?	?	?	?
10	Sistem dan Alat Pembayaran	1	?	?	?	?	?	?	?	?	?
11	Pembangunan dan Pertumbuhan Ekonomi	0	?	?	?	?	?	?	?	?	?
12	Pendapatan Nasional	0	?	?	?	?	?	?	?	?	?
13	Bank dan Lembaga Keuangan Bukan Bank	1	?	?	?	?	?	?	?	?	?
14	APBN & APBD	0	?	?	?	?	?	?	?	?	?
15	Perpajakan	0	?	?	?	?	?	?	?	?	?
16	Perdagangan Internasional	1	?	?	?	?	?	?	?	?	?
17	Koperasi	1	?	?	?	?	?	?	?	?	?
18	Kerjasama Internasional	0	?	?	?	?	?	?	?	?	?
19	Permasalahan Ketenagakerjaan	0	?	?	?	?	?	?	?	?	?
20	Akuntansi Perusahaan Jasa	0	?	?	?	?	?	?	?	?	?
21	Pasar Modal	0	?	?	?	?	?	?	?	?	?

Sosiologi
(Mata Pelajaran Sosiologi baru diuji pada tahun 2019)

No	Materi	2009	2010	2013	2014	2015	2016	2017	2018	2019	Total
1	Interaksi Sosial	0	0	0	0	0	0	0	0	?	?
2	Struktur, Diferensiasi, Stratifikasi Sosial	0	0	0	0	0	0	0	0	?	?
3	Kelompok & Dinamika Sosial	0	0	0	0	0	0	0	0	?	?
4	Konflik & Integrasi Sosial	0	0	0	0	0	0	0	0	?	?
5	Perubahan Sosial	0	0	0	0	0	0	0	0	?	?
6	Sosialisasi & Kepribadian	0	0	0	0	0	0	0	0	?	?
7	Mobilitas Sosial	0	0	0	0	0	0	0	0	?	?
8	Penelitian Sosial	0	0	0	0	0	0	0	0	?	?
9	Modernisasi & Globalisasi	0	0	0	0	0	0	0	0	?	?
10	Perilaku Menyimpang & Pengendalian Sosial	0	0	0	0	0	0	0	0	?	?
11	Masyarakat Multikultural	0	0	0	0	0	0	0	0	?	?
12	Lembaga Sosial	0	0	0	0	0	0	0	0	?	?
13	Pengetahuan Sosiologi	0	0	0	0	0	0	0	0	?	?
14	Nilai & Norma Sosial	0	0	0	0	0	0	0	0	?	?

kampungsoal.com

UNTUK SEMUA MATERI BONUS, ADA DI BUKU UTAMA TKDU+TKPA (WARNA BIRU)

kampungsoal.com

GUNAKAN PETUNJUK INI UNTUK MENJAWAB SEMUA SOAL

PETUNJUK UMUM

1. Sebelum mengerjakan soal ujian, telitilah jumlah dan nomor yang terdapat pada naskah ujian.

   Naskah ujian ini terdiri atas ... halaman dan soal-soal ini terdapat pada :

   Halaman ... - ... untuk ujian Sejarah, … soal.
   Halaman ... - ... untuk ujian Geografi, … soal.
   Halaman ... - ... untuk ujian Ekonomi, … soal.
   Halaman ... - ... untuk ujian Sosiologi, … soal.

2. Tulislah nomor peserta Saudara pada lembar jawaban di tempat yang disediakan, sesuai dengan petunjuk yang diberikan oleh petugas.

3. Bacalah dengan cermat setiap petunjuk yang menjelaskan cara menjawab soal.

4. Pikirkanlah sebaik-baiknya sebelum menjawab tiap soal karena setiap jawaban yang salah akan mengakibatkan pengurangan nilai (penilaian : betul +4, kosong 0, salah -1).

5. Jawablah lebih dahulu soal-soal yang menurut Saudara mudah, kemudian lanjutkan dengan menjawab soal-soal yang lebih sukar.

6. Tulislah jawaban Saudara pada lembar jawaban ujian yang disediakan dengan cara dan petunjuk yang telah diberikan oleh petugas.

7. Untuk keperluan coret-mencoret pergunakanlah tempat yang terluang pada naskah ujian ini dan jangan sekali-kali menggunakan lembar jawaban.

8. Selama ujian, Saudara tidak diperkenankan bertanya atau meminta penjelasan mengenai soal-soal yang diujikan kepada siapa pun, termasuk pengawas ujian.

9. Setelah ujian selesai, harap Saudara tetap duduk di tempat saudara sampai pengawas datang ke tempat Saudara untuk mengumpulkan lembar jawaban.

10. Perhatikan agar lembar jawaban ujian tidak kotor, tidak basah, tidak terlipat, dan tidak sobek.

11. Kode naskah ujian ini : **...**

PETUNJUK KHUSUS

PETUNJUK A Pilih satu jawaban yang paling tepat

PETUNJUK B Soal terdiri atas tiga bagian, yaitu: PERNYATAAN, kata SEBAB dan ALASAN yang disusun berurutan. Pilihlah :
(A) jika pernyataan betul, alasan betul, dan keduaya menunjukkan hubungan sebab akibat
(B) jika pernyataan betul, alasan betul, tetapi keduanya tidak menunjukkan hubungan sebab akibat
(C) jika pernyataan betul dan alasan salah
(D) jika pernyataan salah dan alasan betul
(E) jika pernyataan dan alasan, keduanya salah

PETUNJUK C Pilihlah :
(A) jika (1), (2), dan (3) yang betul
(B) jika (1) dan (3) yang betul
(C) jika (2) dan (4) yang betul
(D) jika hanya (4) yang betul
(E) jika semuanya betul

DOKUMEN RAHASIA
Dilarang keras memperbanyak dan menjual kepada umum

kampungsoal.com

UJIAN MASUK UNIVERSITAS GADJAH MADA

2009

NASKAH UJIAN

ILMU PENGETAHUAN SOSIAL

SEJARAH, GEOGRAFI, EKONOMI

942

kampungsoal.com

MATA UJIAN : SEJARAH, GEOGRAFI, EKONOMI
TANGGAL UJIAN : 5 APRIL 2009
WAKTU : 90 menit
JUMLAH SOAL : 75

KETERANGAN : Mata ujian SEJARAH nomor 1 sampai nomor 25
Mata ujian GEOGRAFI nomor 26 sampai nomor 50
Mata ujian EKONOMI nomor 51 sampai nomor 75

SEJARAH

Petunjuk A dipergunakan dalam menjawab soal nomor 1 sampai dengan nomor 15

1. Organisasi mahasiswa yang berafiliasi dengan Partai Komunis Indonesia menjelang peristiwa pemberontakan G 30 S/PKI, adalah
   (A) Pemuda Sosialis Indonsia (Pesindo)
   (B) Central Gerakan Mahasiswa Indonesia (CGMI)
   (C) Pemuda Rakyat Demokratik (PRD)
   (D) Kesatuan Aksi Mahasiswa Indonesia (KAMI)
   (E) Badan Eksekutif Mahasiswa (BEM)

2. "Indonesia Menggugat" merupakan pidato Sukarno di *Landraad* Bandung pada tahun 1929, merupakan
   (A) Deklarasi berdirinya PNI sebagai partai politik
   (B) Keprihatinan Sukarno atas kesengsaraan rakyat Indonesia
   (C) Petisi tentang tuntutan Indonesia merdeka
   (D) Pembelaan Sukarno di sidang pengadilan
   (E) Pencanangan dimulainya revolusi Indonesia

3. Pada masa pemerintahan Murad II tahun 1574-1595, Turki di juluki dengan *The Sick Man of Europe,* karena
   (A) Raja Murad II mengalami sakit yang berkepanjangan, sehingga tidak bisa memerintah dengan baik
   (B) Rakyat Turki terkena wabah penyakit, sehingga banyak yang meninggal dunia
   (C) Kerajaan Turki mengalami kemerosotan, sehingga banyak daerah yang melepaskan diri
   (D) Pelabuhan-pelabuhan perdagangan Turki dikuasai oleh negara Eropa lainnya
   (E) Keraajaan turki gagal membendung pengaruh nasionalisme di Eropa

4. Van Deventer melontarkan kritik terhadap pemerintahan Belanda yang telah menyengsarakan penduduk dan mengeksploitasi alam Indonesia. Ia menyatakan bahwa Belanda berhutang budi kepada Indonesia dan harus membalasnya dengan cara
   (A) Memperbaiki saluran air dan meningkatkan pertanian
   (B) Membuka perkebunan dan menyediakan lapangan pekerjaan
   (C) Memberikan kesempatan penduduk Indonesia duduk dalam pemerintahan
   (D) Mengurangi monopoli perdagangan dan memperbaiki perekonomian
   (E) Memajukan pendidikan, melakukan transmigrasi, dan membangun irigasi

5. kampungsoal.com
6. kampungsoal.com
7. kampungsoal.com
8. kampungsoal.com
9. kampungsoal.com
10. kampungsoal.com
11. kampungsoal.com
12. kampungsoal.com
13. kampungsoal.com
14. kampungsoal.com

Petunjuk B dipergunakan dalam menjawab soal nomor 15 sampai dengan nomor 20

15. kampungsoal.com
16. kampungsoal.com
17. kampungsoal.com

18. Perjanjian Giyanti 1755 telah menjadikan Mataram terbagi dua, yaitu Mataram Barat yang diserahkan kepada Pangeran Mangkubumi dan Mataram Timur yang diserahkan kepada Sunan Pakubuwono III.

    SEBAB

    Pada Perjanjian Salatiga 1757, Kerajaan Mataram Timur dibagi menjadi dua, sebagian diserahkan kepada Mas Said dan sebagian diserahkan kepada Pakubuwono III.

19. Ide-ide Mechael Gorbachev tentang *Glasnot* dan *Perestroika* telah menandai berakhirnya Perang Dingin.

    SEBAB

    Galsnot dan *Perestroika* merupakan perjanjian kesepahaman antara Uni Sovyet dengan Amerika Serikat.

20. kampungsoal.com

Kampungsoal.com

<u>Petunjuk C</u> dipergunakan dalam menjawab soal nomor 21 sampai dengan nomor 25

21. Beberapa hal yang memicu lahirnya Nazi di Jerman adalah

    (1) Kenangan pada kejayaan masa lalu
    (2) Ketidakpuasan rakyat terhadap kesulitan-kesulitan ekonomi setelah Perang Dunia I
    (3) Sistem pemerintahan demokratis dianggap tidak sesuai lagi dengan keadaan
    (4) Sistem pemerintahan yang lebih mengutamakan kepentingan individu

22. Untuk mempertahankan wilayahnya dan mengembangkan perdagangan antar pulau, Kerajaan Sriwijaya melakukan upaya untuk menguasai perairan

    (1) Selat Karimata
    (2) Selat Malaka
    (3) Samudra Hindia
    (4) Selat Sunda

23. kampungsoal.com
24. kampungsoal.com
25. kampungsoal.com

GEOGRAFI

<u>Petunjuk A</u> dipergunakan dalam menjawab soal nomor 26 sampai dengan nomor 40

26. kampungsoal.com
27. kampungsoal.com
28. kampungsoal.com
29. kampungsoal.com
30. kampungsoal.com
31. kampungsoal.com
32. kampungsoal.com
33. kampungsoal.com
34. kampungsoal.com
35. kampungsoal.com
36. kampungsoal.com

37. Cabang ilmu geografi yang secara khusus mempelajari sungai disebut
    (A) Geomorfologi
    (B) Hidrologi
    (C) Potamologi
    (D) Kridologi
    (E) Fluviologi

38. Berikut ini yang tidak termasuk sistem Sunda pada sistem pokok persebaran pegunungan sunda adalah
    (A) Busur Arakan Yoma
    (B) Busur Sumatera Jawa
    (C) Busur Luzon
    (D) Busur Banda
    (E) Busur Andaman

39. Lokasi berikut yang paling sesuai dibangun PLTN adalah
    (A) Kawasan Gunung Muria Jawa Tengah
    (B) Pulau Kalimantan
    (C) Ujung Kulon
    (D) Pegunungan Bukit Barisan
    (E) Pulau Lombok

40. Pada pegunungan kapur (*karst*) berbentuk bukit-bukit kubah kapur yang relatif homogen, kenampakan bentuk muka Bumi demikian akibat dari proses
    (A) Pelapukan fisik
    (B) Pelapukan kimiawi
    (C) Tenaga eksogen
    (D) Denudasional
    (E) Fluvial

<u>Petunjuk B</u> dipergunakan dalam menjawab soal nomor 41 sampai dengan nomor 45

41. kampungsoal.com
42. kampungsoal.com
43. kampungsoal.com

44. Abrasi merupakan proses perusakan pantai oleh tenaga gelombang laut dipengaruhi oleh angin barat dan angin timur

    SEBAB

    Debit sungai yang masuk ke laut mempunyai tenaga untuk melawan gelombang laut sehingga berfungsi menjaga keseimbangan lingkungan kepesisiran

45. Keunggulan teknologi Sistem Informasi Geografis (SIG) dalam membantu pengembangan ilmu geografi adalah dalam analisa data wilayah secara spasial

    SEBAB

    Salah satu analisa geografi yang menjadi sentral adalah pendekatan spasial atau keruangan dengan objek kajian wilayah, sedang pendekatan ekologikal dan kompleks wilayah sebagai pendukung pendekatan spasial

kampungsoal.com

<u>Petunjuk C</u> dipergunakan dalam menjawab soal nomor 46 sampai dengan nomor 50

46. kampungsoal.com
47. kampungsoal.com
48. kampungsoal.com

49. Di Amerika Serikat dan Kanada, wilayah-wilayah yang tidak mempunyai curah hujan cukup biasanya memperoleh air dari
    (1) Memompa air tanah dalam
    (2) Mencairnya salju di puncak dan lereng-lereng pegunungan yang tinggi
    (3) Aliran air sungai dengan debit besar, yang datang dari wilayah lain
    (4) Hujan buatan

50. Pantai delta dapat terjadi karena kondisi
    (1) Proses erosi pada bagian hulu dan sedimentasi pada bagian hilir
    (2) Amplitudo pasang-surut kecil
    (3) *Longshore current* kecil
    (4) Ombak besar

kampungsoal.com

EKONOMI

<u>Petunjuk A</u> dipergunakan dalam menjawab soal nomor 51 sampai dengan nomor 62

51. kampungsoal.com
52. kampungsoal.com
53. kampungsoal.com
54. kampungsoal.com
55. kampungsoal.com
56. kampungsoal.com
57. kampungsoal.com
58. kampungsoal.com

59. Perusahaan saingan akan *shutdown* apabila
    (A) *Marginal Revenue = Marginal Cost*
    (B) *Average Cost > Marginal Cost*
    (C) *Average Cost < Marginal Cost*
    (D) *Total Revenue = Total Cost*
    (E) *Marginal Cost = Average Variable Cost*

60. Masalah mendasar dalam ilmu ekonomi adalah
    (A) Mengurangi masalah kemiskinan dan menciptakan distribusi pendapatan yang adil dan merata
    (B) Menentukan harga yang tepat atas barang/jasa sesuai dengan biaya-biaya yang dikeluarkan untuk memproduksi barang/jasa tersebut
    (C) Mengurangi eksternalitas negatif yang ditimbulkan dari setiap kegiatan ekonomi
    (D) Mengoptimalkan penggunaan sumber daya yang jumlahnya terbatas untuk memenuhi kebutuhan masyarakat
    (E) Memacu pertumbuhan ekonomi sebuah negara dengan harapan kemakmuran akan tercipta

61. Ada dua orang atau lebih berkumpul dan sepakat untuk memiliki dan mengoperasikan bisnis secara bersama-sama, maka bentuk usaha yang sesuai adalah
    (A) Perorangan
    (B) Oligopolis
    (C) Kartel
    (D) Firma
    (E) CV

62. Perhatikan akun-akun berikut ini : (1) piutang usaha, (2) perlengkapan, (3) gedung, (4) mobil, dan (5) wesel tagih. Klasifikasikan akun-akun tersebut beradasarkan tingkat likuiditasnya
    (A) (1), (2), (5), (4), dan (3)
    (B) (2), (5), (3), (1), dan (4)
    (C) (2), (1), (5), (4), dan (3)
    (D) (5), (1), (2), (4), dan (3)
    (E) (5), (2), (1), (4), dan (3)

<u>Petunjuk B</u> dipergunakan dalam menjawab soal nomor 63 sampai dengan nomor 70

63. kampungsoal.com

64. Konsekuensi koperasi sebagai soko guru perekonomian Indonesia adalah bahwa sektor swasta dan pemerintah tidak mendapat peranan
    SEBAB
    Koperasi adalah suatu usaha ekonomi bersama dengan azaz kekeluargaan

65. Pemerintah menetapkan harga minimum atas gabah
    SEBAB
    Kebijakan penetapan harga minimum atas gabah dapat meningkatkan persediaan beras di gudang. Bulog sebagai cadangan jika terjadi kekeringan atau gagal panen

66. kampungsoal.com
67. kampungsoal.com
68. kampungsoal.com
69. kampungsoal.com
70. kampungsoal.com

<u>Petunjuk C</u> dipergunakan dalam menjawab soal nomor 71 sampai dengan nomor 75

71. kampungsoal.com
72. kampungsoal.com

73. Jika *capital inflow* lebih tinggi daripada *capital outflow* maka
    (1) Nilai tukar mata uang asing mengalami depresiasi
    (2) Nilai tukar mata uang asing mengalami apresiasi
    (3) Nilai tukar mata uang domestik mengalami apresiasi
    (4) Nilai tukar mata uang domestik mengalami depresiasi

74. Berikut ini adalah asumsi pokok yang digunakan dalam Teori Keunggulan Absolut milik Adam Smith
    (1) Kualitas barang yang diproduksi di kedua negara adalah sama
    (2) Pertukaran dilakukan secara barter
    (3) Biaya transportasi diabaikan
    (4) Faktor produksi yang digunakan adalah modal, tenaga kerja, dan tanah

75. kampungsoal.com

kampungsoal.com



PEMBAHASAN SOSHUM 2009

SEJARAH

1. kampungsoal.com
2. kampungsoal.com

3. **Jawab : C**
   Kerajaan Turki Usmani yang pernah mencapai puncak kejayaannya pada abad ke-19 terus mengalami kemunduran sampai akhirnya mendapat julukan The Sick Man from Europe. Hal ini disebabkan oleh berikut ini.
   1. Tidak ada lagi sultan-sultan yang kuat dan besar.
   2. Intrik-intrik dalam istana semakin merajalela.
   3. Tentara Janisari yang terkenal telah merosot martabatnya menjadi pengacau kerajaan daripada pembela kerajaan.
   4. Pemerintahan yang lemah dan kacau mengakibatkan adanya Krisis Gezag sehingga negara-negara bagian berani mengadakan pemberontakan untuk melepaskan diri dari Turki.
   5. Revolusi Prancis mengilhami negara-negara bagian untuk merdeka (seperti, Yunani, Bulgaria, Serbia, Rumania, dan Mesir).

4. kampungsoal.com
5. kampungsoal.com
6. kampungsoal.com
7. kampungsoal.com
8. kampungsoal.com
9. kampungsoal.com
10. kampungsoal.com
11. kampungsoal.com
12. kampungsoal.com
13. kampungsoal.com
14. kampungsoal.com
15. kampungsoal.com
16. kampungsoal.com
17. kampungsoal.com

18. **Jawab : B**
    Perjanjian Giyanti 1755 menyebabkan kerajaan Mataram Islam terpecah menjadi dua, yang itu Mataram Barat (Yogyakarta) yang diserahkan kepada Pangeran Mangkubumi dan Mataram Timur (Surakarta) diserahkan kepada Sunan Pakubuwono III
    Perjanjian Salatiga 1757, menyebabkan Surakarta terbagi menjadi dua di bawah dua kekuasaan yang berbeda yaitu kepada Raden Mas Said dan Pakubuwono III

19. kampungsoal.com
20. kampungsoal.com

21. **Jawab : A**
    Penyebab lahirnya Nazi adalah sebagai berikut:
    - Kenangan pada kejayaan masa lalu yang menganggap bahwa bangsa Arya merupakan bangsa terbaik di Dunia.
    - Ketidakpuasan rakyat terhadap kesulitan ekonomi setelah perang Dunia I
    - System pemerintahan demokratis dianggap tidak sesuai lagi dengan keadaan.
    - Perjanjian postdam dianggap telah merugikan pihak Jerman.

22. kampungsoal.com
23. kampungsoal.com
24. kampungsoal.com
25. kampungsoal.com

kampungsoal.com

26. kampungsoal.com
27. kampungsoal.com
28. kampungsoal.com
29. kampungsoal.com
30. kampungsoal.com
31. kampungsoal.com
32. kampungsoal.com
33. kampungsoal.com
34. kampungsoal.com
35. kampungsoal.com
36. kampungsoal.com
37. kampungsoal.com
38. kampungsoal.com
39. kampungsoal.com

40. Jawab : B
Jenis – jenis pelapukan:
- *Pelapukan kimiawi :* pelapukan di karst
- *Pelapukan fisika :* pelapukan skibat perbedaan suhu yang ekstrim di gurun
- *Pelapukan biologi :* pelapukan oleh akar

41. kampungsoal.com
42. kampungsoal.com
43. kampungsoal.com

44. Jawab : B
- Angin barat merupakan angin muson barat yang mengandung uap air
- Angin timur merupakan angin muson timur yang bersifat kering
- Angin barat dan angin timur sangat mempengaruhi gelombang di perairan lautan Indonesia

45. kampungsoal.com
46. kampungsoal.com
47. kampungsoal.com
48. kampungsoal.com

49. Jawab : A
Hujan buatan memerlukan uap air di udara, tapi pembentukan awan di Amerika Serikat dan Kanada tidak sebanyak di daerah tropis dan tidak tersedia sepanjang tahun seperti di daerah tropis.

50. kampungsoal.com

kampungsoal.com

51. kampungsoal.com
52. kampungsoal.com
53. kampungsoal.com
54. kampungsoal.com
55. kampungsoal.com
56. kampungsoal.com
57. kampungsoal.com
58. kampungsoal.com

59. Jawab : D
Shutdown point terjadi apabila harga output (P) sama dengan biaya variabel rata-rata (AVC). Pada kondisi ini, apabila perusahaan tetap berproduksi dan dapat mejual semua output yang dihasilkan, maka perusahaan tersebut akan rugi sebesar biaya tetapnya. Kerugian sebesar biaya tetap akan dialami juga jika perusahaan tidak berproduksi. Maka, jika harga output lebih kecil dari biaya variabel rata-rata (AVC), maka perusahaan lebih baik menutup usahanya. Jika menutup usaha maka hanya akan mengalami kerugian sebesar biaya tetapnya saja. Apabila melanjutkan usaha, maka kerugian sebesar biaya tetap ditambah biaya variabel. → Selisih AVC dengan harga output (P).
- Ketika harga berada di bawah titik minimum dan berpotongan dengan MC, maka secara matematis :
  TR < AVC → rugi hanya pada FC
  P = AVC → tutup : hanya rugi pada VC
  → lanjut : kerugian pada VC dan FC

60. kampungsoal.com
61. kampungsoal.com
62. kampungsoal.com
63. kampungsoal.com
64. kampungsoal.com

65. Jawab : A
Jika pemerintah menetapkan harga minimum gabah, maka tujuannya adalah melindungi produsen dari harga yang jauh berada dibawah harga keseimbangan. Hal ini akan memiliki dampak pada petani untuk tetap mempertahankan produktivitasnya saat musim panas sekalipun. Sehingga akan terjadi kelebihan produksi dan kelebihan ini akan digunakan sebagai cadangan saat musim kering.

66. kampungsoal.com
67. kampungsoal.com
68. kampungsoal.com
69. kampungsoal.com
70. kampungsoal.com
71. kampungsoal.com
72. kampungsoal.com

73. Jawab : B
Apabila arus modal masuk (capital inflow) lebih besar daripada modal keluar (capital outflow) maka akan mengakibatkan :
1. Mata uang asing terdepresiasi, karena ketersediaan mata uang asing di dalam negeri bertambah
2. Mata uang domestik terapresiasi (nilai tukar terhadap mata uang asing menguat) karena untuk capital inflow harus ada konversi dari mata uang asing ke mata uang Rupiah, sehingga permintaan terhadap uang Rupiah relatif lebih tinggi, tingginya permintaan terhadap Rupiah akan membuat kurs Rupiah menguat/terapresiasi.

74. kampungsoal.com
75. kampungsoal.com

kampungsoal.com

UJIAN MASUK UNIVERSITAS GADJAH MADA

2010

kampungsoal.com

NASKAH UJIAN

TES KEMAMPUAN SOSHUM

SEJARAH, GEOGRAFI, EKONOMI

741

MATA UJIAN : SEJARAH, GEOGRAFI, EKONOMI
TANGGAL UJIAN : 5 APRIL 2010
WAKTU : 90 menit
JUMLAH SOAL : 75

KETERANGAN : Mata ujian SEJARAH nomor 1 sampai nomor 25
Mata ujian GEOGRAFI nomor 26 sampai nomor 50
Mata ujian EKONOMI nomor 51 sampai nomor 75

SEJARAH

Petunjuk A digunakan untuk menjawab soal nomor 1 sampai dengan nomor 15

1. kampungsoal.com
2. kampungsoal.com
3. kampungsoal.com
4. kampungsoal.com
5. kampungsoal.com
6. kampungsoal.com
7. kampungsoal.com
8. kampungsoal.com
9. kampungsoal.com
10. kampungsoal.com
11. kampungsoal.com

12. Kejadian yang mengakibatkan tertembaknya 4 mahasiswa Universitas Trisakti pada tanggal 12 Mei 1998 dikenal dengan peristiwa
    (A) Mei Berdarah
    (B) Semanggi
    (C) Trisakti
    (D) Reformasi
    (E) Malaria

13. Tiang batu yang menandai berakhirnya masa prakarsa di Indonesia menuju masa sejarah yang ditemukan pada abad ke-5 SM adalah
    (A) Prasasti kutai
    (B) Monumen
    (C) Punden berundak
    (D) Yupa
    (E) Candi muara takus

14. Munculnya angkatan '66 ditandai dengan keluarnya majalah sastra yaitu
    (A) Panji pustaka
    (B) Panca Raya
    (C) Mimbar Indonesia
    (D) Horison
    (E) Kisah Sastra

15. Kedatangan bangsa barat ke Nusantara membawa pengaruh luas di masyarakat, pengaruh di bidang sosial berupa
    (A) Timbulnya golongan priyai dalam masyarakat
    (B) Timbulnya feodalisme
    (C) Timbulnya perdagangan besar dalam masyarakat
    (D) Timbulnya golongan buruh dalam masyarakat
    (E) Timbulnya golongan bangsawan/agama

Petunjuk B digunakan untuk menjawab soal nomor 16 sampai dengan nomor 20

16. Sistem perhitungan kalender yang digunakan saat ini merupakan hasil penemuan penting pada masa peradaban Mesir
    SEBAB
    Di dalam perhitungan kalender Mesir, waktu setahun terdiri dari 12 bulan, 30 hari sebulan, ditambah 5 hari serta 365 hari dalam satu tahun

17. Pada tanggal 21 November 1945 terjadi pertempuran ambarawa
    SEBAB
    Pembebasan secara sepihak oleh NICA terhadap interniran Belanda di Magelang dan Ambarawa

18. kampungsoal.com
19. kampungsoal.com
20. kampungsoal.com

Petunjuk C digunakan untuk menjawab soal nomor 21 sampai dengan nomor 25

21. kampungsoal.com
22. kampungsoal.com

23. Di antara kesimpulan para sarjana di bawah ini tentang masuknya Islam ke Indonesia yang paling mendekati kebenaran adalah
    (1) Islam masuk ke Indonesia dibawa oleh pedagang
    (2) Masuknya Islam ke Indonesia berasal dari Gujarat
    (3) Masuknya Islam ke Indonesia melalui Persia
    (4) Masuknya Islam ke Indonesia langsung dari Arab

24. Beberapa ciri penting pada pemerintahan Bakufu (*1603-1868*) di Jepang adalah
    (1) Membuka seluas-luasnya pelabuhan-pelabuhan penting untuk bangsa asing
    (2) Penguasa tertinggi berada di tangan militer (Samurai)
    (3) Kaisar (Tenno) memiliki hak mengatur negara
    (4) Menjalankan politik isolasi dalam dunia perdagangan

25. kampungsoal.com

kampungsoal.com

Petunjuk A digunakan untuk menjawab soal nomor 26 sampai dengan nomor 35

26. kampungsoal.com
27. kampungsoal.com
28. kampungsoal.com
29. kampungsoal.com
30. kampungsoal.com
31. kampungsoal.com

32. Pembagian iklim menurut Koppen didasarkan pada
    (A) Suhu dan ketinggian tempat
    (B) Suhu dan variasi vegetasi
    (C) Suhu dan curah hujan
    (D) Suhu dan relief daratan
    (E) Suhu dan kebutuhan air dibagi tanaman

33. Dari semua cabang ilmu pengethuan kebumian mempunyai kesamaan objek kajian, namun berbeda dalam penekanan, ilmu geografi menekankan pada aspek
    (A) Spasial
    (B) Dasar fisika bumi
    (C) Geometri bumi
    (D) Gerak massa buatan
    (E) Bencana alam

34. Meletusnya gunung api Anak Krakatau dapat menyebabkan tsunami. Getarannya yang diakibatkannya termasuk gempa
    (A) Tektonik
    (B) Vulkanik
    (C) Gabungan tektonik vulkanik
    (D) Tremor
    (E) Guguran

35. Dikawasan Asia Tenggara, negara dengan derajat kesehatan dan pendapatan per kapita tinggi adalah
    (A) Indonesia
    (B) Brunei
    (C) Malaysia
    (D) Singapura
    (E) Thailand

Petunjuk B digunakan untuk menjawab soal nomor 36 sampai dengan nomor 40

36. Air tanah preatis adalah air yang terdapat di atas lapisan impermeabel
    SEBAB
    Air preatis terletak di permukaan tanah

37. Sebagian besar pelapukan yang terjadi di Indonesia disebabkan karena iklim tropis
    SEBAB
    Iklim tropis mempunyai curah hujan yang tinggi

38. kampungsoal.com
39. kampungsoal.com
40. kampungsoal.com

Petunjuk C digunakan untuk menjawab soal nomor 41 sampai dengan nomor 50

41. kampungsoal.com
42. kampungsoal.com
43. kampungsoal.com
44. kampungsoal.com

45. Berikut yang termasuk ciri-ciri kota adalah
    (1) Tempat pemukiman padat
    (2) Corak kehidupan penduduk homogen
    (3) Kelompok sosial bersifat individualistis
    (4) Kelompok sosial terbentuk atas dasar faktor geografis

46. Indeks pembangunan manusia digunakan sebagai indikator kemajuan dalam pembangunan manusia, disusun dari variabel
    (1) Harapan hidup
    (2) Pendidikan
    (3) Pendapatan
    (4) Angka kesakitan

47. kampungsoal.com
48. kampungsoal.com
49. kampungsoal.com
50. kampungsoal.com

kampungsoal.com

<u>Petunjuk A</u> digunakan untuk menjawab soal nomor 51 sampai dengan nomor 63

51. kampungsoal.com
52. kampungsoal.com
53. kampungsoal.com
54. kampungsoal.com
55. kampungsoal.com
56. kampungsoal.com
57. kampungsoal.com
58. kampungsoal.com

59. Fungsi permintaan suatu produk dapat diformulasikan sebagai berikut : $Q = 800 – 2P$ dan $2\ Q = -200 + 4P$. Besarnya surplus yang diterima oleh produsen pada saat terjadinya keseimbangan pasar adalah
    (A) 62.250
    (B) 28.500
    (C) 26.500
    (D) 30.625
    (E) 22.600

60. PT Barokah meminjam uang ke bank sebesar Rp60 juta dan diterima dalam bentuk kas. Di antara pilihan berikut ini, akun manakah yang tidak terpengaruh oleh transaksi tersebut?
    (A) Aset
    (B) Kewajiban
    (C) Utang
    (D) Kas
    (E) Piutang

61. Toyota membentuk sebuah tim yang terdiri dari para manajer senior dari bagian pemasaran, penelitian dan pengembangan, manufaktur, keuangan, dan akuntansi untuk proyek pengembangan tipe mobil SUV (*Sport Utility Vehicle*). Hal ini merupakan contoh
    (A) *A cross-functional team*
    (B) *A mass-production team*
    (C) *A continuous-process team*
    (D) *A standing-committee*
    (E) *A small-batch team*

62. Penemuan bibit padi varietas baru yang lebih produktif akan berdampak terhadap perekonomian. Ini ditandai dengan
    (A) Pergeseran kurva penawaran agregat (AS) jangka panjang ke kiri
    (B) Pergeseran kurva penawaran agregat (AS) jangka panjang ke kanan
    (C) Pergeseran kurva penawaran agregat (AS) jangka panjang ke kiri atas
    (D) Pergeseran kurva penawaran agregat (AS) jangka panjang ke kanan atas
    (E) Pergeseran kurva penawaran agregat (AS) jangka pendek ke kiri atas

63. kampungsoal.com

<u>Petunjuk B</u> digunakan untuk menjawab soal nomor 64 sampai dengan nomor 70

64. kampungsoal.com
65. kampungsoal.com
66. kampungsoal.com
67. kampungsoal.com

68. Bentuk pasar persaingan sempurna merupakan bentuk pasar yang paling efisien karena harga jual saat keuntungan maksimum sama dengan keuntungan margin
    SEBAB
    Produsen di pasar tersebut menetapkan harga sebagai upaya untuk menghalangi produsen lain masuk pasar

69. Jika dalam suatu negara *capital inflow* lebih tinggi daripada *capital outflow* maka mata uang negara tersebut akan mengalami apresiasi
    SEBAB
    Apresiasi atau depresiasi adalah fluktuasi nilai mata uang akibat penetapan kurs oleh pemerintah

70. kampungsoal.com

<u>Petunjuk C</u> digunakan untuk menjawab soal nomor 71 sampai dengan nomor 75

71. kampungsoal.com

72. Salah satu strategi reformasi birokrasi yang ditempuh pemerintah adalah meningkatkan gaji pegawai negeri. Dampak kebijakan ini terhadap perekonomian adalah
    (1) Belanja pemerintah
    (2) Subsidi akan meningkat
    (3) GDP akan meningkat
    (4) Pajak cenderung akan tetap

73. Pemerintah Indonesia ikut dalam *ASEAN-China Free Trade Agreement* (ACFTA). Dalam jangka pendek, dampak yang mungkin terjadi pada perekonomian dalam negeri akibat masuknya barang-barang dari China dan negara-negara lainnya adalah
    (1) Neraca perdagangan Indonesia dengan China akan semakin membaik
    (2) Harga-harga produksi akan lebih murah
    (3) Industri dalam negeri akan maju secara pesat karena daya saing Indonesia kuat
    (4) Tingkat pengangguran meningkat

74. kampungsoal.com
75. kampungsoal.com

kampungsoal.com



PEMBAHASAN SOSHUM 2010

SEJARAH

1. kampungsoal.com
2. kampungsoal.com
3. kampungsoal.com
4. kampungsoal.com
5. kampungsoal.com
6. kampungsoal.com
7. kampungsoal.com
8. kampungsoal.com
9. kampungsoal.com
10. kampungsoal.com
11. kampungsoal.com
12. kampungsoal.com
13. kampungsoal.com

14. **Jawab : D**
    Istilah angkatan 66 pertama kali diperkenalkan oleh H.B. Jassin dalam sebuah karangannya dalam majalah Horison (Agustus 1966), yang bertajuk "Angkatan 66: Bangkitnya Satu Generasi". Yang termasuk angkatan 66, menurut H.B. Jassin ialah "mereka yang tak kala tahun 1966 masih berumur kira-kira 6 tahun dan baru masuk sekolah rakyat, jadi mereka yang tahun '66 kira-kira berumur 25 tahun. Mereka inilah yang telah giat menulis dalam majalah-majalah sastra dan kebudayaan sekitar tahun 55-an, seperti Kisah, *Siasat, Mimbar Indonesia, Budaya Indonesia, Konfrontasi, Cerita Prosa, Sastra, Basis*, dan lain-lain.

15. kampungsoal.com

16. **Jawab : E**
    Penemuan perhitungan kalender yang digunakan saat ini merupakan peninggalan kekaisaran romawi di masa Julius Caesar. Dimana dalam satu tahun terdiri dari 12 bulan, 30 hari dalam sebulan, di tambah 5 hari dan 365 hari dalam satu tahun.

17. kampungsoal.com
18. kampungsoal.com
19. kampungsoal.com
20. kampungsoal.com
21. kampungsoal.com
22. kampungsoal.com
23. kampungsoal.com

24. **Jawab : C**
    Ciri-ciri pemerintahan Bakufu yaitu:
    - Penguasa tertinggi berada di tangan militer
    - Menjalankan politik isolasi dalam dunia perdagangan.
    - Menutup seluruh pelabuhan terhadap bangsa asing yang akan berlabuh
    - Kaisar tidak memiliki hak untuk mengatur negara. Kaisar hanya sebagai symbol negara

25. kampungsoal.com

kampungsoal.com

26. kampungsoal.com
27. kampungsoal.com
28. kampungsoal.com
29. kampungsoal.com
30. kampungsoal.com
31. kampungsoal.com
32. kampungsoal.com
33. kampungsoal.com
34. kampungsoal.com

35. Jawab : B
Menurut koran tempo.co. Tertanggal 6 Agustus 2014, urutan 4 besar pendapatan per kapita di ASEAN adalah sebagai berikut:
1) Singapura
2) Malaysia
3) Thailand
4) Indonesia

36. Jawab : C
Air permukaan terdiri dari:
- Perairan darat : sungai, danau, rawa
- Perairan laut: laut dan samudera

Air bawah pemukaan terdiri dari:
- Air preatis : di atas lapisan kedap air
- Air artesis : di antara dua lapisan kedap air.

37. kampungsoal.com
38. kampungsoal.com
39. kampungsoal.com
40. kampungsoal.com
41. kampungsoal.com
42. kampungsoal.com
43. kampungsoal.com
44. kampungsoal.com
45. kampungsoal.com

46. Jawab : A
Indeks pembangunan manusia disusun dari variabel:
- Angka harapan hidup
- Angka melek huruf
- Rata-rata lama sekolah
- Pengeluaran riil per kapita yang disesuaikan UNDP. Mengukur standar hidup layak menggunakan Produk Domestik Bruto (PDB) riil yang disesuaikan. (Sumber: BPS)

47. kampungsoal.com
48. kampungsoal.com
49. kampungsoal.com
50. kampungsoal.com

kampungsoal.com

51. kampungsoal.com
52. kampungsoal.com
53. kampungsoal.com
54. kampungsoal.com
55. kampungsoal.com
56. kampungsoal.com
57. kampungsoal.com
58. kampungsoal.com

59. Jawab : D

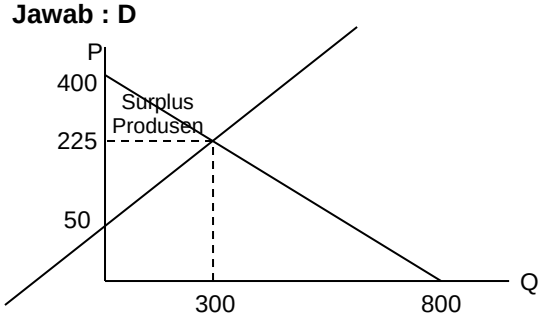

$Qd = 800 - 2p$
$Q = 0 \quad P = 400 \rightarrow (0{,}400)$
$Q = 800 \quad P = 0 \rightarrow (800{,}0)$

$2Qs = -200 + 4P \rightarrow Qs = -100 + 2P$
$Q = 0 \quad P = 50 \rightarrow (0{,}50)$
$Q = -100 \quad P = 0 \rightarrow (-100{,}0)$

$Qd = Qs$
$800 - 2P = -100 + 2P$
$900 = 4P \rightarrow 225 = P$
$Qd = 800 - 2P$
$= 800 - 2(225) = 800 - 450 = 350$

L daerah surplus produsen :
$= \frac{1}{2}.a.t = \frac{1}{2}.175.350$

$= \frac{1}{2}.61250 = 30.625$

60. kampungsoal.com
61. kampungsoal.com
62. kampungsoal.com
63. kampungsoal.com
64. kampungsoal.com
65. kampungsoal.com
66. kampungsoal.com
67. kampungsoal.com

68. Jawab : C
Pasar persaingan sempurna merupakan bentuk pasar yang paling efisien karena harga jual sama dengan penerimaan marginal dan penerimaan rata-rata dan keuntungan maksimum terjadi saat MR=MC

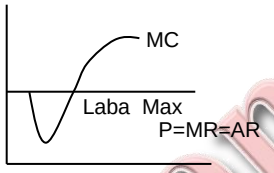

Produsen di pasar persaingan sempurna merupakan *price taker* dan bukan *price maker* (penentu harga).

69. kampungsoal.com
70. kampungsoal.com
71. kampungsoal.com
72. kampungsoal.com

73. Jawab : D
Dampak kerjasa ACFTA dalam jangka pendek terhadap perekonomian domestik :
- Tingkat pengangguran meningkat karena tutupnya perusahaan yang tidak mampu bersaing dalam produksi yang lebih rendah
- Neraca perdagangan negatif
- Daya saing produk dalam negeri terancam karena produk dari Cina memiliki harga yang lebih murah.

74. kampungsoal.com
75. kampungsoal.com

Kampungsoal.com

TAHUN 2011 DAN 2012 TIDAK DILAKSANAKAN SELEKSI UM UTUL UGM

kampungsoal.com

UJIAN MASUK UNIVERSITAS GADJAH MADA

2013

kampungsoal.com

NASKAH UJIAN

TES KEMAMPUAN SOSHUM

SEJARAH, GEOGRAFI, EKONOMI

277

TES KEMAMPUAN SOSHUM

TANGGAL UJIAN : 7 JULI 2013
WAKTU : 90 menit
JUMLAH SOAL : 75

SEJARAH

Petunjuk A dipergunakan dalam menjawab soal nomor 1 sampai dengan nomor 15

1. Salah satu dasar perjuangan Mahatma Gandhi adalah menganjurkan rakyat India untuk memakai barang-barang buatan negeri sendiri. Ajaran ini dikenal dengan
   (A) Ahimsa
   (B) Swadeshi
   (C) Satya Graha
   (D) Hartal
   (E) Santiniketan

2. Salah satu tujuan Jepang menguasai Indonesia adalah
   (A) Membebaskan rakyat dari Penjajah Belanda
   (B) Memberikan bantuan ekonomi bagi rakyat yang terjajah
   (C) Pembebasan Indonesia dari pengaruh kebudayaan barat
   (D) Memperoleh dukungan Asia untuk memenangkan perang Asia Timur Raya
   (E) Memberikan bantuan militer untuk melawan Belanda

3. Peradaban Yunani, Romawi, Inca, Maya, dan Aztec memiliki persamaan dalam hal-hal sebagai berikut, kecuali
   (A) Memuja banyak dewa
   (B) Mengenal perintah raja
   (C) Pernah ditaklukkan bangsa lain
   (D) Sama-sama mengembangkan pemerintah absolut
   (E) Memiliki bangunan untuk pemujaan

4. Pada mulanya kedatangan bangsa barat ke Indonesia didorong oleh motif
   (A) Politik
   (B) Budaya
   (C) Ekspansi kekuasaan
   (D) Penyebaran agama
   (E) Ekonomi

5. kampungsoal.com
6. kampungsoal.com
7. kampungsoal.com
8. kampungsoal.com
9. kampungsoal.com
10. kampungsoal.com
11. kampungsoal.com
12. kampungsoal.com
13. kampungsoal.com
14. kampungsoal.com
15. kampungsoal.com

Petunjuk B dipergunakan dalam menjawab soal nomor 16 sampai dengan nomor 21

16. kampungsoal.com
17. kampungsoal.com
18. kampungsoal.com
19. kampungsoal.com

20. Undang-undang gula yang diberlakukan pada masa Van Der Wall tahun 1870 merupakan puncak perjuangan melawan Cultur Stelsel di Hindia Belanda
    SEBAB
    Undang-undang gula Van Der Wall memberi kesempatan seluas-luasnya bagi perkembangan pengusaha-pengusaha partikelir

21. Pada masa demokrasi terpimpin arah politik Indonesia lebih cenderung pada blok Nefos (New Emerging Forces)
    SEBAB
    Doktrin politik Nefos berasal dari negara-negara sosialis dan negara-negara baru Asia dan Afrika

Petunjuk C dipergunakan dalam menjawab soal nomor 22 sampai dengan nomor 25

22. Berdasarkan perjanjian San Fransisco pada September 1951, Jepang mendapatkan kembali wilayahnya sebelum Perang Dunia II, namun beberapa pulau miliknya tetap dikuasai Amerika Serikat sebagai pangkalan militer. Pulau-pulau tersebut adalah
    (1) Bonin
    (2) Okinawa
    (3) Ryukyu
    (4) Formosa

23. Cita-cita nasionalisme Dr. Sun Yat Sen dan partainya Kuo Min Tang menginginkan negara Cina baru yang berdasarkan atas San Min Shu yang antara lain berasas
    (1) Komunisme
    (2) Sosilalisme
    (3) Liberalisme
    (4) Demokrasi

24. kampungsoal.com
25. kampungsoal.com

Kampungsoal.com

<u>Petunjuk A</u> dipergunakan dalam menjawab soal nomor 26 sampai dengan nomor 40

26. kampungsoal.com
27. kampungsoal.com
28. kampungsoal.com
29. kampungsoal.com
30. kampungsoal.com
31. kampungsoal.com
32. kampungsoal.com
33. kampungsoal.com

34. Arus yang timbul karena perbedaan kadar garam dan suhu air laut adalah arus
    (A) Up-welling
    (B) Down-welling
    (C) Thermohaline
    (D) Labrador
    (E) Oyashiwo

35. Pemanfaatan teknologi Sistem Informasi Geografis (SIG) diterapkan pada berbagai aspek berikut, kecuali
    (A) Perencanaan tata ruang wilayah
    (B) Kesesuaian tanaman
    (C) Pendekatan daerah rawan bencana
    (D) Pendekatan letusan gunung merapi
    (E) Pemantauan daerah aliran sungai

36. Ilmu yang mempelajari relief permukaan bumi, dan segala proses yang menghasilkan bentuk-bentuk yang ada di atasnya disebut
    (A) Geomorfologi
    (B) Geologi
    (C) Geodesi
    (D) Klimatologi
    (E) Landform

37. Lapisan ozon terdapat di
    (A) Troposfer
    (B) Stratosfer
    (C) Ionosfer
    (D) Termosfer
    (E) Eksosfer

38. kampungsoal.com
39. kampungsoal.com
40. kampungsoal.com

<u>Petunjuk B</u> dipergunakan dalam menjawab soal nomor 41 sampai dengan nomor 44

41. Pabrik semen digolongkan sebagai industri non ekstraktif
    SEBAB
    Industri non ekstraktif adalah industri yang bahan bakunya diperoleh langsung dari alam

42. Estuaria merupakan wilayah persinggungan antara ekositem darat dan laut
    SEBAB
    Muara Kali Brantas merupakan bentuk estuaria

43. kampungsoal.com
44. kampungsoal.com

<u>Petunjuk C</u> dipergunakan dalam menjawab soal nomor 45 sampai dengan nomor 50

45. Kota di Indonesia yang tumbuh karena dukungan kegiatan pertambangan adalah
    (1) Pangkal pinang
    (2) Timika
    (3) Martapura
    (4) Soroako

46. Informasi yang diperoleh melalui foto udara memiliki kelebihan bila dibandingkan dengan informasi yang diperoleh dari foto satelit, terutama karena
    (1) Lebih murah untuk liputan daerah yang sama luasnya
    (2) Lebih rinci
    (3) Tidak terhalang oleh awan
    (4) Dapat dilihat gambaran tiga dimensi

47. kampungsoal.com
48. kampungsoal.com
49. kampungsoal.com
50. kampungsoal.com

kampungsoal.com

<u>Petunjuk A</u> dipergunakan dalam menjawab soal nomor 51 sampai dengan nomor 66

51. kampungsoal.com
52. kampungsoal.com
53. kampungsoal.com
54. kampungsoal.com
55. kampungsoal.com
56. kampungsoal.com
57. kampungsoal.com
58. kampungsoal.com
59. kampungsoal.com
60. kampungsoal.com
61. kampungsoal.com
62. kampungsoal.com

63. Salah satu alasan yang menyebabkan struktur pasar monopoli tidak efisien dari sudut pandang pengalokasian sumber daya dalam masyarakat adalah
    (A) Tidak adanya persaingan
    (B) Munculnya *dead-weight loss*
    (C) Jumlah output di pasar terbatas
    (D) Tidak adanya barang pengganti
    (E) Harga barang tinggi

64. Semakin terbukanya suatu industri pada perdagangan internasional akan menyebabkan
    (A) *Market power* semakin rendah
    (B) Impor semakin besar
    (C) *Market power* semakin tinggi
    (D) Impor semakin kecil
    (E) Kemungkinan ekspor semakin kecil

65. Untuk menekankan bahwa kreditur mempunyai hak utama atas kekayaan perusahaan, maka susunan persamaan dasar akuntansi dapat diubah sebagai berikut
    (A) Kewajiban – Aktiva = Modal
    (B) Modal – Aktiva = Kewajiban
    (C) Aktiva – Kewajiban = Modal
    (D) Modal – Kewajiban = Aktiva
    (E) Aktiva – Modal = Kewajiban

66. Pada tingkat pendapatan sebesar Rp 1.000.000,00, pengeluaran konsumsi rumah tangga sebesar Rp 1.300.000,00. Ketika pendapatan meningkat menjadi Rp 1.250.000,00, pengeluaran konsumsi rumah tangga juga meningkat menjadi Rp 1.500.000,00. Berdasarkan informasi tersebut, maka rumah tangga akan mencapai titik impas (*break even point*) pada tingkat pendapatan sebesar
    (A) Rp 2.625.000,00
    (B) Rp 1.250.000,00
    (C) Rp 1.400.000,00
    (D) Rp 1.500.000,00
    (E) Rp 2.550.000,00

<u>Petunjuk B</u> dipergunakan dalam menjawab soal nomor 67 sampai dengan nomor 70

67. kampungsoal.com
68. kampungsoal.com

69. Dalam perekonomian sederhana, nilai tabungan akan sama dengan nilai investasi pada satu tahun tertentu
    SEBAB
    Sumber dana investasi berasal dari tabungan yang dibentuk dari masyarakat dan pemerintah

70. Barang *Giffen* adalah barang mewah yang efek pendapatannya lebih besar daripada efek subtitusinya
    SEBAB
    Barang *Giffen* dapat diperoleh dengan pengorbanan yang sangat tinggi

<u>Petunjuk C</u> dipergunakan dalam menjawab soal nomor 70 sampai dengan nomor 75

71. Dalam menjalankan usahanya, Bank Perkreditan Rakyat (BPR) dilarang
    (1) Melakukan kegiatan usaha dalam valuta asing
    (2) Melakukan kegiatan usaha asuransi
    (3) Menerima simpanan berupa giro
    (4) Menerima simpanan berupa deposito berjangka

72. Kurva permintaan untuk barang normal bergeser ke kanan jika
    (1) Pendapatan masyarakat meningkat
    (2) Jumlah penduduk bertambah
    (3) Harga barang pengganti maupun barang komplementer meningkat
    (4) Perubahan harga normal itu sendiri

73. kampungsoal.com
74. kampungsoal.com
75. kampungsoal.com

kampungsoal.com



PEMBAHASAN SOSHUM 2013

SEJARAH

1. Jawab : B

Ajaran Mahatma Gandhi dalam perjuangan rakyat India terjadap kolonialisme Inggris adalah sebagai berikut:

- Ahimsa : berjuang tanpa melakukan kekerasan
- Swadeshi : berjuang dengan menggunakan apa yang dihasilkan negeri sendiri dan tidak memakai produk asing terutama produk dari Inggris
- Satyagraha : berjuang dengan cara non kooperatif atau tidak bekerjasama dengan pihak inggris
- Hartal : melakukan pemogokan kerja bagi buruh terutama yang bekerja pada perusahaan milik inggris
- Santiniketan : perjuangan melalui pengembangan bidang pendidikan.

2. kampungsoal.com
3. kampungsoal.com
4. kampungsoal.com
5. kampungsoal.com
6. kampungsoal.com
7. kampungsoal.com
8. kampungsoal.com
9. kampungsoal.com
10. kampungsoal.com
11. kampungsoal.com
12. kampungsoal.com
13. kampungsoal.com
14. kampungsoal.com
15. kampungsoal.com
16. kampungsoal.com
17. kampungsoal.com
18. kampungsoal.com
19. kampungsoal.com

20. Jawab : D

Undang-undang gula bukanlah merupakan puncak perjuangan terhadap Cultur stelsel, akan tetapi undang-undang gula merupakan pengganti dari system tanam paksa dengan lebih memberikan kesempatan bagi perkembangan pengusaha partikelir

21. kampungsoal.com

22. Jawab : A

Pada perjanjian San Fransisco (1951) Jepang mendapatkan kembali wilayahnya sebelum perang dunia II, namun beberapa pulau miliknya tetap dikuasai Amerika Serikat sebagai pangkalan militer. Pulau tersebut adalah:

- Ogasawara
- Ryukyu
- Okinawa
- Amami
- Miyakojima
- Yaeyama

Formosa lepas dan sekarang menjadi negara Taiwan

23. kampungsoal.com
24. kampungsoal.com
25. kampungsoal.com

kampungsoal.com

26. kampungsoal.com
27. kampungsoal.com
28. kampungsoal.com
29. kampungsoal.com
30. kampungsoal.com
31. kampungsoal.com
32. kampungsoal.com
33. kampungsoal.com

34. Jawab : C
Up welling : arus naik menuju permukaan laut
Down welling : arus turun dari permukaan laut
Labrador : arus dingin di samudera atlantik utara
Oyashiwo : arus dingin di samudera pasifik utara

35. kampungsoal.com
36. kampungsoal.com
37. kampungsoal.com
38. kampungsoal.com
39. kampungsoal.com
40. kampungsoal.com

41. Jawab : E
Pabrik semen termasuk industri ekstraktif
- Industri ekstraktif = bahan baku langsung dari alam
- Industri non ekstraktif = bahan baku dari industri lain

42. kampungsoal.com
43. kampungsoal.com
44. kampungsoal.com

45. Jawab : E
Pangkal pinang = tambang timah
Timika = tambang emas
Martapura = tambang intan
Soroako = tambang nikel

46. kampungsoal.com
47. kampungsoal.com
48. kampungsoal.com
49. kampungsoal.com
50. kampungsoal.com

kampungsoal.com

51. kampungsoal.com
52. kampungsoal.com
53. kampungsoal.com
54. kampungsoal.com
55. kampungsoal.com
56. kampungsoal.com
57. kampungsoal.com
58. kampungsoal.com
59. kampungsoal.com
60. kampungsoal.com
61. kampungsoal.com
62. kampungsoal.com
63. kampungsoal.com
64. kampungsoal.com
65. kampungsoal.com

66. Jawab : A

$$\frac{y - y_1}{y_2 - y_1} = \frac{c - c_1}{c_2 - c_1}$$

$$\frac{y - 1000}{250} = \frac{c - 1300}{200}$$

$$20y = 200000 = 250c - 32500$$

$$20y = 250c - 52500$$

$$y = 1{,}25c = 2625(pendapatan\ otonom)$$

67. kampungsoal.com
68. kampungsoal.com
69. kampungsoal.com

70. Jawab : E

Barang *Giffen* adalah barang yang jika harganya turun maka permintaannya akan turun, naiknya harga barang *giffen* akan menaikkan permintaannya (berlawanan dengan hukum ekonomi). Hal ini bisa dikaitkan dengan barang mewah, jika barang tersebut naik, maka konsumen akan cenderung tertarik menambah pendapatannya untuk memiliki barang tersebut. Maka barang tersebut dapat diperoleh dengan pengorbanan yang sangat tinggi.

71. kampungsoal.com

72. Jawab : A

Kurva permintaan bergeser disebabkan oleh faktor selain harga barang itu sendiri, misalnya :

1. Jumlah penduduk
2. Pendapatan
3. Selera konsumen
4. Harga barang lain
5. Ekspektasi

73. kampungsoal.com
74. kampungsoal.com
75. kampungsoal.com

kampungsoal.com

UJIAN MASUK UNIVERSITAS GADJAH MADA

2014

kampungsoal.com

NASKAH UJIAN

TES KEMAMPUAN SOSHUM

SEJARAH, GEOGRAFI, EKONOMI

541

TES KEMAMPUAN SOSHUM

TANGGAL UJIAN : 22 JUNI 2014
WAKTU : 90 menit
JUMLAH SOAL : 75

SEJARAH

Petunjuk A digunakan untuk menjawab soal nomor 1 sampai dengan nomor 10

1. kampungsoal.com

2. Pada umumnya karya-karya sastra pada masa Indonesia Klasik itu berbentuk
   (A) Pujasastra
   (B) Wiracarita
   (C) Kakawin
   (D) Saduran
   (E) Gancaran

3. Faktor utama memicu berakhirnya perang dingin yang telah berlangsung sejak tahun 1949 adalah
   (A) Perebutan kekuasaan di Uni Soviet pada Agustus 1991
   (B) Kebijakan *Glanost* dan *Perestroika* oleh Micahel Gorbachev
   (C) Pembentukan organisasi serikat buruh independen di Polandia
   (D) Reunifikasi Jerman pada tahun 1989
   (E) Pemisahan diri sejumlah republik dari Uni Soviet

4. Pernyataan mana yang lebih inklusif terhadap realitas historis
   (A) Kemerdekaan Indonesia hasil perjuangan Bangsa Indonesia
   (B) Kata "Indonesia" dalam teks proklamasi telah diusulkan dan dibahas dalam Kongres Pemuda tahun 1928
   (C) Masyarakat Indonesia turut berperan bagi pencapaian pengakuan kedaulatan Indonesia
   (D) Kaum terpelajar Indonesia di Belanda berhasil menyatukan gagasan-gagasan tentang kemerdekaan Indonesia
   (E) Kaum bangsawan di Nusantara merupakan tokoh-tokoh utama kemerdekaan Indonesia

5. Berikut ini adalah permasalahan-permasalahan pada sektor ekonomi yang berperan atas keruntuhan orde baru, *kecuali*
   (A) *Letter of Credit* (L/C) dari Indonesia tidak diterima untuk perdagangan dunia
   (B) Utang luar negeri pemerintah dan swasta yang menumpuk
   (C) Persediaan sembako menipis dan harga-harga melambung
   (D) Gagalnya upaya penyehatan perbankan nasional yang bermasalah
   (E) Masuknya intervensi asing dalam jumlah yang sangat besar

6. kampungsoal.com
7. kampungsoal.com
8. kampungsoal.com
9. kampungsoal.com
10. kampungsoal.com

Petunjuk B digunakan untuk menjawab soal nomor 11 sampai dengan nomor 18

11. kampungsoal.com
12. kampungsoal.com

13. Serbuan tentara Mataram terhadap markas VOC di Batavia pada tahun 1628 dan 1629 mengalami kegagalan
    SEBAB
    Tentara Mataram kekurangan bahan makanan dan gudang-gudang bahan makanan dibakar VOC

14. Penyebaran Islam di Indonesia dapat dilakukan melalui seni
    SEBAB
    Bukti-bukti pengaruh Islam dalam seni sangat banyak, misalnya dalam seni ukir, kaligrafi, relief pada pintu gerbang makam, tradisi sekaten, pertunjukan wayang, debus, dan tarian

15. kampungsoal.com
16. kampungsoal.com
17. kampungsoal.com
18. kampungsoal.com

Petunjuk C digunakan untuk menjawab soal nomor 19 sampai dengan nomor 25

19. kampungsoal.com
20. kampungsoal.com
21. kampungsoal.com

22. Candi Jago mempunyai beberapa ciri yang menggambarkan gaya seni bangunan zaman Majapahit, yakni
    (1) Susunan kaki candi yang beringkat tiga
    (2) Makara yang ada di ujung tangga
    (3) Selasar berundak di depan candinya
    (4) Susunan atap yang meruncing ke atas

23. Dalam peradaban yang berkembang di kawasan Mesopotamia diketahui bahwa untuk pertama kalinya dalam sejarah ditemukan pembuatan
    (1) Batu bata
    (2) Roda
    (3) Bajak
    (4) Gerabah

24. kampungsoal.com
25. kampungsoal.com

kampungsoal.com

Petunjuk A digunakan untuk menjawab soal nomor 26 sampai dengan nomor 43

26. kampungsoal.com
27. kampungsoal.com
28. kampungsoal.com
29. kampungsoal.com
30. kampungsoal.com
31. kampungsoal.com
32. kampungsoal.com
33. kampungsoal.com
34. kampungsoal.com
35. kampungsoal.com
36. kampungsoal.com
37. kampungsoal.com
38. kampungsoal.com
39. kampungsoal.com

40. Tingkat perkembangan kota seperti Jabodetabek dan Gerbang Kertosusilo, termasuk pada stadium
    (A) *Formative*
    (B) *Modern*
    (C) *Senile*
    (D) *Juvenile*
    (E) *Mature*

41. Berikut ini yang bukan merupakan dampak positif dari globalisasi adalah masyarakat
    (A) Mengalami *culture lag* di kota dan di desa
    (B) Bersifat kritis dan aktif
    (C) Menjunjung tinggi kebudayaan asing
    (D) Cenderung konsumtif dan selektif
    (E) Mempunyai kepercayaan diri yang tinggi

42. Negara Inggris disebut Albion (negeri putih) karena
    (A) Sebagian besar penduduknya berkulit putih
    (B) Sepanjang pantai timur terdapat pegunungan gamping
    (C) Wilayahnya selalu diselimuti salju putih
    (D) Sebagian besar wilayahnya ditanami kayu putih
    (E) Perairan lautnya banyak ditemukan bongkahan-bongkahan es

43. Sistem pertanian di Amerika Serikat (USA) dikerjakan secara
    (A) Intensif dan mekanisasi
    (B) Intensif dan ekstensif
    (C) Ekstensif dan mekanisasi
    (D) Diversifikasi dan ekstensifikasi
    (E) Diversifikasi dan intensifikasi

Petunjuk C digunakan untuk menjawab soal nomor 44 sampai dengan nomor 47

44. Untuk menghindari masalah pencemaran, maka pembangunan industri perlu diarahkan pada
    (1) Pembatasan bahan mentah
    (2) Penetapan skala industri
    (3) Pembatasan konversi lahan
    (4) Penerapan AMDAL

45. Aplikasi pemanfaatan Sistem Informasi Geografis melalui analisis jaringan dalam perencanaan pengembangan wilayah dapat digunakan untuk
    (1) Perencanaan sebaran penduduk
    (2) Perencanaan transportasi
    (3) Perencanaan kebutuhan bangunan
    (4) Perencanaan utilitas

46. kampungsoal.com
47. kampungsoal.com

Petunjuk B digunakan untuk menjawab soal nomor 48 sampai dengan nomor 50

48. kampungsoal.com

49. Wilayah Indonesia didominasi oleh lautan sehingga mempunyai dampak pada suhu udara
    SEBAB
    Dengan wilayah perairan yang luas menyebabkan perbedaan suhu maksimal dan minimum tahunan besar

50. Konversi lahan hutan menjadi lahan non pertanian dapat menimbulkan bahaya banjir dan kekeringan
    SEBAB
    Penggunaan lahan non pertanian menurunkan aliran permukaan

kampungsoal.com

<u>Petunjuk A</u> digunakan untuk menjawab soal nomor 51 sampai dengan nomor 63

51. kampungsoal.com
52. kampungsoal.com
53. kampungsoal.com
54. kampungsoal.com

55. Diketahui barang X adalah barang normal. Jika selera masyarakat terhadap barang X meningkat karena dipandang bahwa mengkonsumsi barang X mampu meningkatkan gengsi seseorang, maka
    (A) Jumlah barang X yang diminta mengalami penurunan
    (B) Kurva permintaan bergeser ke sebelah kiri bawah
    (C) Kurva permintaan bergeser ke sebelah kanan atas
    (D) Jumlah barang X yang diminta tidak berubah
    (E) Kurva permintaan tidak akan bergeser karena perubahan selera tersebut

56. Diketahui total biaya (*TC*) dari perusahaan *Z* adalah sebagai berikut : $TC = Q^3 - 10Q^2 + 300Q$. Maka biaya rata-rata (*AC*) akan mencapai minimum jika perusahaan berproduksi pada kuantitas (*Q*)
    (A) 4 unit
    (B) 4,5 unit
    (C) 5 unit
    (D) 5,5 unit
    (E) 6 unit

57. Pada suatu negara, jumlah uang yang beredar adalah sebanyak 100 juta rupiah, kecepatan peredaran uang sebesar 8 kali, dan jumlah barang yang diperdagangkan adalah sebesar 200 unit. Berapakah tingkat harga rata-rata barang?
    (A) Rp1.000.000,00
    (B) Rp2.000.000,00
    (C) Rp3.000.000,00
    (D) Rp4.000.000,00
    (E) Rp5.000.000,00

58. Salah satu tugas manajer keuangan ialah mengalokasikan sumber dana. Kegiatan yang termasuk alokasi sumber dana adalah sebagai berikut, *kecuali*
    (A) Penanaman modal jangka pendek
    (B) Pembangunan gedung bertingkat
    (C) Pembelian surat berharga
    (D) Pembelian pinjaman
    (E) Penerbitan saham

59. kampungsoal.com
60. kampungsoal.com
61. kampungsoal.com
62. kampungsoal.com
63. kampungsoal.com

<u>Petunjuk B</u> digunakan untuk menjawab soal nomor 64 sampai dengan nomor 69

64. kampungsoal.com
65. kampungsoal.com
66. kampungsoal.com
67. kampungsoal.com

68. Mobil yang dibeli untuk dijual kembali oleh perusahaan merupakan contoh dari investasi riil
    SEBAB
    Investasi riil adalah investasi dalam bentuk aset yang berwujud dan sifatnya jangka panjang

69. Kebijakan fiskal tidak berhubungan dengan kebijakan moneter
    SEBAB
    Tujuan kebijakan fiskal adalah untuk memastikan stabilitas ekonomi sedangkan tujuan moneter bertujuan untuk menjaga stabilitas nilai uang dan menjaga likuiditas perekonomian

<u>Petunjuk C</u> digunakan untuk menjawab soal nomor 70 sampai dengan nomor 75

70. kampungsoal.com
71. kampungsoal.com
72. kampungsoal.com
73. kampungsoal.com

74. Manakah dari berikut ini yang merupakan asumsi dari pendekatan konsumen ordinal?
    (1) Konsumen mempunyai skala preferensi
    (2) Konsumen berpikir rasional
    (3) Konsumen lebih menyukai banyak dibandingkan sedikit
    (4) Terjadinya hukum *the law of diminishing return*

75. Ekonomi mikro dan makro berbeda dilihat dari beberapa aspek di bawah ini
    (1) Cara mendefinisikan harga
    (2) Unit analisis
    (3) Tujuan analisis
    (4) Lingkup

kampungsoal.com



PEMBAHASAN SOSHUM 2014

SEJARAH

1. kampungsoal.com
2. kampungsoal.com
3. kampungsoal.com
4. kampungsoal.com

5. **Jawab : E**
   Semua opsi benar kecuali poin E. masuknya intervensi asing dalam julmah yang sangat besar. Asing memang memiliki intervensi terhadap perekonomian Indonesia pada masa orde baru akan tetapi system perekonomian Indonesia masih memiliki kedaulatan dalam menentukan masa depan perekonomian dan menjalankan roda perekonomian seperti yang tertuang dalam UUD pasal 33 ayat (1), (2), dan (3)

6. kampungsoal.com
7. kampungsoal.com
8. kampungsoal.com
9. kampungsoal.com
10. kampungsoal.com
11. kampungsoal.com
12. kampungsoal.com

13. **Jawab : C**
    Serbuan tentara Mataram terhadap VOC di Batavia pada tahun 1628 dan 1629 mengalami kegagalan yang disebabkan oleh kekurangan bahan makanan dan kalahnya persenjataan yang dimiliki tentara Mataram. Akan tetapi tidak terjadi pembakaran gudang makanan oleh VOC.

14. kampungsoal.com
15. kampungsoal.com
16. kampungsoal.com
17. kampungsoal.com
18. kampungsoal.com
19. kampungsoal.com
20. kampungsoal.com
21. kampungsoal.com

22. **Jawab : E**
    Ciri-ciri candi di masa Kerajaan Majapahit yang dicontohkan dalam candi Jago berupa:
    - Susunan atap yang meruncing ke atas (berbentuk meru)
    - Terdapat selasar berundak di depan candinya
    - Makara yang berada di ujung tangga
    - Susunan kaki candi yang bertingkat tiga

23. kampungsoal.com
24. kampungsoal.com
25. kampungsoal.com

kampungsoal.com

26. kampungsoal.com
27. kampungsoal.com
28. kampungsoal.com
29. kampungsoal.com
30. kampungsoal.com
31. kampungsoal.com
32. kampungsoal.com
33. kampungsoal.com
34. kampungsoal.com
35. kampungsoal.com
36. kampungsoal.com
37. kampungsoal.com
38. kampungsoal.com
39. kampungsoal.com
40. kampungsoal.com
41. kampungsoal.com
42. kampungsoal.com

43. Jawab : A
Intensifikasi pertanian merupakan pengolahan lahan yang bertujuan untuk meningkatkan hasil pertanian dengan program sapta usaha tani.
Ekstensifikasi pertanian merupakan usaha meningkatkan hasil pertanian dengan cara menambah luas lahan
Diversifikasi pertanian merupakan usaha penganekaragaman jenis tanaman pertanian
Mekanisasi pertanian merupakan usaha peningkatan hasil pertanian dengan menggunakan peralatan modern.

44. Jawab : D
AMDAL (Analisis Mengenai Dampak Lingkungan Hidup) adalah kajian mengenai damoak oenting suatu usaha dan atau kegiatan yang direncanakan pada lingkungan hidup yang diperlukan bagi proses pengambilan keputusan tentang penyelenggaraan usaha dan atau kegiatan (UU No.32 Tahun 2009).

45. kampungsoal.com
46. kampungsoal.com
47. kampungsoal.com
48. kampungsoal.com
49. kampungsoal.com

50. Jawab : C
Penggunaan lahan non pertanian seperti jalan konblok dan gedung justru meningkatkan aliran permukaan.

kampungsoal.com

51. kampungsoal.com
52. kampungsoal.com
53. kampungsoal.com
54. kampungsoal.com

55. Jawab : C
Jika permintaan meningkat akibat dari selain perubahan harga barang itu sendiri, maka mengakibatkan pergeseran kurva pada kurva permintaan.
- Permintaan bertambah → bergeser kekanan atas
- Permintaan berkurang → bergeser ke kiri bawah

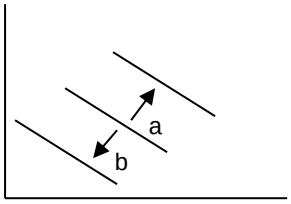

56. kampungsoal.com
57. kampungsoal.com
58. kampungsoal.com
59. kampungsoal.com
60. kampungsoal.com
61. kampungsoal.com
62. kampungsoal.com
63. kampungsoal.com
64. kampungsoal.com
65. kampungsoal.com
66. kampungsoal.com
67. kampungsoal.com
68. kampungsoal.com

69. Jawab : B
Kebijakan fiskal dan moneter memiliki pengaruh yang saling berkaitan meski dari sudut analisis yang berbeda.
- Kebijakan fiskal = untuk memastikan stabilitas ekonomi
- Kebijakan moneter = untuk menjaga stabilitas nilai uang dan liquiditas perekonomian

70. kampungsoal.com
71. kampungsoal.com
72. kampungsoal.com
73. kampungsoal.com
74. kampungsoal.com

75. Jawab : E

	Makro	**Mikro**
Sisi harga	Harga agregat	Harga satuan
Unit analisis	Agregatif	Tingkah laku individu
Tujuan analisis	Keseluruhan	Individu
Lingkup	Suatu kelompok atau wilayah	Pola individu

kampungsoal.com

UJIAN MASUK UNIVERSITAS GADJAH MADA

2015

kampungsoal.com

NASKAH UJIAN

TES KEMAMPUAN SOSHUM

SEJARAH, GEOGRAFI, EKONOMI

647

TES KEMAMPUAN SOSHUM

TANGGAL UJIAN : 14 JUNI 2015
WAKTU : 90 menit
JUMLAH SOAL : 75

SEJARAH

Petunjuk A dipergunakan dalam menjawab soal nomor 1 sampai dengan nomor 10

1. kampungsoal.com
2. kampungsoal.com
3. kampungsoal.com
4. kampungsoal.com
5. kampungsoal.com
6. kampungsoal.com

7. Salah satu faktor yang mendukung terjadinya Perang Dingin adalah
   (A) Perlombaan senjata antara Amerika Serikat dan Uni Soviet
   (B) Gagasan Revolusi Bolshevik yang akan disebarkan ke seluruh dunia
   (C) Perluasan kekuasaan dan pengaruh politik Uni Soviet ke Eropa Timur
   (D) Penemuan dan penggunaan senjata nuklir oleh Amerika Serikat dan Uni Soviet
   (E) Kekhawatiran akan timbulnya perang dunia berikutnya karena perbedaan ideologi

8. Organisasi pergerakan yang mengeluarkan menifesto tahun 1925 adalah
   (A) Taman Siswa
   (B) *Indische Partij*
   (C) Partai Indonesia Raya
   (D) Perhimpunan Indonesia
   (E) Partai Nasional Indonesia

9. Pada pertengahan abad ke-20 Amerika Serikat mengeluarkan kebijakan yang berkaitan dengan hak asasi manusia, yaitu
   (A) Menghapus perbudakan
   (B) Menghapus diskriminasi warga kulit hitam
   (C) Mengizinkan orang-orang hispanik tinggal di Amerika Serikat
   (D) Memasukkan deklarasi pengakuan hak-hak manusia dalam konstitusi
   (E) Menerima warga non kulit putih sebagai calon presiden dan anggota parlemen

10. Salah satu dampak diterapkannya Sistem Tanam Paksa di Jawa adalah
    (A) Menyebarnya kemiskinan di antara petani Jawa
    (B) Terbentuknya laskar perlawanan petani Jawa terhadap Belanda
    (C) Tergarapnya lahan-lahan pertanian yang sebelumnya terbengkalai
    (D) Hilangnya produk-produk unggulan pertanian dari pasar pertanian di Jawa
    (E) Semakin sibuknya pelabuhan Tanjung Priok dan Tanjung Perak dengan hasil pertanian untuk ekspor

Petunjuk B dipergunakan dalam menjawab soal nomor 11 sampai dengan nomor 18

11. kampungsoal.com
12. kampungsoal.com
13. kampungsoal.com
14. kampungsoal.com

15. Fidel Castro dan Che Guevara merupakan tokoh dalam pergerakan sosialisme di Kuba
    SEBAB
    Pada tahun 1956, mereka menyusun dan membangun rencana kekuatan bersama guna melumpuhkan kekuatan militer Batista

16. Teori Ksatria menyatakan bahwa penyebaran agama Hindu ke Indonesia dibawa oleh orang-orang India berkasta Ksatria
    SEBAB
    Di India telah terjadi kekacauan politik sehingga para ksatria yang kalah melarikan diri ke Indonesia kemudian mereka mendirikan kerajaan-kerajaan dan menyebarkan agama Hindu

17. kampungsoal.com
18. kampungsoal.com

Petunjuk C dipergunakan dalam menjawab soal nomor 19 sampai dengan nomor 25

19. kampungsoal.com
20. kampungsoal.com
21. kampungsoal.com
22. kampungsoal.com
23. kampungsoal.com

24. Sumber penulisan sejarah yang dikategorikan sebagai sumber primer adalah
    (1) Arsip atau dokumen
    (2) Surat kabar sezaman
    (3) Video suatu peristiwa
    (4) Catatan harian

25. Seorang wartawan, Mas Marco Kartodikromo, termasuk pengarang roman yang produktif pada zamannya dan menerbitkan banyak sastra roman antara lain
    (1) Mata Gelap (1914)
    (2) Student Hidjo (1919)
    (3) Syair Rempah-rempah (1919)
    (4) Rasa Merdeka (1924)

kampungsoal.com

<u>Petunjuk A</u> dipergunakan dalam menjawab soal nomor 26 sampai dengan nomor 43

26. Berdasarkan tahap proses produksinya, industri besi-baja di Cilegon, Banten termasuk dalam golongan industri
    (A) Berat
    (B) Besar
    (C) Fasilitatif
    (D) Hulu
    (E) Negara

27. Pola unit kegiatan dalam zona keruangan kota yang memisahkan daerah miskin atau daerah kumuh disebut
    (A) Sentralisasi
    (B) Desentralisasi
    (C) Nukliasi
    (D) Aglomerasi
    (E) Segregasi

28. Jika suatu wilayah kota mempuyai beberapa koridor jalur transportasi yang menyebar ke arah pinggiran kota maka akan mendorong struktur ruang kota dengan pola berbentuk
    (A) Pita (*ribbon shaped city*)
    (B) Terpecah (*fragmented city*)
    (C) Terbelah (*split city*)
    (D) Berantai (chained city)
    (E) Gurita (*octopus shaped city*)

29. Kebijakan pemerintah Indonesia untuk mengatasi pergeseran komposisi penduduk dari usia <15 tahun menjadi 15 – 25 tahun adalah
    (A) Mengurangi tingkat kelahiran
    (B) Meningkatkan fasilitas pendidikan dasar
    (C) Meningkatkan fasilitas kesehatan
    (D) Meningkatkan produktivitas tenaga kerja
    (E) Mengurangi beban ketergantungan

30. kampungsoal.com
31. kampungsoal.com
32. kampungsoal.com
33. kampungsoal.com
34. kampungsoal.com
35. kampungsoal.com
36. kampungsoal.com
37. kampungsoal.com
38. kampungsoal.com
39. kampungsoal.com
40. kampungsoal.com
41. kampungsoal.com
42. kampungsoal.com
43. kampungsoal.com

<u>Petunjuk C</u> dipergunakan dalam menjawab soal nomor 44 sampai dengan nomor 47

44. Faktor yang dapat mendorong munculnya kegiatan perdagangan dan transportasi antar daerah adalah
    (1) Diferensiasi wilayah
    (2) Kesamaan historis wilayah
    (3) Komplementer
    (4) Kesamaan fungsi wilayah

45. Batu marmer adalah batuan metamorf yang banyak digunakan untuk lantai bangunan mempunyai ciri sebagai berikut
    (1) Berasal dari batuan beku dalam
    (2) Batuan metamorfose oleh faktor tekanan, suhu, dan waktu
    (3) Mengalami perubahan akibat proses sedimentasi
    (4) Berasal dari batuan sedimen

46. kampungsoal.com
47. kampungsoal.com

<u>Petunjuk B</u> dipergunakan dalam menjawab soal nomor 48 sampai dengan nomor 50

48. Wilayah pedesaan berpotensi untuk program pengentasan kemiskinan
    SEBAB
    Kegiatan agroindustri membuka peluang kesempatan kerja yang lebih bagus

49. Sungai yang mengalir di atas batuan yang tidak/kurang resisten terhadap erosi akan membentuk kerapatan sungai rendah sedangkan pada batuan yang resisten (seperti granit) akan membentuk kerapatan sungai tinggi
    SEBAB
    Pola aliran dendritik dapat memiliki kerapatan sungai yang dikontrol oleh jenis batuannya

50. kampungsoal.com

KampungSoal.com

<u>Petunjuk A</u> dipergunakan dalam menjawab soal nomor 51 sampai dengan nomor 63

51. kampungsoal.com
52. kampungsoal.com
53. kampungsoal.com
54. kampungsoal.com
55. kampungsoal.com
56. kampungsoal.com
57. kampungsoal.com
58. kampungsoal.com

59. Setelah tamat kuliah di S1, Andi mendapat tawaran kerja bergaji Rp3.000.000,00 per bulan, tetapi Andi memilih melanjutkan S2 dengan biaya Rp24.000.000,00 per tahun. Biaya eksplisit Andi per tahun dengan memilih melanjutkan S2 adalah
    (A) Rp3.000.000,00
    (B) Rp24.000.000,00
    (C) Rp27.000.000.00
    (D) Rp36.000.000.00
    (E) Rp60.000.000.00

60. Seorang investor tertarik untuk mendirikan sebuah perusahaan. Investor tersebut lebih mengutamakan kebebasan dan fleksibilitas dalam operasi perusahaan. Jenis perusahaan yang akan Anda sarankan adalah
    (A) Koperasi
    (B) Perusahaan terbatas
    (C) Perseroan komanditer
    (D) Firma
    (E) Perusahaan perseorangan

61. Jika pada tahun 2020 tren mode yang melanda dunia adalah pemakaian batik pada acara-acara resmi kenegaraan menggantikan jas. Akibat perubahan ini dapat dipastikan bahwa kurva permintaan terhadap batik pada saat itu adalah
    (A) Bergeser ke sebelah kanan, akibat peningkatan pendapatan masyarakat
    (B) Tidak berubah, karena hanya terjadi pergerakan sepanjang kurva permintaan
    (C) Bergeser ke sebelah kanan, akibat perubahan selera masyarakat dan pihak protokoler kenegaraan di dunia
    (D) Bergeser ke sebelah kiri, akibat perubahan selera masyarakat dan pihak protokoler kenegaraan di dunia
    (E) Bergeser ke sebelah kiri, akibat peningkatan permintaan terhadap batik

62. Di negara X memiliki UU Antikorupsi yang memberikan denda maksimal Rp1 miliar dan UU tersebut disahkan pada tahun 2000. Di tahun 2013 terdapat koruptor yang dikenai hukuman denda maksimal Rp1 miliar. Jika inflasi yang terjadi antara tahun 2000-2014 adalah 10%, maka
    (A) Nilai riil hukuman denda di tahun 2014 adalah Rp1 miliar
    (B) Nilai nominal hukuman denda di tahun 2014 adalah kurang dari Rp1 miliar
    (C) Nilai riil hukuman denda di tahun 2014 adalah Rp500 juta
    (D) Nilai riil hukuman nominal denda di tahun 2014 lebih besar daripada nilai riil hukuman denda di tahun 2000
    (E) Besarnya nilai inflasi tidak berpengaruh terhadap nilai riil hukuman denda di tahun 2014

63. kampungsoal.com

<u>Petunjuk B</u> dipergunakan dalam menjawab soal nomor 64 sampai dengan nomor 69

64. kampungsoal.com
65. kampungsoal.com
66. kampungsoal.com
67. kampungsoal.com

68. Sesuai dengan mahzab Keynesian, peran pemerintah dalam perekonomian cenderung besar mengingat pasar cenderung gagal dalam mengalokasikan sumberdaya secara efisien.
    SEBAB
    Pasar persaingan sempurna tidak pernah terjadi di dunia nyata dan pasar yang ada di dunia nyata biasanya bersifat persaingan tidak sempurna.

69. Jika penerimaan total dari penjualan barang X adalah TR = 1567 – 10Q + Q^2 maka fungsi penerimaan marginal akan optimal pada Q = 5 unit.
    SEBAB
    Nilai penerimaan rata-rata penjualan barang X adalah AR = 1567/Q – 10 + Q.

kampungsoal.com

<u>Petunjuk C</u> dipergunakan dalam menjawab soal nomor 70 sampai dengan nomor 75

70. Beberapa hal berikut akan terjadi ketika di tahun 2015 negara-negara ASEAN memasuki Masyarakat Ekonomi ASEAN (MEA)
    (1) Terjadi mobilitas sumber daya manusia yang sempurna antar negara ASEAN
    (2) Terjadi mobilitas modal yang sempurna antar negara ASEAN
    (3) Investasi swasta antar negara ASEAN harus diperlakukan seperti investasi domestik
    (4) Perdagangan antar negara ASEAN masih dibatasi kebijakan tarif impor di masing-masing negara

71. Jika suatu negara mengalami tingkat inflasi yang tinggi (di atas 10%), maka pihak-pihak yang diuntungkan dari situasi tersebut adalah
    (1) Para peminjam kredit dari bank dan lembaga keuangan
    (2) Para penabung di bank dan lembaga keuangan
    (3) Para pedagang yang memiliki cadangan barang yang banyak
    (4) Rumah tangga yang cenderung menyimpan uang di rumah daripada di bank

72. kampungsoal.com
73. kampungsoal.com
74. kampungsoal.com
75. kampungsoal.com

kampungsoal.com



PEMBAHASAN SOSHUM 2015

SEJARAH

1. kampungsoal.com
2. kampungsoal.com
3. kampungsoal.com
4. kampungsoal.com
5. kampungsoal.com
6. kampungsoal.com
7. kampungsoal.com

8. **Jawab : D**
   Manifesto politik yang dikeluarkan oleh Perhimpunan Indonesia tahun 1925 antara lain berisi:
   a. Rakyat Indonesia sewajarnya diperintah oleh pemerintah yang dipilih mereka sendiri.
   b. Dalam memperjuangkan pemerintahan sendiri itu tidak diperlukan bantuan dari pihak manapun.
   c. Tanpa persatuan kokojh dari berbagai unsur rakyat tujuan perjuangan itu sulit dicapai.

9. kampungsoal.com
10. kampungsoal.com
11. kampungsoal.com
12. kampungsoal.com
13. kampungsoal.com
14. kampungsoal.com
15. kampungsoal.com

16. **Jawab : A**
    Teori masuknya hindhu – budha ke Indonesia:
    - Brahmana : dibawa oleh para brahmana yang sengaja diundang ke nusantara untuk mengajarkan agama
    - Ksatria : dibawa oleh para ksatria yang masuk ke Nusantara akibat terjadi kekacauan politik di India
    - Waisya : dibawa oleh para pedagang yang masuk ke Nusantara
    - Sudra : dibawa oleh orang berkasta sudra yang ingin mengganti kasta sudra nya di India dengan status baru ketika berada di Indonesia.

17. kampungsoal.com
18. kampungsoal.com
19. kampungsoal.com
20. kampungsoal.com
21. kampungsoal.com
22. kampungsoal.com
23. kampungsoal.com
24. kampungsoal.com

25. **Jawab : E**
    Karya Mas Marco Kartodikromo, yaitu:
    - Mata Gelap, yang terdiri dari tiga jilid yang diterbitkan di Bandung pada 1914
    - Student Hidjo diterbitkan tahun 1918
    - Matahariah diterbitkan tahun 1919[19]
    - Rasa Mardika diterbitkan tahun 1918 kemudian dicetak ulang pada tahun 1931 di Surakarta.
    - Sair Rempah-rempah terbit di Semarang pada 1918
    - Sair Sama Rasa Sama Rata terbit di surat kabar Pantjaran Warta tahun 1917[20]
    - Babad Tanah Djawi yang dimuat di jurnal Hidoep, tahun 1924-1925.[21]
    - Kromo Bergerak (1924; drama panggung)

kampungsoal.com

26. kampungsoal.com
27. kampungsoal.com

28. Jawab : E
- Pita = transportasi memanjang mempengaruhi perkembangan kota
- Terpecah = berasal dari bentuk kompak yang kemudian perkembangan selanjutnya terpisah-pisah dari kota induknya dan dikelilingi oleh pertanian serta dihubungkan dengan jalur transportasi.
- Berantai = seperti bentuk terpecah, namun hanya sepanjang jalur transportasi
- Terbelah = kota yang terbelah oleh perairan dan dihubungkan oleh jembatan

29. kampungsoal.com
30. kampungsoal.com
31. kampungsoal.com
32. kampungsoal.com
33. kampungsoal.com
34. kampungsoal.com
35. kampungsoal.com
36. kampungsoal.com
37. kampungsoal.com
38. kampungsoal.com
39. kampungsoal.com
40. kampungsoal.com
41. kampungsoal.com
42. kampungsoal.com
43. kampungsoal.com
44. kampungsoal.com

45. Jawab : D
Batu marmer mrupakan batu metamorf kontak yang terpengaruh oleh suhu yang tinggi. Batu marmer berasal dari batu sedimen yaitu batuan gamping.

46. kampungsoal.com
47. kampungsoal.com

48. Jawab : A
Agroindustri merupakan industri yang merubah hasil pertanian menjadi barang yang memiliki nilai guna yang lebih tinggi.

49. kampungsoal.com
50. kampungsoal.com

kampungsoal.com

51. kampungsoal.com
52. kampungsoal.com
53. kampungsoal.com
54. kampungsoal.com
55. kampungsoal.com
56. kampungsoal.com
57. kampungsoal.com
58. kampungsoal.com
59. kampungsoal.com
60. kampungsoal.com
61. kampungsoal.com

62. Jawab : D
Nilai Riil hukuman denda ditahun 2014 seharusnya:
$Denda \times Inflasi) + Denda\ tahun\ 2000$
$= (10\% \times 1\ M) + 1\ M$
$= 100\ juta + 1\ M = 1{,}1\ M$
Maka nilai riil 2014 sebesar 1,1 M dan lebih besar daripada nilai riil di tahun 2000.

63. kampungsoal.com
64. kampungsoal.com
65. kampungsoal.com
66. kampungsoal.com
67. kampungsoal.com
68. kampungsoal.com

69. Jawab : B
$TR = 1567 - 10Q + Q^2$
$MR = turunan\ pertama\ TR\ sama\ dengan\ nol$
$MR \rightarrow -10 + 2Q = 0$
$2Q = 10$
$Q = 5$
$AR = \frac{TR}{Q}$
$= \frac{1567 - 10Q + Q^2}{Q}$
$= \frac{1567}{Q} - 10 + Q$

70. kampungsoal.com

71. Jawab : A
Tingginya inflasi akan mengakibatkan tingginya tingkat suku bunga, maka yang diuntungkan adalah
1. Para peminjam kredit dari bank dan lembaga keuangan dengan syarat bunga flat atau tetap
2. Para penabung di Bank dan Lembaga Keuangan
3. Para pedagang yang memiliki cadangan barang yang banyak

72. kampungsoal.com
73. kampungsoal.com
74. kampungsoal.com
75. kampungsoal.com

kampungsoal.com

UJIAN MASUK UNIVERSITAS GADJAH MADA

2016

kampungsoal.com

NASKAH UJIAN

TES KEMAMPUAN SOSHUM

SEJARAH, GEOGRAFI, EKONOMI

391

TES KEMAMPUAN SOSHUM

TANGGAL UJIAN : 5 JUNI 2016
WAKTU : 90 menit
JUMLAH SOAL : 75

SEJARAH

Petunjuk A dipergunakan dalam menjawab soal nomor 1 sampai dengan nomor 10

1. Faktor-faktor berikut ini dianggap sebagai pemicu terjadinya krisis moneter dan ekonomi di Indonesia tahun 1997, **kecuali**
   (A) Krisis moneter regional yang dipicu jatuhnya nilai mata uang Baht Thailand
   (B) Lemahnya fundamental ekonomi Indonesia
   (C) Ketidakstabilan situasi sosial dan politik Indonesia
   (D) Merebaknya kapitalisme kroni yang dibangun atas dasar KKN
   (E) Perilaku spekulatif pelaku pasar uang dan pasar modal

2. ABRI memainkan peran penting pada masa Orde Baru melalui doktrin Dwi Fungsi, yaitu sebagai
   (A) Alat utama penjaga kedaulatan bangsa dan negara
   (B) Pembina masyarakat di dalam dan luar negeri
   (C) Stabilisator dan dinamisator masyarakat
   (D) Kekuatan pertahanan dan keamanan, sekaligus kekuatan sosial politik
   (E) Mitra lembaga eksekutif, yudikatif, dan legislatif

3. Berikut ini merupakan fakta yang salah mengenai aksi-aksi heroik di Surabaya setelah proklamasi kemerdekaan
   (A) Pemuda berhasil merebut senjata Jepang di gudang mesiu Don Bosco
   (B) Terjadi aksi penyobekan bendera Jepang di Hotel Yamato
   (C) Pemuda menyerbu markas Kempetei Jepang
   (D) Pemuda berhasil merebut pangkalan angkatan laut Jepang di Ujung
   (E) Semua jawaban benar

4. Program-program di bawah ini merupakan kontribusi organisasi perempuan dalam pergerakan nasional, **kecuali**
   (A) Pemberantasan buta aksara dengan mendirikan sekolah
   (B) Pengentasan kemiskinan melalui program keluarga berencana
   (C) Peningkatan peran perempuan melalui majalah Putri Mardika
   (D) Peningkatan kesejahteraan perempuan melalui bantuan sosial
   (E) Perbaikan mutu kesehatan ibu dan anak melalui pengobatan

5. kampungsoal.com
6. kampungsoal.com
7. kampungsoal.com
8. kampungsoal.com
9. kampungsoal.com
10. kampungsoal.com

Petunjuk B dipergunakan dalam menjawab soal nomor 11 sampai dengan nomor 18

11. Daud Beureueh menyatakan Aceh bergabung dalam Negara Islam Indonesia pimpinan Kartosuwiryo pada tanggal 21 September 1957
    SEBAB
    Daud Beureueh kecewa dengan kebijakan pemerintah pusat yang menurunkan status Aceh dari Daerah Istimewa menjadi Karesidenan di bawah Provinsi Sumatera Utara

12. Dalam sejarah peradaban Yunani Kuno, polis atau negara kota menempati posisi yang penting, karena setiap polis merefleksikan konsep kemerdekaan atau kebebasan yang sangat sentral bagi indentitas warga Yunani
    SEBAB
    Setiap polis memiliki organisasi politik yang maju karena pemerintah kota mengatur kehidupan publik melalui hukum yang disusun berdasarkan aspirasi warga kota

13. kampungsoal.com
14. kampungsoal.com
15. kampungsoal.com
16. kampungsoal.com
17. kampungsoal.com
18. kampungsoal.com

Petunjuk C dipergunakan dalam menjawab soal nomor 19 sampai dengan nomor 25

19. kampungsoal.com
20. kampungsoal.com

21. Konsep *cultuurstelsel* yang ditetapkan oleh pemerintah kolonial Belanda adalah sebagai berikut
    (1) Rakyat menyediakan sebagian tanahnya untuk *cultuurstelsel*, maksimal 1/5 dari luas keseluruhan tanah
    (2) Kegagalan panen yang bukan disebabkan oleh kesalahan rakyat petani, menjadi tanggungan pemerintah

kampungsoal.com

(3) Penduduk yang bukan petani, dikenai wajib kerja untuk pabrik ataupun kebun pemerintah, maksimal 65 hari dalam satu tahun
(4) Waktu dan pekerjaan untuk menanam dan merawat tanaman *cultuurstelsel* sama dengan waktu untuk mengurus sawah

22. Sejumlah perlawanan terhadap kolonialisme Belanda dapat dengan mudah menggerakkan dukungan rakyat kerena berbagai alasan, antara lain
(1) Ideologi perang di jalan Allah
(2) Kesengsaraan rakyat akibat penindasan penjajah
(3) Kepercayaan akan hadirnya ratu adil
(4) Rusaknya tatanan masyarakat akibat penjajahan

23. kampungsoal.com
24. kampungsoal.com
25. kampungsoal.com

GEOGRAFI

<u>Petunjuk A</u> dipergunakan dalam menjawab soal nomor 26 sampai dengan nomor 36

26. kampungsoal.com
27. kampungsoal.com
28. kampungsoal.com

29. Jumlah penduduk Kota Jogja sekitar 400.000 jiwa, Kota Solo 500.000 jiwa dan Kota Semarang 1.500.000 jiwa dengan jarak kota Jogja-Solo 60 Km dan jarak Kota Solo-Semarang 80 Km. Hitunglah interaksi antara kota Solo dan Jogja
(A) 55.555.555 Jiwa/Km
(B) 50.000.000 Jiwa/Km
(C) 55.000.000 Jiwa/Km
(D) 50.555.555 Jiwa/Km
(E) 55.555.000 Jiwa/Km

30. Perkembangan Kota Surabaya yang mengarah ke Kabupaten Sidoarjo merupakan proses
(A) *Leap frog*
(B) *Urban sprawl*
(C) *Transformation*
(D) *Ruralization*
(E) *Decentralization*

31. Jika jenis barang yang memiliki risiko cukup tinggi pada saat pengangkutan bahan mentah, maka sebaiknya industri tersebut ditempatkan di dekat
(A) Pengolahan limbah
(B) Sumber bahan baku
(C) Sumber energi
(D) Jalur transportasi
(E) Daerah pemasaran

32. Dalam peta topografi, relief digambarkan dengan menggunakan
(A) Warna
(B) Arsiran
(C) Garis kontur
(D) Garis putus-putus
(E) Garis lintang bujur

33. kampungsoal.com
34. kampungsoal.com
35. kampungsoal.com
36. kampungsoal.com

<u>Petunjuk C</u> dipergunakan dalam menjawab soal nomor 37 sampai dengan nomor 43

37. kampungsoal.com
38. kampungsoal.com
39. kampungsoal.com
40. kampungsoal.com
41. kampungsoal.com

42. Dalam pembuatan peta, hal-hal yang perlu dipertimbangkan adalah
(1) Model simbol
(2) Mempunyai tafsir ganda
(3) Sesuai dengan keadaan nyata
(4) Sederhana

43. Pengembangan lahan terbangun di wilayah hulu yang merupakan kawasan resapan air akan menimbulkan dampak
(1) Berkurangnya air tanah
(2) Aliran permukaan meningkat
(3) Erosi tanah
(4) Polusi oleh sampah

<u>Petunjuk B</u> dipergunakan dalam menjawab soal nomor 44 sampai dengan nomor 50

44. kampungsoal.com
45. kampungsoal.com

46. Air laut di Nusa Tenggara pada umumnya mempunyai kadar garam yang lebih rendah daripada wilayah lain di Indonesia
SEBAB
Tidak ada sungai besar yang bermuara di perairan Nusa Tenggara

47. Romania, Brazil, dan Thailand merupakan negara yang memiliki komposisi penduduk yang bertipe konstruktif
SEBAB
Ketiga negara tersebut merupakan negara berkembang dengan dominasi jumlah penduduk usia produktif

48. kampungsoal.com
49. kampungsoal.com
50. kampungsoal.com

kampungsoal.com

Petunjuk A dipergunakan dalam menjawab soal nomor 51 sampai dengan nomor 67

51. kampungsoal.com
52. kampungsoal.com
53. kampungsoal.com
54. kampungsoal.com
55. kampungsoal.com
56. kampungsoal.com
57. kampungsoal.com
58. kampungsoal.com
59. kampungsoal.com
60. kampungsoal.com
61. kampungsoal.com
62. kampungsoal.com

63. Hasan adalah seorang manajer manufaktur yang berpandangan amat positif. Ia menunjukkan emosi negatif yang rendah atau selalu optimis kepada dirinya dan orang-orang lain. Atas keterangan tersebut, Hasan mempunyai skor kepribadian yang rendah pada dimensi
    (A) *Negative affectivity*
    (B) *Agreeableness*
    (C) *Conscientiousness*
    (D) Positive affectivity
    (E) Extraversion

64. Manakah diantara berikut ini yang merupakan pos transitoris pasif adalah
    (A) Pendapatan diterima di muka
    (B) Beban dibayar di muka
    (C) Pendapatan yang masih harus diterima
    (D) Beban yang masih harus dibayar
    (E) Kas

65. Konsep kesatuan usaha dalam akuntansi adalah
    (A) Konsep tentang komersialisasi usaha
    (B) Konsep meningkatkan kepuasan pelanggan
    (C) Konsep untuk melakukan ekspansi perusahaan melalui merger dan akuisisi
    (D) Konsep mengenai pemisahan modal secara legal antara perusahaan dengan pemilik
    (E) Konsep untuk menjaga konsistensi metode akuntansi untuk transaksi dalam satu usaha

66. Berikut data keuangan PT Monalisa

Penjualan bersih	Rp 6.500.000
Pembelian bersih	Rp 4.400.000
Kas	Rp 800.000
Beban gaji	Rp 600.000
Beban sewa	Rp 300.000
Pendapatan komisi	Rp 150.000
Persediaan barang dagangan awal	Rp 900.000
Persediaan barang dagangan akhir	Rp 700.000

    Berdasarkan data di atas, laba usaha pokok adalah
    (A) Rp 1.000.000
    (B) Rp 1.150.000
    (C) Rp 1.350.000
    (D) Rp 1.400.000
    (E) Rp 1.150.000

67. kampungsoal.com

Petunjuk B dipergunakan dalam menjawab soal nomor 68 sampai dengan nomor 71

68. Apabila harga-harga di Amerika Serikat mengalami peningkatan, sementara tingkat harga-harga di Indonesia tidak mengalami perubahan, maka nilai tukar riil rupiah terhadap US dollar mengalami peningkatan (*appreciation*)
    SEBAB
    Tingkat inflasi di Indonesia selalu lebih rendah dibandingkan dengan tingkat inflasi di Amerika Serikat

69. Aliansi strategis diperlukan dalam pengembangan koperasi untuk lebih meningkatkan kemampuan bersaing dengan badan usaha lainnya
    SEBAB
    Dimungkinkan untuk membentuk koperasi yang beranggotakan koperasi

70. kampungsoal.com
71. kampungsoal.com

Petunjuk C dipergunakan dalam menjawab soal nomor 72 sampai dengan nomor 75

72. kampungsoal.com
73. kampungsoal.com

74. Menurut *expectancy theory*, motivasi tinggi akan terjadi ketika
    (1) Ekspektasi tinggi
    (2) Instrumen tinggi
    (3) Valensi tinggi
    (4) Kompetensi tinggi

75. Manakah di bawah ini yang merupakan pasangan kesalahan dan prosedur koreksi yang benar dalam akuntasi
    (1) Apabila kesalahan ditemukan sebelum jurnal diposting ke buku besar maka prosedur koreksinya adalah dengan mencoret akun
    (2) Apabila kesalah ditemukan sebelum jurnal diposting ke buku besar maka prosedur koreksinya adalah dengan membuat jurnal koleksi
    (3) Apabila kesalahan ditemukan setelah jurnal diposting ke buku besar maka prosedur koreksinya adalah dengan membuat jurnal koleksi
    (4) Apabila kesalahan ditemukan dalam penyusunan laporan posisi keuangan maka prosedur koreksinya adalah dengan mencoret akun

Kampungsoal.com



PEMBAHASAN SOSHUM 2016

SEJARAH

1. Jawab : A

Faktor pemicu terjadinya krisis 1997 di Indonesia adalah sebagai berikut:

a. Lemahnya fundamental ekonomi Indonesia, perekonomian Indonesia pada masa orde baru ditunjang oleh hutang luar negeri yang besar. Ditambah ketika itu Amerika Serikat menerapkan *tigger point* yang menyebabkan gejolak ekonomi.
b. Ketidakstabilan situasi sosial dan politik Indonesia. Hal ini disebabkan pemilu tahun 1997 dimenangkan kembali oleh Partai Golkar yang menunjuk Soeharto menjadi presiden kembali. Sehingga muncul ketidakpercayaan publik yang mengharapkan adanya pergantian rezim dan Soeharto telah terlalu lama berkuasa.
c. Merebaknya kapitalisme kroni yang dibangun atas dasar KKN. Kroni-kroni Soeharto dan seluruh perangkat pemerintahan masa Orde Baru sangat kental dengan KKN yang menyebabkan publik sudah tidak mempercayai rezim ini.
d. Adanya perilaku spekulatif pelaku pasar uang dan pasar modal serta utang yang berbentuk valas sehingga pada saat terjadi *chaos* banyak modal yang keluar dari Indonesia secara besar-besaran sehingga menyebabkan kurs rupiah sangat anjlok sepanjang sejarah. Dari Rp. 2.700,- turun hingga Rp. 17.000,- terhadap Dollar AS.
e. Krisis moneter regional tidak menyebabkan mata uang Bath Thailand tidak terdepresiai tapi krisis moneter di Indonesia tetap terjadi.

2. kampungsoal.com
3. kampungsoal.com
4. kampungsoal.com
5. kampungsoal.com
6. kampungsoal.com
7. kampungsoal.com
8. kampungsoal.com
9. kampungsoal.com
10. kampungsoal.com

11. Jawab : A

Aceh menyatakan diri lepas dari Indonesia dan bergabung dengan Negara Islam Indonesia pimpinan Kartosuwiryo dikarenakan Daud Beureuh merasa kecewa dengan kebijakan pemerintah pusat yang menurunkan status Aceh dari Daerah Istimewa menjadi karesidenan di bawah Provinsi Sumatra Utara. Penyelesaian untuk masalah ini adalah melalui Musyawarah Kerukunan Rakyat Aceh dan menjadikan Aceh memiliki otonomi Khusus (Daerah Istimewa).

12. kampungsoal.com
13. kampungsoal.com
14. kampungsoal.com
15. kampungsoal.com
16. kampungsoal.com
17. kampungsoal.com
18. kampungsoal.com
19. kampungsoal.com
20. kampungsoal.com

21. Jawab : E

Aturan tanam paksa atau *culturestelsel* yaitu:

- Rakyat menyediakan sebagian tanahnya untuk *culturstelsel* maksimal 1/5 dari luas keseluruhan tanah yang dimiliki
- Kegagalan panen yang bukan disebabkan oleh kesalahan rakyat petani menjadi tanggungan pemerintah.
- Penduduk yang bukan petani dikenai wajib kerja untuk pabrik ataupun kebun pemerintah maksimal 65 hari dalam satu tahun
- Waktu dan pekerjaan untuk menanm dan merawat tanaman *culturstelsel* sama dengan waktu untuk mengurus sawah

22. kampungsoal.com
23. kampungsoal.com
24. kampungsoal.com
25. kampungsoal.com

kampungsoal.com

26. kampungsoal.com
27. kampungsoal.com
28. kampungsoal.com

29. Jawab : A

$$Interaksi\ wilayah = \frac{Penduduk\ A \times Penduduk\ B}{(jarak\ antara\ kota\ A\ dan\ B)^2}$$

Interaksi kota Jogja dan Solo

$$= \frac{400.000 \times 500.000}{(60)^2} = 55.555.555\ \text{Jiwa/Km}$$

Seharusnya antara kota jogja dan kota solo, maka jawabannya adalah A.

30. kampungsoal.com
31. kampungsoal.com
32. kampungsoal.com
33. kampungsoal.com
34. kampungsoal.com
35. kampungsoal.com
36. kampungsoal.com
37. kampungsoal.com
38. kampungsoal.com
39. kampungsoal.com
40. kampungsoal.com
41. kampungsoal.com

42. Jawab : B

Dalam proses pembuatan peta perlu memperhatikan komponen peta dan syarat peta seperti sama bentuk sama perbandingan jarak, dan sama perbandingan luas.

43. kampungsoal.com
44. kampungsoal.com
45. kampungsoal.com

46. Jawab : A

Kadar garam dipengaruhi oleh penguapan air laut, air sungai yang masuk ke dalam laut, air hujan yang masuk ke laut, dan letak laut.

47. kampungsoal.com
48. kampungsoal.com
49. kampungsoal.com
50. kampungsoal.com

kampungsoal.com

51. kampungsoal.com
52. kampungsoal.com
53. kampungsoal.com
54. kampungsoal.com
55. kampungsoal.com
56. kampungsoal.com
57. kampungsoal.com
58. kampungsoal.com
59. kampungsoal.com
60. kampungsoal.com
61. kampungsoal.com
62. kampungsoal.com
63. kampungsoal.com
64. kampungsoal.com
65. kampungsoal.com

66. Jawab : A

Langkah 1 tentukan HPP.
HPP = persediaan barang dagang awal + pembelian bersih – persediaan barang dangan akhir
HPP : 900.000 + 4.400.000 – 700.000 = 4.600.000

Langkah 2 tentukan Laba Kotor
Laba Kotor = penjualan bersih – HPP
Laba Kotor : 6.500.000 – 4.600.000 = 1.900.000

Langkah 3 tentukan Laba Bersih
Laba Bersih = Laba kotor – total beban
Laba Bersih : 1.900.000 – 900.000 = 1.000.000

67. kampungsoal.com

68. Jawab : C

Jika di amerika terjadi peningkatan harga maka terjadi inflasi di amerika dimana nilai tukar dollar terhadap barang melemah sehingga akan mengakibatkan rupiah terapresiasi karena harga di indonesia tetap. BENAR.
Tingkat inflasi di indonesia lebih tinggi dari pada tingkat inflasi di Amerika. SALAH.

69. kampungsoal.com
70. kampungsoal.com
71. kampungsoal.com
72. kampungsoal.com
73. kampungsoal.com
74. kampungsoal.com

75. Jawab : B

Prosedur kesalahan dan koreksi yang dilakukan adalah

a. Apabila kesalahan ditemukan sebelum jurnal di posting ke buku besar maka prosedur koreksinya adalah dengan mencoret akun
b. Apabila kesalahan ditemukan setelah jurnal diposting ke buku besar maka prosedur koreksinya adalah dengan membuat jurnal koreksi.

kampungsoal.com

UJIAN MASUK UNIVERSITAS GADJAH MADA

2017

NASKAH UJIAN

TES KEMAMPUAN SOSHUM

SEJARAH, GEOGRAFI, EKONOMI

733

kampungsoal.com

TES KEMAMPUAN SOSHUM

TANGGAL UJIAN : 21 MEI 2017
WAKTU : 75 menit
JUMLAH SOAL : 75

SEJARAH

Petunjuk A dipergunakan dalam menjawab soal nomor 1 sampai dengan nomor 12

1. Sebagai bagian dari kebijakan politik ekonomi Berdikari, Presiden Sukarno mengeluarkan kebijakan yang dinamakan Program Benteng awal tahun 1950. Tujuan program itu adalah
   (A) Mendorong berkembangnya pengusaha pribumi
   (B) Memproduksi barang-barang murah untuk masyarakat luas
   (C) Mengatasi inflasi ekonomi dan nilai rupiah
   (D) Meningkatkan aktivitas perdagangan ekspor
   (E) Memperbaiki kerusakan infrastruktur ekonomi

2. Di bawah ini merupakan faktor-faktor yang menyebabkan meletusnya Revolusi Prancis pada tahun 1789, kecuali
   (A) Pajak sangat tinggi
   (B) Utang negara sangat banyak
   (C) Penghamburan uang negara oleh kerabat kerajaan
   (D) Penangkapan semena-mena terhadap musuh istana
   (E) Keterlibatan Inggris dalam memprovokasi rakyat Prancis

3. Teori yang dikemukakan oleh F.D.K Bosch yang menyatakan masuknya kebudayaan India ke Indonesia disebabkan adanya proses kolonisasi adalah
   (A) Brahmana
   (B) Ksatria
   (C) Waisya
   (D) Sudra
   (E) Paria

4. Kontribusi penting pendidikan dan pengajaran Islam dalam proses integrasi Nusantara adalah
   (A) Penggunaan sistem aksara arab sebagai *lingua franca*
   (B) Konversi besar-besaran sehigga mayoritas penduduk beragama Islam
   (C) Landasan ideologi Pancasila yang mengakui Ketuhanan yang Maha Esa
   (D) Pesantren diadopsi sebagai sistem pendidikan asli Indonesia
   (E) *Ukhwa Islamiyah* mengilhami semangat persatuan nasional

5. kampungsoal.com
6. kampungsoal.com
7. kampungsoal.com
8. kampungsoal.com
9. kampungsoal.com
10. kampungsoal.com
11. kampungsoal.com
12. kampungsoal.com

Petunjuk B dipergunakan dalam menjawab soal nomor 13 sampai dengan nomor 19

13. Kebijakan Presiden Abdurrahman Wahid didasarkan pada semangat pluralitas dan demokrasi yang diantaranya diwujudkan dengan mengembalikan hak-hak politik kelompok minoritas

    SEBAB

    Kebijakan Presiden Abdurrahman Wahid yang dinilai kontroversial adalah upaya untuk membuka hubungan dengan Israel dan pencabutan Tap MPRS No. XXV 1966

14. Pada masa pemerintahan Susilo Bambang Yudhoyono, kesepakatan penghentian permusuhan dengan GAM ditandatangani di Genewa

    SEBAB

    Geneva Agreement memberi kemerdekaan terbatas kepada Aceh sebagai negara bagian Indonesia

15. kampungsoal.com
16. kampungsoal.com
17. kampungsoal.com
18. kampungsoal.com
19. kampungsoal.com
20. kampungsoal.com

Petunjuk C dipergunakan dalam menjawab soal nomor 20 sampai dengan nomor 25

21. kampungsoal.com
22. kampungsoal.com
23. kampungsoal.com

24. Perlawanan rakyat Indonesia yang terjadi pada masa Pendudukan Jepang adalah
    (1) Teuku Abdul Jalil di Aceh
    (2) K. H. Zainal Mustafa di Singaparna
    (3) Pembela Tanah Air (PETA) di Blitar
    (4) Pemogokan Seinendan di Yogyakarta

25. Berikut ini adalah strategi pemerintah Indonesia dalam menghadapi Agresi Militer Belanda II tahun 1948
    (1) Para pemimpin negara tidak mengungsi
    (2) Komandan tentara melanjutkan gerilya
    (3) Pemberian mandat pembentukan PDRI
    (4) Sultan Hamengkubuwono IX menyerahkan diri

kampungsoal.com

<u>Petunjuk A</u> dipergunakan dalam menjawab soal nomor 26 sampai dengan nomor 34

26. kampungsoal.com
27. kampungsoal.com

28. Vegetasi hijau akan tampak dengan rona lebih terang (cerah) dibandingkan tanah kering, pada citra Landsat 8 OLI saluran (*brand*)

Saluran Spektra	Panjang Gelombang
Band 1	0.433 – 0.453 µm
Band 2	0.450 – 0.515 µm
Band 3	0.525 – 0.600 µm
Band 4	0.630 – 0.680 µm
Band 5	0.845 – 0.885 µm
Band 6	1.560 – 1.660 µm
Band 7	2.100 – 2.300 µm
Band 8	0.500 – 0.680 µm
Band 9	1.360 – 1.390 µm

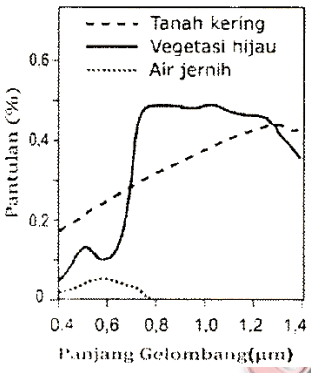

(A) *Band 1*
(B) *Band 2*
(C) *Band 3*
(D) *Band 4*
(E) *Band 5*

29. Model klasik dari teori lokasi industri menyatakan bahwa pertimbangan utama perusahaan dalam memilih lokasi industri adalah
(A) Struktur kelembagaan
(B) Biaya memproduksi barang
(C) Biaya bahan baku
(D) Biaya transportasi
(E) Kedekatan lokasi pasar

30. Strutur format data spasial yang ditunjukkan pada gambar di samping adalah
(A) Vektor
(B) Atribut
(C) Raster
(D) Titik
(E) Garis

31. Kerjasama yang diikuti oleh Indonesia dengan negara lain dalam kategori kerjasama regional adalah
(A) PBB
(B) IMF
(C) OKI
(D) ASEAN
(E) OPEC

32. kampungsoal.com
33. kampungsoal.com
34. kampungsoal.com

<u>Petunjuk B</u> dipergunakan dalam menjawab soal nomor 35 sampai dengan nomor 42

35. kampungsoal.com
36. kampungsoal.com
37. kampungsoal.com
38. kampungsoal.com
39. kampungsoal.com
40. kampungsoal.com

41. *Dependency ratio* menunjukkan beban yang harus ditanggung penduduk yang produktif untuk membiayai hidup penduduk yang tidak produktif
SEBAB
Dependency ratio adalah indikator yang sangat baik untuk melihat kondisi ekonomi suatu negara

42. Pola keruangan dari lokasi industri rumah tangga yang terdapat di daerah pemetaan adalah mengelompok (*clustered*)
SEBAB
Lokasi industri hanya terdistribusi di bagian tertentu dan jarak antar lokasi industri relatif berdekatan

<u>Petunjuk C</u> dipergunakan dalam menjawab soal nomor 43 sampai dengan nomor 50

43. Lokasi absolut suatu objek fenomena geografi dalam prakteknya dapat ditunjukkan berdasarkan
(1) Letak astronomisnya
(2) Alamatnya, seperti nama dan nomor jalan
(3) Hasil pembacaan koordinat GPS
(4) Tanda seperti patok atau tugu di lapangan

44. Kondisi iklim antara satu wilayah dengan wilayah lain sangatlah beragam, yang disebabkan oleh berbagai faktor, antara lain
(1) Bentuk pengguanaan lahan dan pola ruang
(2) Posisi relatif terhadap garis edar matahari atau letak lintang
(3) Pertumbuhan penduduk dan perkembangan wilayah
(4) Keberadaan lautan dan pola arah angin

45. kampungsoal.com
46. kampungsoal.com
47. kampungsoal.com
48. kampungsoal.com
49. kampungsoal.com
50. kampungsoal.com

kampungsoal.com

<u>Petunjuk A</u> dipergunakan dalam menjawab soal nomor 51 sampai dengan nomor 65

51. kampungsoal.com
52. kampungsoal.com
53. kampungsoal.com
54. kampungsoal.com
55. kampungsoal.com
56. kampungsoal.com
57. kampungsoal.com

58. Seorang produsen memilih untuk menggunakan uang yang dimilikinya untuk memperluas usahanya dibandingkan untuk investasi di bank Biaya yang terjadi karena keputusannya disebut
    (A) Biaya eksplisit
    (B) Biaya variabel
    (C) Biaya tetap
    (D) Biaya peluang (opportunity cost)
    (E) Biaya total

59. Jenis laporan keuangan yang mengandung informasi tentang jumlah pendapatan dan biaya-biaya operasional dan biaya non operasional perusahaan adalah
    (A) Neraca
    (B) Laporan rugi/laba
    (C) Laporan penyusutan
    (D) Laporan perubahan modal
    (E) Laporan arus kas

60. Indah memiliki restoran Korea yang mempekerjakan 25 orang. Dia hanya bertanggung jawab kepada manajemen restoran. Bisnisnya harus bersaing dengan restoran-restoran yang lebih besar yang menawarkan menu masakan yang sama. Restoran Indah dapat diklasifikasikan sebagai
    (A) Perusahaan multinasional
    (B) Konglomerat
    (C) Franchise
    (D) *Public sector holding*
    (E) Bisnis kecil

61. Sebuah fungsi produksi $Q = F(K, L)$ dimana *Q* adalah jumlah produksi dan merupakan fungsi dari *K* (kapital) dan *L* (tenaga kerja), dinyatakan dengan $Q = \sqrt{KL}$. Jika masing-masing input ditambah sebesar *z*, dimana *z* adalah persentase tertentu peningkatan input, maka produksi akan mengalami
    (A) *Constant return*
    (B) *Decerasing return*
    (C) *Increasing return*
    (D) *Diminishing marginal return*
    (E) *Return to scale*

62. kampungsoal.com
63. kampungsoal.com
64. kampungsoal.com
65. kampungsoal.com

<u>Petunjuk B</u> dipergunakan dalam menjawab soal nomor 66 sampai dengan nomor 70

66. kampungsoal.com
67. kampungsoal.com
68. kampungsoal.com

69. Jika output melebihi pengeluaran domestik, maka ekspor bersih (*net export*) positif
    SEBAB
    Kelebihan produksi dalam negeri dapat dijual ke luar negeri, sehingga ekspor dapat melebihi impor

70. Dalam perekonomian terbuka, jika terdapat kenaikan ekspor yang lebih tinggi dibandingkan kenaikan impor, maka pendapatan nasional akan mengalami penurunan
    SEBAB
    Kenaikan ekpor dapat menaikkan devisa sedangkan kenaikan impor dapat menurunkan devisa

<u>Petunjuk C</u> dipergunakan dalam menjawab soal nomor 71 sampai dengan nomor 75

71. Apabila terdapat kegagalan dalam mekanisme pasar yang diakibatkan oleh tindakan monopoli, maka pemerintah dapat berperan dalam memperbaikinya dengan cara
    (1) Menetapkan harga barang atau jasa
    (2) Menetapkan kuantitas barang atau jasa
    (3) Melarang merger
    (4) Membuat aturan tentang *antitrust law* (pelanggaran kegiatan yang bersifat monopoli)

72. Manakah akun di bawah ini yang memerlukan proses pembuatan jurnal penyesuaian di akhir periode
    (1) Beban yang ditangguhkan
    (2) Pendapatan yang ditangguhkan
    (3) Pendapatan akrualan
    (4) Biaya akrualan

73. kampungsoal.com
74. kampungsoal.com
75. kampungsoal.com

kampungsoal.com



PEMBAHASAN SOSHUM 2017

SEJARAH

1. kampungsoal.com

2. **Jawab : E**
Faktor yang menyebabkan terjadinya revolusi perancis sebagai berikut.
- Pajak sangat tinggi yang dibebankan oleh kerajaan pada rakyat
- Utang Negara yang sangat besar
- Penghamburan uang Negara oleh kerabat kerajaan di tengah perekonomian Negara yang sedang sulit
- Penangkapan semena-mena terhadap musuh istana sehingga banyak tawanan politik

3. kampungsoal.com
4. kampungsoal.com
5. kampungsoal.com
6. kampungsoal.com
7. kampungsoal.com
8. kampungsoal.com
9. kampungsoal.com
10. kampungsoal.com
11. kampungsoal.com
12. kampungsoal.com

13. **Jawab : B**
Kebijakan Presiden Abdurrahman Wahid didasarkan pada semangat pluralitas dan demokrasi yang diantaranya diwujudkan dengan mengembalikan hak-hak politik kelompok minoritas adalah BENAR. Hal ini dibuktikan dengan diakuinya kepercayaan masyarakat minoritas dalam hal ini adalah WNI keturunan Cina yaitu agama Kong Hu Chu.
Adapun kebijakan Presiden Abdurrahman Wahid yang dinilai kontroversial adalah upaya untuk membuka hubungan dengan Israel dan pencabutan Tap MPRS no. XXV 1966 adalah BENAR.
Kedua pernyataan di atas tidak memiliki hubungan keterkaitan.

14. kampungsoal.com
15. kampungsoal.com
16. kampungsoal.com
17. kampungsoal.com
18. kampungsoal.com
19. kampungsoal.com
20. kampungsoal.com
21. kampungsoal.com
22. kampungsoal.com
23. kampungsoal.com
24. kampungsoal.com

25. **Jawab : A**
Strategi pemerintah Indonesia dalam menghadapi Agresi Militer Belanda II tahun 1948 yaitu:
- Para pemimpin Negara tidak mengungsi karena posisi Yogyakarta sebagai ibukota RI pada waktu itu sudah terkepung
- Komandan tentara melanjutkan gerilya dalam hal ini dipimpin oleh Jenderal Besar Sudirman. Dan untuk TNI yang masih ada di komandoi oleh Letkol Soeharto
- Pemberian mandate pembentukan Pemerintahan Darurat Republik Indonesia (PDRI) di Bukittinggi kepada Syafruddin Prawiranegara dengan tujuan agar pemerintah tetap ada.
- Sultan Hamengkubuwono dan letkol Soeharto berusaha untuk melakukan serangan balasan terhadap Belanda yang disebut sebagai Serangan Umum 1 Maret 1949.

Kampungsoal.com

26. kampungsoal.com
27. kampungsoal.com

28. Jawab : E
Grafik menunjukkan bahwa vegetasi hijau mengalami pantulan yang besar ketika memasuki panjang gelombang band 5.
Satelit landsat 8 memiliki sensor Onboard Operational Land Imager (OLI) dan Thermal Infrared Sensor (TIRS) dengan jumlah kanal sebanyak 11 buah. Diantara kanal-kanal tersebut, 9 kanal (band 1-9) berada pada OLI dan 2 lainnya (band 10 dan 11) pada TIRS.
Landsat 8 memiliki beberapa keunggulan khususnya terkait spesifikasi band-band yang dimiliki maupun panjang rentang spektrum gelombang elektromagnetik yang ditangkap. Sebagaimana telah diketahui, warna objek pada citra tersusun atas 3 warna dasar, yaitu Red, Green dan Blue (RGB). Dengan makin banyaknya band sebagai penyusun RGB komposit, maka warna-warna obyek menjadi lebih bervariasi.

29. kampungsoal.com
30. kampungsoal.com
31. kampungsoal.com
32. kampungsoal.com
33. kampungsoal.com
34. kampungsoal.com
35. kampungsoal.com
36. kampungsoal.com
37. kampungsoal.com
38. kampungsoal.com
39. kampungsoal.com
40. kampungsoal.com

41. Jawab : C
Pernyataan pertama benar, namun indikator untuk melihat ekonomi suatu negara bukan hanya *dependency ratio.*
Selain itu masih ada bebepa lainnya, yaitu:
- Pendapatan nasional
- Pendapatan perkapita
- Tenaga kerja dan pengangguran
- Kesejahteraan masyarakat

42. kampungsoal.com

43. Jawab : B
Lokasi absolut adalah letak atau tempat yang dilihat dari garis lintang dan garis garis bujur (garis astronomis). Lokasi absolut keadaannya tetap dan tidak dapat berpindah letaknya karena berpedoman pada garis astronomis bumi. Pebedaan garis astronomis menyebabkan perbedaan iklim (garis lintang) dan perbedaan waktu (garis bujur).
Contoh Lokasi Absolut yaitu Indonesia terletak di antara 6 derajat LU - 11 derajat LS sampai 95 derajat BT - 141 derajat BT. Dari letak absolut (garis astronomis) tersebut dapat dijelaskan bahwa lokasi paling Utara negara Indonesia terletak di 6 derajat LU (Pulau Miangas, Sulawesi Utara), lokasi paling selatan terletak di 11 derajat LS (Pulau Rote, NTT), dst.

44. kampungsoal.com
45. kampungsoal.com
46. kampungsoal.com
47. kampungsoal.com
48. kampungsoal.com
49. kampungsoal.com
50. kampungsoal.com

kampungsoal.com

51. kampungsoal.com
52. kampungsoal.com
53. kampungsoal.com
54. kampungsoal.com
55. kampungsoal.com
56. kampungsoal.com
57. kampungsoal.com

58. Jawab : D
Opportunity Cost (Biaya Peluang) adalah biaya yang dikorbankan dari sesuatu yang tidak dipilih karena memilih pilihan lain.
Contoh lain:
Apabila sesorang menghadapi 2 pilihan pekerjaan yang akan dipilih, pekerjaan pertama menawarkan gaji 1 juta, sedangkan pekerjaan kedua menawarkan gaji 2 juta. Orang tersebut memilih pekerjaan kedua dan mengorbankan pekerjaan pertama, maka biaya yang dikorbankan adalah 1 juta atau sebesar gaji yang ditolak akibat memilih pilihan lain yaitu gaji sebesar 2 juta.

59. kampungsoal.com
60. kampungsoal.com
61. kampungsoal.com
62. kampungsoal.com
63. kampungsoal.com
64. kampungsoal.com
65. kampungsoal.com
66. kampungsoal.com
67. kampungsoal.com
68. kampungsoal.com

69. Jawab : B
Necara perdagangan positif adalah suatu keadaan dimana ekspor melebihi impor.
Pernyataan pertama menunjukkan bahwa output (produksi dalam negeri) melebihi pengeluaran domestik yang berarti jumlah output lebih besar daripada pengeluaran dalam negeri, yang berarti terdapat kelebihan output, jika pengeluaran domestik juga terdiri dari impor maka sisa output dapat diekspor keluar, kondisi ini menunjukkan net ekspor pada posisi positif.

Kelebihan produksi dalam negeri dalam diekspor sehingga akan menambah ekspor yang terjadi sebelum adanya sisa produksi dalam negeri. Hal ini dapat mempengaruhi posisi ekspor hingga menunjukkan bahwa ekspor lebih besar daripada impor.

70. kampungsoal.com

71. Jawab : E
Hal yang dilakukan pemerintah dalam mengatasi monopoli dalam suatu pasar adalah sebagai berikut.
- Menetapkan harga barang atau jasa melalui *shinning price* (penetapan harga tertinggi) dan *low price* (penetapan harga terendah)
- Adanya pelarangan merger untuk menghindari adanya kendali oleh satu perusahaan.
- Menetapkan kuantitas barang atau jasa melalui pembatasan kuota.
- Membuat aturan tentang *antitrust law* atau pelarangan kegiatan yang bersifat monopoli.

72. kampungsoal.com
73. kampungsoal.com
74. kampungsoal.com
75. kampungsoal.com

kampungsoal.com

UJIAN MASUK UNIVERSITAS GADJAH MADA

2018

NASKAH UJIAN

TES KEMAMPUAN SOSHUM

SEJARAH, GEOGRAFI, EKONOMI

596

kampungsoal.com

TES KEMAMPUAN SOSHUM

TANGGAL UJIAN : 8 JULI 2018
WAKTU : 75 menit
JUMLAH SOAL : 75

<u>Petunjuk A</u> dipergunakan dalam menjawab soal nomor 1 sampai dengan nomor 15

1. Pola pembukaan lahan pertanian pada manusia purba yang sudah bermukim dan bercocok tanam adalah ...
   (A) mengeringkan air tanah dari rawa-rawa
   (B) menebang pohon dan membakar semak
   (C) saling memperebutkan lahan yang bagus
   (D) menggemburkan tanah pada lahan yang masih keras
   (E) membuat parit-parit pengairan pada lahan yang hendak digarap

2. Tujuan Suwardi Suryaningrat menulis brosur berjudul *Als ik een Nederlander was* pada tahun 1913, adalah …
   (A) protes penjajahan Belanda di Indonesia
   (B) menuntut Belanda memberikan kemerdekaan kepada Indonesia
   (C) menuntut dihapuskannya pajak yang sangat menyengsarakan rakyat
   (D) protes pemungutan dana dan pajak untuk pembangunan rumah-rumah pejabat Belanda
   (E) protes pemungutan dana untuk ulang tahun ke 100 bebasnya negeri Belanda dari jajahan Prancis

3. Selain menjadi anggota ASEAN, Indonesia juga menjadi salah satu negara yang ikut mendirikan Organisasi Kerjasama Islam (OKI), yang mewadahi kerjasama negara-negara Islam di dunia dengan alasan Indonesia …
   (A) merupakan negara yang berdasarkan Islam
   (B) sangat dipengaruhi oleh negara-negara Arab
   (C) memiliki ikatan historis panjang dengan negara-negara Islam di kawasan Timur Tengah
   (D) ingin memperoleh keistimewaan dalam haji/umrah
   (E) membutuhkan bantuan keuangan negara-negara Arab

4. Fakta bahwa kebanyakan muslim di Indonesia dewasa ini menganut Mazhab Fiqih Syafi'i menjadi dasar bagi sebagian ahli untuk berpendapat bawa Islam di Indonesia adalah berasal dari kawasan ...
   (A) Persia
   (B) Koromandel dan Malabar
   (C) Jazirah Arab
   (D) Bengal
   (E) semuanya benar

5. kampungsoal.com
6. kampungsoal.com
7. kampungsoal.com
8. kampungsoal.com
9. kampungsoal.com
10. kampungsoal.com
11. kampungsoal.com
12. kampungsoal.com
13. kampungsoal.com
14. kampungsoal.com
15. kampungsoal.com

Petunjuk B dipergunakan dalam menjawab soal nomor 16 sampai dengan nomor 20.

16. kampungsoal.com
17. kampungsoal.com

18. Faktor utama runtuhnya pemerintah Orde Baru adalah krisis moneter yang berkepanjangan
    SEBAB
    Hutang Indonesia menjadi membengkak sehingga negara Indonesia dinyatakan pailit atau bangkrut

19. Pada pertengahan abad ke-15, Lisabon berkembang menjadi pasar rempah-rempah di Eropa menggantikan Konstantinopel
    SEBAB
    Portugal yang terletak di semenanjung Liberia memiliki temperatur yang lebih hangat bila dibanding dengan daerah lain di Eropa barat oleh karenanya cocok untuk budidaya tanaman rempah

20. kampungsoal.com

Petunjuk C dipergunakan dalam menjawab soal nomor 21 sampai dengan nomor 25.

21. kampungsoal.com
22. kampungsoal.com
23. Pasca Sistem Tanam Paksa, di Hindia Belanda diberlakukan Sistem Ekonomi Liberal berupa
    (1) kesempatan seluas-luasnya kepada pihak swasta untuk berusaha
    (2) pemberlakukan Undang-Undang Agraria
    (3) Belanda tanah Hindia dan penduduk Belanda dimiliki oleh pemerinta
    (4) munculnya imperialisme dan kapitalisme modern

24. Saat memerintah bersama Presiden Susilo Bambang Yudhoyono, Jusuf Kalla berhasil menyelesaikan secara damai konflik bersenjata, yaitu ...
    (1) konflik Ambon
    (2) konfiik Poso
    (3) konflik otnis Dayak-Madura
    (4) perlawanan Gerakan Aceh Merdeka

25. kampungsoal.com

kampungsoal.com

<u>Petunjuk A</u> dipergunakan dalam menjawab soal nomor 26 sampai dengan nomor 34

26. kampungsoal.com
27. kampungsoal.com
28. kampungsoal.com
29. kampungsoal.com
30. kampungsoal.com

31. Indikator pertumbuhan ekonomi inklusif yang banyak terdapat di negara-negara maju, antara lain adalah
    (A) angka pertumbuhan ekonomi, akses infrastruktur dasar, akses fasilitas kesehatan
    (B) tingkat kesetaraan gender, jaring pengaman sosial, tingkat pendapatan masyarakat
    (C) akses fasilitas pendidikan, tingkat pendapatan masyarakat, kesempatan kerja
    (D) tingkat kesempatan kerja, akses infrastruktur dasar, tingkat pendapatan masyarakat
    (E) tata kelola kelembagaan, akses infrastruktur dasar, akses terhadap fasilitas pendidikan

32. Pola aliran sungai yang merupakan ciri bentang lahan asal proses struktural lipatan adalah
    (A) *trellis*
    (B) *rectangular*
    (C) *dendritic*
    (D) *parallel*
    (E) *contorted*

33. Dataran aluvial sangat potensial untuk kawasan pengembangan pertanian dan permukiman, karena didukung oleh faktor-faktor . . .
    (A) daya topang tanahnya rendah dan ada aquifer yang potensial
    (B) adanya aquifer yang potensial dan topografi bervariasi
    (C) daya topang tinggi, dan tanahnya subur
    (D) topografi datar dan ketersediaan air
    (E) ketersediaan air dan tanahnya subur

34. Pernyataan yang benar mengenai simbol peta yang ditunjukkan pada gambar berikut adalah ...

    (A) simbol pada gambar A adalah simbol piktorial
    (B) simbol pada gambar B adalah simbol piktorial
    (C) simbol pada gambar A dan B adalah simbol abstrak
    (D) simbol pada gambar A dan B adalah simbol piktorial
    (E) simbol pada gambar A dan B adalah simbol kuantitatif

Petunjuk B dipergunakan dalam menjawab soal nomor 35 sampai dengan nomor 43.

35. Penebangan hutan yang tidak terkontrol memicu terjadinya banjir bandang dan erosi dipercepat.
    SEBAB
    Hutan adalah ekosistem alami yang dapat menjaga tata air di kawasan perbukitan atau pegunungan.

36. Fenomena *rip current* seperti yang seringkali terjadi di Pantai Parangtritis seringkali membawa korban kematian.
    SEBAB
    Rip current merupakan kumpulan arus balik (*back swash*) yang bergerak ke bagian dasar pantai yang cekung dengan kecepatan sangat tinggi dan energi yang sangat kuat

37. kampungsoal.com
38. kampungsoal.com
39. kampungsoal.com
40. kampungsoal.com
41. kampungsoal.com
42. kampungsoal.com
43. kampungsoal.com

Petunjuk C dipergunakan dalam menjawab soal nomor 44 sampai dengan nomor 50.

44. kampungsoal.com
45. kampungsoal.com
46. kampungsoal.com
47. kampungsoal.com
48. kampungsoal.com

49. Lembaga pemerintah Indonesia berikut yang termasuk pengguna yang intensif memanfaatkan data penginderaan jauh dalam menjalankan tugasnya, antara lain adalah ...
    (1) Badan Informasi Geospasial (BIG)
    (2) Badan Meteorologi, Klimatologi, dan Geofisika (BMKG)
    (3) Badan Nasional Penanggulangan Bencana (BNPB)
    (4) Lembaga Penerbangan dan Antariksa nasional (LAPAN)

50. Berikut merupakan kegiatan yang dilakukan pada fase mitigasi ancaman bencana gempa bumi di Kota Padang ...
    (1) pemetaan kawasan rawan
    (2) pengiriman bantuan logistik
    (3) arahan penggunaan lahan
    (4) penilaian kerusakan bencana

kampungsoal.com

Petunjuk A dipergunakan dalam menjawab soal nomor 51 sampai dengan nomor 63

51. PT X menerbitkan 300.000 lembar saham biasa dengan nilai nominal Rp 3.000/lembar dengan harga pasar Rp 7.000/lembar. Selama tahun pertama operasinya, PT X mencatat laba bersih Rp 90.000.000 dan mengumumkan dividen sebesar Rp 20.000.000. Berdasarkan informasi tersebut, berapakah saldo laba ditahan pada akhir tahun pertama?
    (A) Rp 90.000.000
    (B) Rp 80.000.000
    (C) Rp 70.000.000
    (D) Rp 60.000.000
    (E) Rp 50.000.000

52. Manajer di dalam organisasi yang memberikan perhatian khusus terhadap lingkungan eksternal, mencari permasalahan-permasalahan dan kesempatan-kesempatan, serta menemukan bagaimana cara untuk menghadapinya adalah
    (A) Manajer tingkat atas
    (B) Manajer tingkat menengah
    (C) Manajer tingkat bawah
    (D) Manajer tingkat pertama
    (E) Manajer staf

53. Saldo pada neraca percobaan untuk akun perlengkapan kantor pada UD RIG adalah sebesar Rp 35.000.000. Pada akhir perioda akuntansi, setelah dihitung, sisa perlengkapan kantor dinilai sebesar Rp 8.000.000. Bagaimanakah jurnal penyesuaian yang dibuat oleh UD RIG pada tanggal tersebut?
    (A) Debet perlengkapan kantor dan kredit biaya perlengkapan kantor sebesar Rp 27.000.000
    (B) Debet biaya perlengkapan kantor dan kredit perlengkapan kantor sebesar Rp 27.000.000
    (C) Debet perlengkapan kantor dan kredit biaya perlengkapan kantor sebesar Rp 8.000.000
    (D) Debet biaya perlengkapan kantor dan kredit perlengkapan kantor sebesar Rp 8.000.000
    (E) Tidak perlu dibuat jurnal penyesuaian

54. Jika PDB mengalami peningkatan dan tingkat pengangguran mengalami penurunan, apakah langkah yang otoritas moneter dan fiskal bisa ambil untuk mediasi situasi ekonomi tersebut?
    (A) Bank Indonesia meningkatkan suku bunga diskonto, Kementerian Keuangan menurunkan Pajak
    (B) Bank Indonesia menurunkan suku bunga 7-*days reverse repo rate*, Kementerian Keuangan meningkatkan pajak
    (C) Bank Indonesia menurunkan suku bunga 7-*days reverse repo rate*, Kementerian Keuangan meningkatkan pengeluaran pemerintah
    (D) Bank Indonesia menurunkan suku bunga diskonto, Kementerian Keuangan menurunkan pengeluaran pemerintah
    (E) (E) Bank Indonesia meningkatkan suku bunga 7-*days reverse repo rate*, Kementerian Keuangan menurunkan pengeluaran pemerintah

55. kampungsoal.com
56. kampungsoal.com
57. kampungsoal.com
58. kampungsoal.com
59. kampungsoal.com
60. kampungsoal.com
61. kampungsoal.com
62. kampungsoal.com
63. kampungsoal.com

Petunjuk B dipergunakan dalam menjawab soal nomor 64 sampai dengan nomor 69.

64. kampungsoal.com
65. kampungsoal.com

66. Model-model makro ekonomi harus konsisten dengan dasar-dasar mikro.
    SEBAB
    Peristiwa-peristiwa ekonomi makro muncul dari interaksi-interaksi mikro.

67. Pemilik bisnis memiliki tanggung jawab besar untuk menyediakan dana untuk operasi bisnis yang dimilikinya.
    SEBAB
    Tanggung jawab utama pemilik bisnis adalah untuk menyediakan sumber daya keuangan bagi bisnisnya.

68. kampungsoal.com
69. kampungsoal.com

Petunjuk C dipergunakan dalam menjawab soal nomor 70 sampai dengan nomor 75.

70. kampungsoal.com

71. Berikut adalah akun-akun yang terlibat dalam jurnal penyesuaian atas pengakuan biaya gaji yang akan dibayarkan pada perioda akuntansi berikutnya adalah:
    (1) Kas (Kredit)
    (2) Biaya gaji (Kredit)
    (3) Laba ditahan (Debet)
    (4) Utang gaji (Kredit)

72. Jika perekonomian sedang dalam resesi, Bank Indonesia dapat melakukan hal sebagai berikut:
    (1) Menurunkan suku bunga diskonto
    (2) Menurunkan pajak pendapatan bunga bank
    (3) Menurunkan suku bunga 7-days reverse repo rate
    (4) Menjual surat berharga dari pasar

73. kampungsoal.com
74. kampungsoal.com
75. kampungsoal.com

kampungsoal.com

SEJARAH

1. kampungsoal.com

2. **Jawab : E**
   Latar belakang Suwardi Suryaningrat menulis brosur berjudul *Als ik een Nederlander was* pada tahun 1913 adalah untuk memprotes pemungutan dana untuk ulang tahun ke-100 bebasnya negeri Belanda dari jajahan Prancis.

3. kampungsoal.com
4. kampungsoal.com
5. kampungsoal.com
6. kampungsoal.com
7. kampungsoal.com
8. kampungsoal.com
9. kampungsoal.com
10. kampungsoal.com
11. kampungsoal.com
12. kampungsoal.com
13. kampungsoal.com
14. kampungsoal.com
15. kampungsoal.com
16. kampungsoal.com
17. kampungsoal.com
18. kampungsoal.com
19. **Jawab : C**
    Setelah Konstantinopel runtuh dan Portugis berhasil menemukan sumber rempah-rempah, maka kota Lisbon berkembang menjadi pasar rempah-rempah di eropa. Lisabon hanya sebagai pasar rempah-rempah dan bukan sebagai sumber penanaman pohon rempah-rempah.

20. kampungsoal.com
21. kampungsoal.com
22. kampungsoal.com

23. **Jawab : E**
    Diberlakukannya sistem ekonomi liberal pasca tanam paksa di Hindia Belanda berupa kesempatan seluas-luasnya kepada pihak swasta untuk berusaha, pemberlakuan Undang-undang Agraria, tanah penduduk dan hindia belanda dimiliki oleh pemerintah, dan munculnya imperialisme dan kapitalisme modern.

24. kampungsoal.com
25. kampungsoal.com

kampungsoal.com

26. kampungsoal.com
27. kampungsoal.com
28. kampungsoal.com
29. kampungsoal.com
30. kampungsoal.com
31. kampungsoal.com

32. **Jawab : C**
Pola pengaliran dapat dibedakan menjadi beberapa macam, antara lain:
    a. Dendritik, Berbentuk seperti cabang batang pohon. Berada di daerah datar dengan struktur batuan homogen.
    b. Radial Sentrifugal, Pola aliran radial adalah pola aliran sungai yang arah alirannya menyebar secara radial dari suatu titik ketinggian tertentu, seperti puncak gunung api
    c. Rectangular, Pola aliran rectangular adalah pola aliran sungai yang dikendalikan oleh struktur geologi, seperti struktur kekar (rekahan) dan sesar (patahan). Sungai rectangular dicirikan oleh saluran-saluran air yang mengikuti pola dari struktur kekar dan patahan.
    d. Trelllis, Aliran sungai yang anak sungainya hampir sejajar dengan sungai induknya, biasanya berada di wilayah patahan.
    e. Sentripetal, Aliran yang berlawanan dengan pola radial, di mana aliran sungainya mengalir ke satu tempat yang berupa cekungan (depresi).
    f. Annular, Pola aliran annular adalah pola aliran sungai yang arah alirannya menyebar secara radial dari suatu titik ketinggian tertentu dan ke arah hilir aliran kembali bersatu.
    g. Pararel, Sistem pengaliran paralel adalah suatu sistem aliran yang terbentuk oleh lereng yang curam/terjal.
    h. Pinnate, Pola Pinnate adalah aliran sungai yang mana muara anak sungai membentuk sudut lancip dengan sungai induk. Sungai ini biasanya terdapat pada bukit yang lerengnya terjal.

33. kampungsoal.com
34. kampungsoal.com

35. **Jawab : C**
Dampak Penebangan Hutan Secara Liar adalah sebagai berikut :
    a. Hilangnya kesuburan tanah
    b. Turunnya sumber daya air
    c. Punahnya keaneka ragaman hayati
    d. Mengakibatkan banjir
    Dampak nyata akibat hutan gundul adalah datangnya banjir, hutan gundul merupakan penyebab banjir yang sangat besar perannya. Akar pohon atau akar tumbuhan bisa menyerap air hujan yang meluap sehingga saat datang banjir pun air banjir itu bisa terserap oleh akar dengan volume yang banyak.
    e. Global Warming

Alasan Salah : Hutan tidak semuanya alami dan juga tidak hanya menjaga kadar air di perbukitan dan di pegunungan, namun juga di dataran rendah. Hutan memiliki fungsi hidrologis, yaitu berperan sebagai penyimpan air kemudian mengatur peredarannya dalam bentuk mata air.

36. kampungsoal.com
37. kampungsoal.com
38. kampungsoal.com
39. kampungsoal.com
40. kampungsoal.com
41. kampungsoal.com
42. kampungsoal.com
43. kampungsoal.com
44. kampungsoal.com
45. kampungsoal.com
46. kampungsoal.com
47. kampungsoal.com
48. kampungsoal.com

49. **Jawab : E**
Lembaga pemerintah yang memanfaatkan data penginderaan jauh antara lain adalah:
    a. LAPAN (Lembaga Penerbangan dan Antariksa Nasional), memiliki tugas pemerintahan di bidang penelitian dan pengembangan kedirgantaraan
    b. BIG (Badan Informasi Geospasial), bertugas untuk memberikan informasi geospasial dasar yang meliputi pengumpulan data, pengolahan data, penyimpanan hingga penggunaan informasi data geospasial.
    c. BAPPENAS (Badan Perencanaan Pembangunan Nasional), berfungsi sebagai pengakaji, perumus, dan pengoordinasian pembangunan nasional.
    d. Badan Geologi, bertugas melaksanakan penelitian dan pelayanan di bidang geologi; penyusunan kebijakan teknis geologi; penyusunan rencana dan program penelitian; pemantauan; evaluasi
    e. BMKG (Badan Meteorologi Klimatologi dan Geofisika), menginformasikan kondisi cuaca, menginformasikan kejadian gempa bumi, dan memberikan informasi potensi tsunami yang kemungkinan akan terjadi.

50. kampungsoal.com

KAMPUNGSOAL.COM

51. kampungsoal.com

52. **Jawab : A**
    Dalam tinggkatan manajemen, ada 3 pembagian tingkatan, yaitu:
    - Tingkat atas *(Top Management).* Level ini merupakan tingkat dimana kemampuan konsep atau *conceptual skill* sangat berperan, yang biasanya ditempati oleh Direksi ataupun CEO.
    - Tingkat menengah *(Middle management).* Level ini merupakan tingkat dimana manejer atau general manager berada dengan tugas pokok menyampaikan tujuan dari Top Management ke tingkatan di bawahnya.
    - Tingkat Bawah *(Lower Management).* Level ini merupakan bagian yang berkaitan langsung dengan teknis pekerjaan yang berada di lapangan

53. kampungsoal.com
54. kampungsoal.com
55. kampungsoal.com
56. kampungsoal.com
57. kampungsoal.com
58. kampungsoal.com
59. kampungsoal.com
60. kampungsoal.com
61. kampungsoal.com
62. kampungsoal.com
63. kampungsoal.com
64. kampungsoal.com
65. kampungsoal.com
66. kampungsoal.com

67. **Jawab : A**
    Tanggung jawab pemilik bisnis:
    a. Tanggung Jawab Pengusaha Terhadap Konsumen
    b. Tanggung Jawab Terhadap Tim
    c. Tanggung Jawab Terhadap Lingkungan
    d. Tanggung Jawab Terhadap Investor
    Bagian ini merupakan akibat dari bentuk imbal balik dari kewajiban pemilik bisnis untuk menyediakan kebutuhan keuangan perusahaan agar dapat beroperasi. Adapun sumber keuangan perusahaan besar adalah dari investor.
    Kedua pernyataan benar dan saling berhubungan.

68. kampungsoal.com
69. kampungsoal.com
70. kampungsoal.com
71. kampungsoal.com

72. **Jawab : A**
    Jika perekonomian dalam kondisi resesi maka Bank Indonesia selaku Bank Sentral akan menerapkan kebijakan Moneter yang Ekspansif untuk menstimulus perekonomian, yakni dengan cara:
    - Menurunkan suku bunga diskonto
    - Menurunkan pajak pendapatan bunga bank
    - Menurunkan suku bunga *7-days reverse repo rate*
    - Dan membeli surat berharga dari pasar

73. kampungsoal.com
74. kampungsoal.com
75. kampungsoal.com

Kampungsoal.com

UJIAN MASUK UNIVERSITAS GADJAH MADA

2019

NASKAH UJIAN

TES KEMAMPUAN SOSHUM

SEJARAH, GEOGRAFI, EKONOMI, SOSIOLOGI

944

kampungsoal.com

TANGGAL UJIAN : 14 JULI 2019
WAKTU : 90 menit
JUMLAH SOAL : 80

Petunjuk A dipergunakan dalam menjawab soal nomor 1 sampai dengan nomor 12

1. Alasan Presiden Sukarno membubarkan Masyumi dan PSI (Partai Sosialis Indonesia) pada tahun 1960, karena keduanya…
   (A) bagian partai-partai yang disederhanakan.
   (B) banyak anggotanya terlibat korupsi.
   (C) menentang Presiden Sukarno secara terbuka.
   (D) terlibat dalam pemberontakan PRRI-Permesta.
   (E) tidak mendukung konfrontasi dengan Malaysia.

2. Pengakuan atas Hak Azasi Manusia (HAM) dan *Self Determination* yang menguat seusai Perang Dunia II dianggap sangat berpengaruh terhadap transformasi politik negara-negara koloni di Asia dan Afrika, karena…
   (A) menyatakan bahwa kemerdekaan adalah hak segala bangsa.
   (B) mendorong lahirnya organisasi pergerakan nasional.
   (C) mengajarkan bahwa perang adalah hal yang sia-sia.
   (D) menyadarkan bangsa Eropa untuk tidak menjajah.
   (E) menumbuhkan semangat cinta tanah air.

3. *Homo Sapiens* disebut juga sebagai manusia purba yang pintar atau cerdik, karena…
   (A) sudah bisa membaca dan menghitung.
   (B) membuat peralatan hidup yang maju.
   (C) periode kehidupan yang lebih panjang.
   (D) pemimpin jenis manusia purba lainnya.
   (E) mengenal tempat tinggal & bercocok tanam.

4. Spanyol dan Portugis berebut wilayah penghasil rempah-rempah di Maluku karena…
   (A) pedagang Spanyol mendapatkan perlawanan dari kerajaan Tidore.
   (B) pedagang Portugis mendapatkan perlawanan dari kerajaan Ternate.
   (C) pedagang Belanda berusaha mengambil alih wilayah perdagangan Spanyol dan Portugis.
   (D) kerajaan Ternate dan Tidore bersama-sama mengusir pedagang Spanyol dan Portugis.
   (E) kerajaan Ternate dan Tidore saling bermusuhan dan berperang mempertahankan wilayah.

5. kampungsoal.com
6. kampungsoal.com
7. kampungsoal.com
8. kampungsoal.com
9. kampungsoal.com
10. kampungsoal.com
11. kampungsoal.com
12. kampungsoal.com

Petunjuk B dipergunakan dalam menjawab soal nomor 13 sampai dengan nomor 16.

13. Perbedaan teori tentang masuknya Islam ke Indonesia menunjukkan bahwa Islamisasi merupakan suatu proses yang kompleks dan berlangsung lama.

    SEBAB

    Selain teori Asia Barat, Gujarat, dan India terdapat pula pandangan yang menyatakan bahwa masuknya Islam ke Indonesia berasal dari Tiongkok.

14. Berakhirnya Perang Dingin ditandai dengan diruntuhkannya tembok Berlin yang memisahkan Jerman Barat dan Jerman Timur tahun 1990. Dengan runtuhnya tembok Berlin maka terjadilah reunifikasi yang menyatukan dua Jerman menjadi satu negara.

    SEBAB

    Reunifikasi Jerman di tahun 1991 yang menandai berakhirnya konflik Perang Dingin di Eropa didorong oleh gelombang reunifikasi ideologis yang sama terjadi pada awalnya di Asia, yaitu bersatunya Vietnam Selatan dengan Vietnam Utara, serta Yaman Selatan bersatu dengan Yaman Utara.
15. kampungsoal.com
16. kampungsoal.com

Petunjuk C dipergunakan dalam menjawab soal nomor 17 sampai dengan nomor 20.

17. kampungsoal.com
18. kampungsoal.com
19. Pengaruh Revolusi Prancis akhirnya sampai di Jawa pada awal abad ke-19, ketika Herman Willem Daendels ditugaskan oleh Louis Bonaparte, untuk mempertahankan Jawa dari invasi Inggris. Di Jawa, Daendels mengeluarkan kebijakan revolusioner, diantaranya...
    (1) membangun Jalan Raya Pos dari Anyer hingga Penarukan.
    (2) membangun hak-hak istimewa feodalistik kalangan priyayi Jawa.
    (3) memobilisasi tenaga kerja rakyat untuk kepentingan pemerintah.
    (4) merasionalisasi posisi priyayi dalam sistem birokrasi kolonial.

20. Pemerintah Orde Baru dianggap melakukan berbagai pelanggaran hak asasi manusia terutama dalam peristiwa-peristiwa berikut ini, yaitu...
    (1) Penembakan misterius (Petrus) tahun 1981-1985.
    (2) Peristiwa Talangsari Lampung tahun 1984-1987.
    (3) Peristiwa Santa Cruz, Dili tahun 1991.
    (4) Operasi Militer Aceh tahun 1989-1998.

kampungsoal.com

<u>Petunjuk A</u> dipergunakan dalam menjawab soal nomor 21 sampai dengan nomor 30

21. kampungsoal.com
22. kampungsoal.com
23. kampungsoal.com
24. kampungsoal.com
25. kampungsoal.com
26. kampungsoal.com

27. Tsunami merupakan salah satu kejadian ekstrim yang dapat menimbulkan bencana, pemicu terjadinya tsunami adalah...
    (A) gempa bumi
    (B) longsor di dasar laut
    (C) erupsi gunung api
    (D) tumbukan meteor
    (E) semua jawaban benar

28. Penataan ruang kawasan perkotaan dan kawasan perdesaan merupakan contoh penataan ruang berdasarkan...
    (A) sistem wilayah
    (B) nilai strategis
    (C) hirarki administrasi
    (D) kegiatan kawasan
    (E) fungsi utama

29. Proses perumusan kembali batas-batas yuridis administratif suatu kota dalam rangka untuk mengakomodir penduduk maupun fungsi-fungsi kekotaan di masa yang akan datang disebut...
    (A) urban annexation
    (B) urban reclassification
    (C) urban sprawl
    (D) urbanization
    (E) urban transformation

30. Perhatikan hal-hal berikut...
    (1) Tenagakerja
    (2) Kondisi geografis
    (3) Jumlah penduduk
    (4) Kemajuan teknologi
    (5) Sosial budaya
    Faktor-faktor yang mempengaruhi pertumbuhan wilayah adalah...
    (A) (1), (2), dan (3)
    (B) (1), (2), dan (4)
    (C) (2), (3), dan (4)
    (D) (2), (3), dan (5)
    (E) (3), (4), dan (5)

Petunjuk B dipergunakan dalam menjawab soal nomor 31 sampai dengan nomor 35.

31. Pembangunan Kawasan Industri Piyungan (KIP) membutuhkan pekerja konstruksi yang membutuhkan tempat tinggal dan warung untuk makan disebut dengan *spread effect*.
    SEBAB
    Spread effect diciptakan oleh sektor-sektor yang saling terkait dan saling mendukung.

32. Ketimpangan antar daerah di Indonesia secara umum sering digambarkan sebagai suatu pola pertentangan antara Pulau Jawa dan Pulau Sumatera.
    SEBAB
    Lokasi Pulau Jawa dan Pulau Sumatera secara geografis berdekatan.

33. kampungsoal.com
34. kampungsoal.com
35. kampungsoal.com

Petunjuk C dipergunakan dalam menjawab soal nomor 36 sampai dengan nomor 40.

36. Seringkali dijumpai pada suatu wilayah terdapat kasus air tanah berasa asin dan bersifat sadah tetap yang disebabkan oleh berbagai faktor, antara lain...
    (1) jebakan air laut akibat proses sedimentasi lempung marin
    (2) jebakan garam hasil evaporasi air laut dalam kubah garam
    (3) laguna pasang surut yang terkubur oleh sedimentasi fluvial
    (4) intrusi air laut ke dalam akuifer di wilayah Kepesisiran

37. Kawasan yang mengalami *liquefaction* setelah terjadinya gempabumi disebabkan oleh...
    (1) kondisi tanah jenuh
    (2) air tanah relatif dangkal
    (3) pori-pori tanah lebar
    (4) tekstur lempung berdebu

38. kampungsoal.com
39. kampungsoal.com
40. kampungsoal.com

kampungsoal.com

<u>Petunjuk A</u> dipergunakan dalam menjawab soal nomor 41 sampai dengan nomor 47

41. Permintaan terhadap barang yang dihasilkan dan dijual oleh sebuah perusahaan diketahui bersifat inelastis. Kebijakan yang tepat untuk ditempuh oleh perusahaan itu dalam upaya menaikkan penerimaan total dari penjualan barangnya ialah
    (A) menaikkan harga jual barang
    (B) menurunkan harga jual barang
    (C) menggencarkan periklanan
    (D) memangkas belanja iklan
    (E) membuka lebih banyak gerai penjualan

42. Berikut adalah tabel produksi 2 negara dalam unit/hari:

Negara	Mobil	Kulkas
Indonesia	40	60
Inggris	50	80

    Berdasarkan teori keunggulan komparatif, pola perdagangannya adalah ...
    (A) Indonesia mengimpor mobil dan kulkas
    (B) Indonesia mengimpor mobil dan mengekspor kulkas
    (C) Indonesia mengekspor mobil dan mengimpor kulkas
    (D) Inggris mengekspor mobil dan mengimpor kulkas
    (E) Inggris hanya mengimpor kulkas

43. Kemampuan yang dimiliki oleh suatu perusahaan yang memungkinkannya untuk mendapatkan keuntungan lebih besar daripada perusahaan-perusahaan lain di industrinya disebut ...
    (A) keuntungan absolut
    (B) keunggulan kompetitif
    (C) keunggulan komparatif
    (D) keunggulan berkelanjutan
    (E) tidak ada jawaban yang tepat

44. Strategi yang dibuat oleh departemen pemasaran dan departemen keuangan untuk mendukung strategi unit bisnis dimana ia berada tergolong dalam
    (A) strategi tingkat individual
    (B) strategi tingkat divisi
    (C) strategi tingkat unit bisnis
    (D) strategi tingkat fungsional
    (E) strategi tingkat korporasi

45. kampungsoal.com
46. kampungsoal.com
47. kampungsoal.com

Petunjuk B dipergunakan dalam menjawab soal nomor 48 sampai dengan nomor 53.

48. Kebijakan moneter ekspansif dapat meningkatkan output dalam jangka pendek.
    SEBAB
    Harga bersifat kaku dan investasi meningkat.

49. Apresiasi nilai tukar mata uang domestik dapat meningkatkan surplus perdagangan.
    SEBAB
    Nilai ekspor dan impor dipengaruhi oleh besar nilai tukar.

50. kampungsoal.com
51. kampungsoal.com
52. kampungsoal.com
53. kampungsoal.com

Petunjuk C dipergunakan dalam menjawab soal nomor 54 sampai dengan nomor 60.

54. kampungsoal.com
55. kampungsoal.com
56. kampungsoal.com

57. Suatu masyarakat sosial memiliki kumpulan nilai-nilai yang menjadi norma perilaku masyarakat tersebut. Hal tersebut merupakan ...
    (1) kekuatan sosial
    (2) budaya sosial
    (3) kekuatan regulasi
    (4) kepercayaan sosial

58. Amortisasi premium investasi obligasi diperlakukan sebagai ...
    (1) penambah pendapatan bunga
    (2) pengurang pendapatan bunga
    (3) penambah nilai buku investasi
    (4) pengurang nilai buku investasi

59. kampungsoal.com
60. kampungsoal.com

kampungsoal.com

Petunjuk A dipergunakan dalam menjawab soal nomor 61 sampai dengan nomor 70.

61. Salah satu tujuan sosialiasi adalah ...
    (A) memberikan keterampilan kepada seseorang untuk hidup bermasyarakat
    (B) memberikan keberanian kepada seseorang, untuk bersikap individual
    (C) menghindari sikap seseorang bersosialiasi
    (D) menghindari terjadi konflik
    (E) mengurangi ketegangan di dalam masyarakat

62. Pada sebuah tes uji coba Ujian Nasional, Rika merasa sedih karena nilai hasil ujiannya lebih rendah dibandingkan Sinta. Kemudian Rika belajar ekstra untuk meningkatkan nilainya supaya lebih tinggi dari Sinta.
    Peristiwa di atas merupakan contoh dari ...
    (A) stratifikasi sosial
    (B) kesadaran sosial
    (C) tindakan sosial
    (D) kepentingan sosial
    (E) semua jawaban benar

63. Perubahan sosial yang dialami masyarakat suku Badui Dalam lebih lambat ketimbang perubahan yang dialami oleh suku Badui Luar. Salah satu alasannya karena ...
    (A) kebijakan pemerintah pusat
    (B) kurangnya kontak dengan masyarakat lain
    (C) perbedaan tingkat pertumbungan penduduk
    (D) faktor kenyamanan
    (E) kondisi alam yang subur

64. Berikut ini yang merupakan contoh tindakan rasional instrumental adalah ...
    (A) Desi rajin puasa di hari Senin dan Kamis karena merupakan kebiasaan di rumahnya
    (B) Ridwan berlatih keras supaya dia memenangkan pertandingan badminton demi membanggakan keluarganya
    (C) Nia menolak untuk berpartisipasi dalam perlombaan olah raga karena dia merasa tidak percaya diri
    (D) Lala senang sekali mengikuti aktivitas naik gunung bersama teman-temannya karena selalu membuat dia rileks
    (E) Ria menangis tersedu-sedu karena dituduh mencuri

65. kampungsoal.com
66. kampungsoal.com
67. kampungsoal.com
68. kampungsoal.com
69. kampungsoal.com
70. kampungsoal.com

Petunjuk B dipergunakan dalam menjawab soal nomor 71 sampai dengan nomor 75.

71. Semakin kaya seseorang maka akan semakin tinggi status sosialnya.
    SEBAB
    Seseorang guru meskipun tidak kaya tetapi sangat dihormati di lingkungan sosialnya.

72. Pada masyarakat feodal, seseorang anak buruh tani tidak memiliki kemampuan untuk melakukan mobilitas sosial vertikal.
    SEBAB
    E-commerce telah membuka peluang bisnis, peningkatan penghasilan, dan bahkan mobilitas sosial vertikal bagi warga di desa-desa, sepanjang mereka bisa mengakses internet.

73. kampungsoal.com
74. kampungsoal.com
75. kampungsoal.com

Petunjuk C dipergunakan dalam menjawab soal nomor 76 sampai dengan nomor 80.

76. Tidak semua kelompok dapat dikategorisasikan sebagai kelompok sosial. Selain prasyarat interaksi, ada prasyarat lainnya agar kelompok tersebut diintegrasikan sebagai kelompok sosial, yaitu ...
    (1) memiliki faktor pengikat
    (2) hubungan bersifat searah
    (3) memiliki pola perilaku yang sama
    (4) memiliki sistem

77. Pernyataan di bawah ini yang benar adalah ...
    (1) urbanisasi adalah suatu bentuk mobilitas sosial
    (2) urbanisasi adalah suatu bentuk mobilitas sosial horizontal
    (3) urbanisasi bukan suatu bentuk mobilitas sosial vertikal
    (4) urbanisasi tidak berkaitan dengan mobilitas sosial

78. kampungsoal.com
79. kampungsoal.com
80. kampungsoal.com

kampungsoal.com

SEJARAH

1. kampungsoal.com
2. kampungsoal.com
3. kampungsoal.com

4. **Jawab : E**
   Kesultanan Ternate dan Tidore yang merupakan dua kerajaan terbesar di Kepulauan Maluku yang sedang berseteru. Portugis memanfaatkan situasi ini dengan mendukung Ternate. Penguasa Ternate saat itu, Sultan Bayanullah, berjanji akan menyerahkan monopoli perdagangan rempah-rempah kepada Portugis. Di sisi lain, tidak ada pilihan lagi bagi Spanyol kecuali berpihak kepada Kesultanan Tidore. Maka, pecahlah perang berkepanjangan di tanah Maluku, yang melibatkan dua kesultanan serumpun dengan dibantu oleh dua kelompok asing yang sebenarnya juga bertetangga.

5. kampungsoal.com
6. kampungsoal.com
7. kampungsoal.com
8. kampungsoal.com
9. kampungsoal.com
10. kampungsoal.com
11. kampungsoal.com
12. kampungsoal.com
13. kampungsoal.com

14. **Jawab : E**
    Amerika Serikat dan Uni Soviet mendeklarasikan berakhirnya Perang Dingin setelah berbincang dua hari di Pertemuan Puncak Malta. Sedangkan keruntuhan tembok Berlin disebabkan dampak perjanjian tersebut.
    Beberapa pengaruh yang menyebabkan Jerman Barat dan Timur mengadakan reunifikasi antara lain kebijakan dari Mikhail Gorbachev telah berdampak bagi kehidupan di Jerman Timur, keadaan ekonomi yang semakin buruk, penindasan yang dilakukan oleh penguasa Jerman Timur.

15. kampungsoal.com
16. kampungsoal.com
17. kampungsoal.com
18. kampungsoal.com

19. **Jawab : B**
    Beberapa kebijakan Deandels :
    - Membangun ketentaraan dan fasilitas ketentaraan seperti benteng, pabrik senjata di Semarang dan Surabaya dan rumah sakit tentara.
    - Menerapkan sistem kerja paksa (kerja rodi) dan membangun fasilitas pemerintahan.
    - Membangun jalan pos Anyer-Panarukan sepanjang 1.000 km, sehingga dibutuhkan mobilisasi tenaga kerja yang banyak untuk kepentingan pembangunan.
    - Membangun pelabuhan di Anyer dan Ujung Kulon dan membuat kapal perang berukuran kecil.
    - Melakukan penjualan tanah rakyat kepada swasta atau pihak asing.
    - Mewajibkan Prianger stelsel, atau mewajibkan rakyat Priangan menanam kopi.

    Sementara itu, kalangan priyai tidak lagi dianggap berkelas, karena Deandels menganut sistem liberal yang memberikan kewenangan kebebasan bagi siapa saja yang mampu membayar pajak.

20. kampungsoal.com

Kampungsoal.com

21. kampungsoal.com
22. kampungsoal.com
23. kampungsoal.com
24. kampungsoal.com
25. kampungsoal.com
26. kampungsoal.com
27. kampungsoal.com
28. kampungsoal.com

29. **Jawab : B**
    a. *Urban annexation*: perluasan kota karena adanya penggabungan beberapa kota menjadi satu kota besar.
    b. *Urban reclassification*: proses perumusan kembali batas-bats administrasi kota dengan cara memperluas wilayahnya dengan tujuan mengakomodasikan permukiman maupun struktur-struktur kegiatan di masa yang akan dating.
    c. *Urban sprawl*: gejala pengaruh sifat fisik kekotaan ke arah luar.
    d. *Urbanization*: perpindahan penduduk dari desa ke kota dan dari kota kecil ke kota besar
    e. *Urban transformation*: perubahan dan pergeseran karakteristik dari komponen wilayah dalam kurun waktu tertentu

30. kampungsoal.com

31. **Jawab : B**
    Spread effect adalah efek penyebaran pembangunan dari kota besar/pusat pertumbuhan ke daerah kecil/sekitarnya.
    Kebalikannya, ada *backwash effect*, yaitu efek yang dirasakan daerah kecil yang baru berkembang masuk ke dalam pusat pertumbuhan.
    Piyungan adalah sebuah kecamatan di Kabupaten Bantul, berbatasan dengan Kota Yogyakarta, Kabupaten Sleman dan Kabupaten Gunungkidul. Diasumsikan bahwa pembangungan industri piyungan dipengaruhi efek penyebaran pembangunan dari Kota Yogyakarta dan Kabupaten Sleman.
    Pekerja kontruksi membutuhkan tempat tinggal dan makan juga akan meningkatkan ekonomi daerah sekitar.

32. kampungsoal.com
33. kampungsoal.com
34. kampungsoal.com
35. kampungsoal.com

36. **Jawab : E**
    Air asin di dalam akuifer dapat berasal dari
    a. Air laut di daerah pantai,
    b. Air laut yang terperangkap dalam lapisan batuan yang diendapkan selama proses geologi,
    c. Garam di dalam kubah garam, lapisan tipis atau tersebar di dalam formasi geologi (batuan),
    d. Air yang terkumpul oleh penguapan di laguna, empang atau tempat-tempat lain yang terisolasi,
    e. Aliran balik ke sungai dari lahan irigasi,
    f. Limbah asin dari manusia.

37. kampungsoal.com
38. kampungsoal.com
39. kampungsoal.com
40. kampungsoal.com

kampungsoal.com

41. kampungsoal.com

42. **Jawab : C**
Dalam teori keunggulan komperatif dijelaskan bahwa pertukaran akan terjadi dan menguntungkan bila masing – masing negara mempunyai keunggulan pada barang masing masing. Dalam kasus diatas Inggris mempunyai keunggulan mutlak terhadap dua jenis produk. Namun agar tetap terjadi pertukaran barang yang saling menguntungkan, maka dapat dilakukan dengan mengkomparasi unit barang antar produk produk tersebut dengan cara membagi produk kulkas dengan produk mobil, dengan hasil sebagai berikut :

Negara	Mobil	Kulkas
Inggris	1	1,5
Indonesia	1	1,6

Harga 1,5 kulkas di Inggris sama dengan harga 1 unit mobil, sedangkan harga 1,6 kulkas di Indonesia sama dengan 1 unit mobil. Maka harga kulkas di Inggris lebih murah dari Indonesia karena 1,5 kulkas di Inggris sudah dapat membeli 1 unit mobil, sedangkan harga mobil di Indonesia lebih murah dari Inggris, karena 1 unit mobil dapat mebeli 1,6 unit kulkas. Jadi perdagangan internasionalnya adalah Indonesia impor kulkas dari Inggris, dan Inggris impor mobil dari Indonesia.

43. kampungsoal.com
44. kampungsoal.com
45. kampungsoal.com
46. kampungsoal.com
47. kampungsoal.com

48. **Jawab : A**
Kebijakan moneter ekspansif dapat meningkatkan output dalam jangka pendek sebab harga bersifat kaku dan investasi meningkat. Pernyataan dan alasan tersebut betul dan memiliki hubungan sebab akibat karena, pada saat pemerintah menerapkan kebijakan ekonomi ekspansif maka harga akan cenderung bersifat kaku untuk menciptakan terjadinya stabilitas harga dan investasi akan meningkat karena pada saat pemerintah menerapkan kebijakan moneter ekspansif pemerintah akan menurunkan tingkat suku bunga, sehingga aka mendorong masyarakat semakin banyak untuk meminjam ke bank maka tingkat investasi di masyarakat juga akan meningkat. Namun, hal tersebut hanya akan meningkatkan output dalam jangka pendek, karena dala jangka panjang hal tersebut akan dapat menyebabkan terjadinya inflasi.

49. kampungsoal.com
50. kampungsoal.com
51. kampungsoal.com
52. kampungsoal.com
53. kampungsoal.com
54. kampungsoal.com
55. kampungsoal.com
56. kampungsoal.com

57. **Jawab : A**
Pernyataan nomor 1 benar karena kekuatan sosial merupakan suatu nilai yang disepakati oleh masyrakat sebagai acuan untuk melakukan kegiatan sosial. Pernyataan nomor 2 benar karena budaya sosial merupakan suatu asas yang melandasi pola tindak masayarakat. Dan pernyataan nomor 3 benar karena kekuatan regulasi merupakan suatu peraturan yang dibuat untuk membantu mengendalikan suatu kelompok, lembaga/ organisasi, dan masyarakat demi mencapai tujuan tertentu dalam kehidupan bersama, bermasyarakat, dan bersosialisasi.

58. kampungsoal.com
59. kampungsoal.com
60. kampungsoal.com

kampungsoal.com

61. kampungsoal.com

62. **Jawab : C**
    - Stratifikasi sosial adalah perbedaan vertikal yang memicu munculnya hierarki dan kelas-kelas sosial di masyarakat.
    - Kesadaran sosial (Social Awareness) adalah cara individu untuk menganalisa, mengingat dan menggunakan informasi mengenai kejadian atau peristiwa-peristiwa sosial.
    - *Social action* adalah perilaku yang dilakukan oleh individu dengan pertimbangan interpretatif atas situasi, intraksi, dan hubungan sosial dikaitkan dengan preferensi nilai, kepercayaan, minat, emosi, kekasaan, otoritas, kultur, kesepakatan, ide, kebiasaan, atau lainnya yang dimiliki oleh individu.
    - Kepentingan sosial adalah pertanyaan atau kepentingan yang dihadapi seseorang.

63. kampungsoal.com
64. kampungsoal.com
65. kampungsoal.com
66. kampungsoal.com
67. kampungsoal.com
68. kampungsoal.com
69. kampungsoal.com
70. kampungsoal.com
71. kampungsoal.com

72. **Jawab : B**
    Pada masyarakat yang menganut sistem kasta (feodal), bila seseorang lahir dari kasta yang paling rendah untuk selamanya ia tetap berada pada kasta yang rendah.
    Saat ini hampir seluruh masyarakat di Indonesia terbebas dari sistem feodal. Sehingga siapapun yang memiliki akses untuk mobilitas vertikal, maka orang tersebut akan langsung diakui oleh masyarakat.

73. kampungsoal.com
74. kampungsoal.com
75. kampungsoal.com

76. **Jawab : B**
    Syarat adanya kelompok sosial yaitu :
    - Setiap anggota kelompok sadar bahwa dia merupakan bagian dari kelompok yang bersangkutan.
    - Ada hubungan timbal balik antara anggota yang satu dengan anggota yang lainnya., tidak satu arah.
    - Ada suatu faktor yang dimiliki bersama, sehingga hubungan antara mereka bertambah erat.
    - Berstruktur, berkaidah, dan mempunyai pola perilaku.
    - Bersistem dan berproses.

77. kampungsoal.com
78. kampungsoal.com
79. kampungsoal.com
80. kampungsoal.com

kampungsoal.com

UJIAN MASUK UNIVERSITAS GADJAH MADA

PREDIKSI 2020

kampungsoal.com

NASKAH UJIAN

TES KEMAMPUAN SOSHUM

SEJARAH, GEOGRAFI, EKONOMI, SOSIOLOGI

▪ ▪ ▪

TANGGAL UJIAN : JULI 2020
WAKTU : 90 menit
JUMLAH SOAL : 80

<u>Petunjuk A</u> dipergunakan dalam menjawab soal nomor 1 sampai dengan nomor 12

1. Unsur Sinkritisme antara kebudayaan Hindu-Jawa dan Islam juga nampak dalam karya sastra di bawah ini, kecuali

   (A) Babad Tanah Jawi
   (B) Serat Centhini
   (C) Serai Wedhatama
   (D) Hikayat Amir Hamzah
   (E) Serat Cabolek

2. kampungsoal.com
3. kampungsoal.com
4. kampungsoal.com
5. kampungsoal.com
6. kampungsoal.com
7. kampungsoal.com
8. kampungsoal.com
9. kampungsoal.com
10. kampungsoal.com
11. kampungsoal.com
12. kampungsoal.com

<u>Petunjuk B</u> dipergunakan dalam menjawab soal nomor 13 sampai dengan nomor 16

13. Sejak Pelita I, azas pemerintah dituangkan dalam Delapan Jalur Pemerataan.

    SEBAB

    Salah satu unsur Trilogi Pembangunan adalah Pemerataan pembangunan dan hasil-hasilnya.

14. kampungsoal.com
15. kampungsoal.com
16. kampungsoal.com

<u>Petunjuk C</u> dipergunakan dalam menjawab soal nomor 17 sampai dengan nomor 20

17. Dasar integrasi Timor-Timur yang menjadi propinsi ke-27 diantaraya adalah
    (1) Pernyatan pemerintah Portugis
    (2) Kehendak rakyat Timor-Timur
    (3) Tap MPR No. VII/MPR/1978
    (4) Pernyataan pemerintah Indonesia menerima integrasi

18. kampungsoal.com
19. kampungsoal.com
20. kampungsoal.com

kampungsoal.com

<u>Petunjuk A</u> dipergunakan dalam menjawab soal nomor 21 sampai dengan nomor 30.

21. Stasiun pencatat gempa A mencatat gelombang primer suatu gempa pukul 19.24'17'' dan gelombang sekunder pukul 19.28'37''. Jadi jarak episentrum gempa dari stasiun A
    (A) 3900 km
    (B) 3700 km
    (C) 3600 km
    (D) 3500 km
    (E) 3300 km

22. kampungsoal.com
23. kampungsoal.com
24. kampungsoal.com
25. kampungsoal.com
26. kampungsoal.com
27. kampungsoal.com
28. kampungsoal.com
29. kampungsoal.com
30. kampungsoal.com

<u>Petunjuk B</u> dipergunakan dalam menjawab soal nomor 31 sampai dengan nomor 35.

31. Tanaman lada yang menghasilkan lada putih sama dengan tanaman lada yang meghasilkan lada hitam.

    SEBAB

    Tanaman lada putih tumbuh di daerah dataran tinggi, sedangkan tanaman lada hitam tumbuh di dataran rendah.

32. kampungsoal.com
33. kampungsoal.com
34. kampungsoal.com
35. kampungsoal.com

<u>Petunjuk C</u> dipergunakan dalam menjawab soal nomor 36 sampai dengan nomor 40

36. Sensus Penduduk Indonesia tahun 2000, dilaksanakan dengan sistem
    (1) De facto
    (2) De jure
    (3) De facto dan de jure
    (4) De jure pada daerah pedesaan

37. kampungsoal.com
38. kampungsoal.com
39. kampungsoal.com
40. kampungsoal.com

kampungsoal.com

<u>Petunjuk A</u> dipergunakan dalam menjawab soal nomor 41 sampai dengan nomor 50

41. Permintaan air bersih di suatu kota kecil P = 112 – Q. Biaya produksi perusahaan monopoli air bersih setempat dinyatakan sebagai suatu fungsi TC = 1000 + 2Q. Jika pemerintah sebagai regulator disuatu sisi bertujuan memaksimumkan output air bersih sementara di sisi lain juga harus menjamin tingkat keuntungan yang adil kepada perusahaan air bersih, harga air bersih akan ditentukan sebesar (P = harga, Q = output)
    (A) 10
    (B) 12
    (C) 57
    (D) 102
    (E) 110

42. kampungsoal.com
43. kampungsoal.com
44. kampungsoal.com
45. kampungsoal.com
46. kampungsoal.com
47. kampungsoal.com
48. kampungsoal.com
49. kampungsoal.com
50. kampungsoal.com

<u>Petunjuk B</u> dipergunakan dalam menjawab soal nomor 51 sampai dengan nomor 55

51. Perusahaan akan tutup usahanya jika biaya variabel lebih besar dari penerimaan (revenue) yang diperoleh.

    SEBAB

    Perusahaan akan menderita rugi sebesar biaya tetap yang semakin besar jika baiya variabel lebih besar daripada penerimaan (revenue) yang diperoleh.

52. kampungsoal.com
53. kampungsoal.com
54. kampungsoal.com
55. kampungsoal.com

<u>Petunjuk C</u> dipergunakan dalam menjawab soal nomor 56 sampai dengan nomor 60

56. Meningkatkan jumlah dan mutu produksi dapat dilakukan dengan cara
    (1) Ekstensifikasi
    (2) Intensifikasi
    (3) Diversifikasi
    (4) Spesialisasi

57. kampungsoal.com
58. kampungsoal.com
59. kampungsoal.com
60. kampungsoal.com

kampungsoal.com

Petunjuk A dipergunakan dalam menjawab soal nomor 61 sampai dengan nomor 75

61. Perhatikan pernyataan di bawah ini:
    1. Terjadinya segmentasi ke dalam bentuk-bentuk kelompok sosial
    2. Memiliki pembagian struktur sosial ke dalam lembaga-lembaga yang bersifat non-komplementer.
    3. Terjadinya pengembangan konsensus (kesepakatan bersama).
    4. Relatif sering terjadi konflik.
    5. Secara relatif, integrasi sosial tumbuh karena paksaan dan saling ketergantungan di bidang ekonomi.
    6. Tidak adanya dominasi politik

    Yang bukan merupakan karakteristik masyarakat multikultural menurut Van Den Berghe adalah.
    (A) 1 dan 4
    (B) 5 dan 6
    (C) 1 dan 2
    (D) 3 dan 2
    (E) 3 dan 6

62. kampungsoal.com
63. kampungsoal.com
64. kampungsoal.com
65. kampungsoal.com
66. kampungsoal.com
67. kampungsoal.com
68. kampungsoal.com
69. kampungsoal.com
70. kampungsoal.com
71. kampungsoal.com
72. kampungsoal.com
73. kampungsoal.com
74. kampungsoal.com
75. kampungsoal.com

Petunjuk B dipergunakan dalam menjawab soal nomor 76 sampai dengan nomor 78.

76. Rancangan penelitian adalah pokok-pokok perencanaan dari keseluruhan kegiatan penelitian dalam suatu naskah.

    SEBAB

    Rancangan penelitian menggambarkan seluruh aktivitas penelitian.

77. kampungsoal.com
78. kampungsoal.com

Petunjuk C dipergunakan dalam menjawab soal nomor 79 sampai dengan nomor 80.

79. Corak hubungan orang tua dengan anak yang akan menentukan proses sosialisasi serta perkembangan kepribadiannya adalah
    (1) Pola menerima-menolak
    (2) Pola demokrasi-otokrasi
    (3) Pola memiliki-melepaskan
    (4) Pola paternalistik-otokrasi

80. kampungsoal.com

kampungsoal.com

Buku Lainnya dari Tim KAMPUNG SOAL

Paket Soal Ujian Tulis Universitas Gadjah Mada

Paket Soal Ujian Masuk Universitas Diponegoro

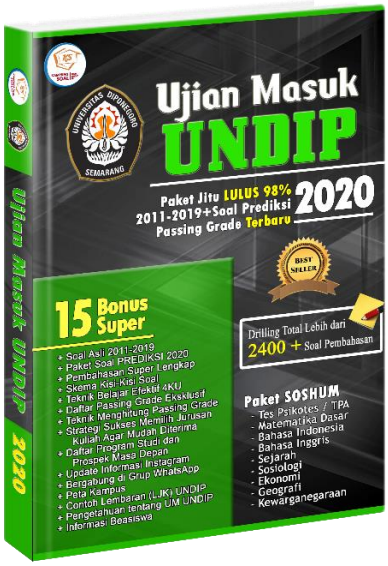

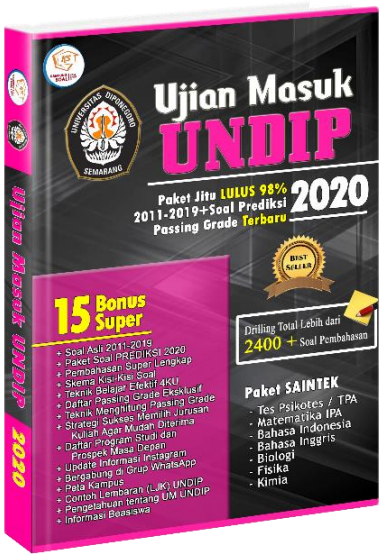

Paket Soal Seleksi Masuk Universitas Indonesia

.

KAMPUNG SOAL | UGM UNDIP UI

UNIVERSITAS DIPONEGORO SEMARANG

Ujian Masuk UNDIP

Paket Jitu LULUS 98%
2011-2019+Soal Prediksi
Passing Grade Terbaru
2020

BEST SELLER

15 Bonus Super

+ Soal Asli 2011-2019
+ Paket Soal PREDIKSI 2020
+ Pembahasan Super Lengkap
+ Skema Kisi-Kisi Soal
+ Teknik Belajar Efektif 4KU
+ Daftar Passing Grade Eksklusif
+ Teknik Menghitung Passing Grade
+ Strategi Sukses Memilih Jurusan Kuliah Agar Mudah Diterima
+ Daftar Program Studi dan Prospek Masa Depan
+ Update Informasi Instagram
+ Bergabung di Grup WhatsApp
+ Peta Kampus
+ Contoh Lembaran (LJK) UNDIP
+ Pengetahuan tentang UM UNDIP
+ Informasi Beasiswa

Drilling Total Lebih dari
2400 + Soal Pembahasan

Paket SOSHUM

- Tes Psikotes / TPA
- Matematika Dasar
- Bahasa Indonesia
- Bahasa Inggris
- Sejarah
- Sosiologi
- Ekonomi
- Geografi
- Kewarganegaraan

KAMPUNG SOAL | UGM UNDIP UI

BEST SELLER

Seleksi Masuk Universitas Indonesia

SIMAK UI 2020

Paket Lengkap Lulus 98%
Paket Soal Asli 2011-2019
Soal Prediksi Terbaru
Bonus Super Ekslusif

SOSHUM

- Matematika Dasar
- Bahasa Indonesia
- Bahasa Inggris
- Ekonomi
- Sejarah
- Geografi
- Sosiologi

Drilling Total Lebih dari
1700 + Soal Pembahasan

++BONUS SUPER++

+ SOAL ASLI 2011-2019
+ Paket Soal PREDIKSI 2020
+ Pembahasan Super Lengkap
+ Skema Kisi-Kisi Soal
+ Teknik Belajar Efektif 4KU
+ Daftar Passing Grade Eksklusif
+ Teknik Menghitung Passing Grade
+ Strategi Sukses Memilih Jurusan Kuliah Agar Mudah Diterima
+ Daftar Program Studi dan Prospek Masa Depan
+ Update Informasi Instagram
+ Contoh Lembaran (LJK) UI
+ Pengetahuan tentang Simak UI
+ Bergabung di Grup WhatsApp
+ Informasi Beasiswa
+ Peta Kampus